Q.1 **નીચે આપેલા સ્તંભ આલેખ (Bar Graph) નો અભ્યાસ કરો અને તેની નીચે આપેલા પ્રશ્નનો જવાબ આપો.**

આપેલો આલેખ સોફ્ટ ડ્રિંકની બોટલોનું વેચાણ (લાખમાં) દર્શાવે છે.

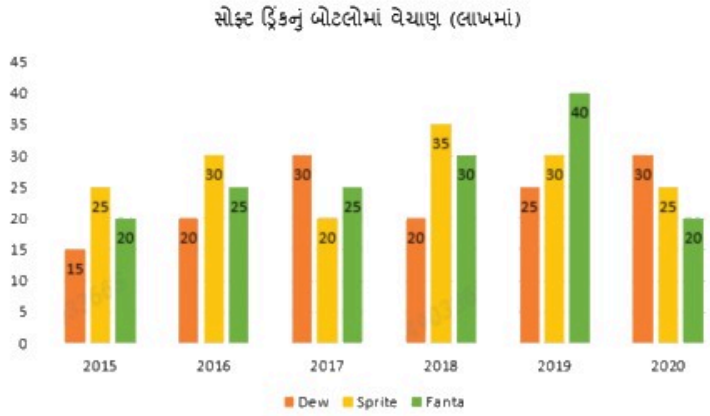

વર્ષ 2020 માં, વેચાયેલી 'સ્પ્રાઇટ' (Sprite) અને 'ડ્યુ' (Dew) ની બોટલોની સંખ્યા વચ્ચેનો તફાવત કેટલો હતો?

(સંદર્ભ : Dew - ડ્યુ, Sprite - સ્પ્રાઇટ, Fanta - ફેંટા)

Ans
- ✗ 1. 4.5 લાખ
- ✗ 2. 5.5 લાખ
- ✓ 3. 5 લાખ
- ✗ 4. 4 લાખ

Question Type : **MCQ**
Question ID : **441009623294**
Option 1 ID : **4410092447308**
Option 2 ID : **4410092447311**
Option 3 ID : **4410092447309**
Option 4 ID : **4410092447310**
Status : **Answered**
Chosen Option : **3**

WEBSANKUL ®

Downloaded from websankul.com

Q.2 જો દર્પણને બતાવ્યા પ્રમાણે MN પર રાખવામા આવે, તો કયો વિકલ્પ એ નીચે આપેલ આકૃતિ (figure)નું સાચું દર્પણ પ્રતિબિંબ હશે?

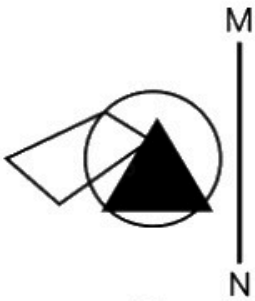

Ans

✔ 1.


✘ 2.


✘ 3.


✘ 4.


Question Type : **MCQ**
Question ID : **4410091981272**
Option 1 ID : **4410097803904**
Option 2 ID : **4410097803907**
Option 3 ID : **4410097803905**
Option 4 ID : **4410097803906**
Status : **Answered**
Chosen Option : **1**

WEBSANKUL ®

Downloaded from websankul.com

Q.3 B એ C ની બહેન છે. C એ Q નો પુત્ર છે. Q એ M નો પતિ છે. M એ K ની પુત્રી છે. તો B એ K સાથે કેવી રીતે સંબંધિત છે?

Ans
✔ 1. પુત્રીની પુત્રી
✘ 2. પતિની બહેન
✘ 3. પતિની માતા
✘ 4. પત્નીની બહેન

Question Type : **MCQ**
Question ID : **4410091355107**
Option 1 ID : **4410095352683**
Option 2 ID : **4410095352684**
Option 3 ID : **4410095352682**
Option 4 ID : **4410095352681**
Status : **Answered**
Chosen Option : **1**

Q.4 અમુક ચોક્કસ તર્કને અનુસરીને 4 એ 18 સાથે સંબંધિત છે. તે જ તર્કને અનુસરીને, 17 એ 291 સાથે સંબંધિત છે. સમાન તર્કને અનુસરીને 25 એ આપેલા વિકલ્પોમાંથી કયા વિકલ્પની સાથે સંબંધિત છે?

(નોંધ: સંખ્યાઓને તેમના ઘટક અંકોમાં વિભાજીત કર્યા વિના, પૂર્ણ સંખ્યાઓ પર ક્રિયાઓ (Operations) કરવાની રહેશે. દા.ત. 13 લો – 13 આ સંખ્યા પર ક્રિયાઓ, જેમ કે 13 માં સરવાળો/ બાદબાકી/ ગુણાકાર વગેરે પૂર્ણ 13 પર કરી શકાય છે. 13 ને 1 અને 3 માં જુદી પાડીને ત્યારબાદ 1 અને 3 પર ગાણિતિક ક્રિયાઓ કરવાની છૂટ નથી.)

Ans
✔ 1. 627
✘ 2. 628
✘ 3. 629
✘ 4. 625

Question Type : **MCQ**
Question ID : **4410091982466**
Option 1 ID : **4410097808677**
Option 2 ID : **4410097808680**
Option 3 ID : **4410097808678**
Option 4 ID : **4410097808679**
Status : **Answered**
Chosen Option : **1**

WEBSANKUL

Downloaded from websankul.com

Q.5 છ મિત્રો—અભય, બિલ્લુ, ચેતન, દિનેશ, એકમ અને ફાતિમા પૈકી દરેકે એક પરીક્ષામાં જુદા જુદા ગુણ મેળવ્યા. ચેતને અભય કરતાં ઓછા ગુણ મેળવ્યા. બિલ્લુએ અભય કરતાં વધુ ગુણ મેળવ્યા. દિનેશે ચેતન કરતાં ઓછા ગુણ મેળવ્યા. એકમે ફાતિમા કરતાં ઓછા ગુણ મેળવ્યા. એકમે બિલ્લુ કરતાં વધુ ગુણ મેળવ્યા. તે પરીક્ષામાં સૌથી ઓછા ગુણ મેળવનારાઓમાં ત્રીજા ક્રમે કોણ હતું?

Ans
✔ 1. અભય
✘ 2. ચેતન
✘ 3. બિલ્લુ
✘ 4. એકમ

Question Type : **MCQ**
Question ID : **4410091982329**
Option 1 ID : **4410097808126**
Option 2 ID : **4410097808127**
Option 3 ID : **4410097808129**
Option 4 ID : **4410097808128**
Status : **Answered**
Chosen Option : **1**

Q.6 31 એ અમુક ચોક્કસ તર્કને અનુસરીને 157 સાથે સંબંધિત છે. તે જ તર્કને અનુસરીને, 24 એ 122 સાથે સંબંધિત છે. સમાન તર્કને અનુસરીને 38 એ આપેલા વિકલ્પોમાંથી કયા વિકલ્પની સાથે સંબંધિત છે?

(નોંધ: સંખ્યાઓને તેમના ઘટક અંકોમાં વિભાજીત કર્યા વિના, પૂર્ણ સંખ્યાઓ પર ક્રિયાઓ (Operations) કરવાની રહેશે. દા.ત. 13 લો – 13 આ સંખ્યા પર ક્રિયાઓ, જેમ કે 13 માં સરવાળો/ બાદબાકી/ ગુણાકાર વગેરે પૂર્ણ 13 પર કરી શકાય છે. 13 ને 1 અને 3 માં જુદી પાડીને ત્યારબાદ 1 અને 3 પર ગાણિતિક ક્રિયાઓ કરવાની છૂટ નથી.)

Ans
✘ 1. 193
✔ 2. 192
✘ 3. 190
✘ 4. 194

Question Type : **MCQ**
Question ID : **4410091982465**
Option 1 ID : **4410097808676**
Option 2 ID : **4410097808673**
Option 3 ID : **4410097808675**
Option 4 ID : **4410097808674**
Status : **Answered**
Chosen Option : **2**

WEBSANKUL

Downloaded from websankul.com

Q.7 નીચે આપેલી શ્રેણીમાં પ્રશ્નચિહ્ન (?) નાં સ્થાને શું આવવું જોઈએ?

31 48 64 79 93 ?

Ans
✗ 1. 107
✓ 2. 106
✗ 3. 105
✗ 4. 108

Question Type : **MCQ**
Question ID : **4410091982434**
Option 1 ID : **4410097808543**
Option 2 ID : **4410097808542**
Option 3 ID : **4410097808541**
Option 4 ID : **4410097808544**
Status : **Answered**
Chosen Option : **2**

Q.8 નીચે આપેલું કોષ્ટક એક દુકાન દ્વારા એક અઠવાડીયામાં વેચાયેલી પેનની સંખ્યા દર્શાવે છે.

દિવસ	સોમવાર	મંગળવાર	બુધવાર	ગુરુવાર	
વેચાયેલી પેનની સંખ્યા	15	20	25	18	

તો સોમવારથી શુક્રવાર દરમિયાન વેચાયેલી પેનની કુલ સંખ્યા કેટલી હશે?

Ans
✗ 1. 120
✓ 2. 100
✗ 3. 80
✗ 4. 90

Question Type : **MCQ**
Question ID : **4410091348882**
Option 1 ID : **4410095327753**
Option 2 ID : **4410095327751**
Option 3 ID : **4410095327752**
Option 4 ID : **4410095327750**
Status : **Answered**
Chosen Option : **2**

WEBSANKUL

Downloaded from websankul.com

Q.9 10 એ અમુક ચોક્કસ તર્કને અનુસરીને 96 સાથે સંબંધિત છે. તે જ તર્કને અનુસરીને, 11 એ 117 સાથે સંબંધિત છે. સમાન તર્કને અનુસરીને 21 એ આપેલા વિકલ્પોમાંથી કયા વિકલ્પની સાથે સંબંધિત છે?

(નોંધ: સંખ્યાઓને તેમના ઘટક અંકોમાં વિભાજીત કર્યા વિના, પૂર્ણ સંખ્યાઓ પર ક્રિયાઓ (Operations) કરવાની રહેશે. દા.ત. 13 લો – 13 આ સંખ્યા પર ક્રિયાઓ, જેમ કે 13 માં સરવાળો/ બાદબાકી/ ગુણાકાર વગેરે પૂર્ણ 13 પર કરી શકાય છે. 13 ને 1 અને 3 માં જુદી પાડીને ત્યારબાદ 1 અને 3 પર ગાણિતિક ક્રિયાઓ કરવાની છૂટ નથી.)

Ans
✗ 1. 435
✗ 2. 438
✓ 3. 437
✗ 4. 439

Question Type : **MCQ**
Question ID : **4410091982464**
Option 1 ID : **4410097808671**
Option 2 ID : **4410097808672**
Option 3 ID : **4410097808669**
Option 4 ID : **4410097808670**
Status : **Answered**
Chosen Option : **3**

Q.10 નીચે આપેલી શ્રેણીમાં પ્રશ્નચિહ્ન '?' નાં સ્થાને શું આવવું જોઈએ?

67 84 102 121 141 ?

Ans
✗ 1. 164
✗ 2. 163
✓ 3. 162
✗ 4. 161

Question Type : **MCQ**
Question ID : **4410091982435**
Option 1 ID : **4410097808548**
Option 2 ID : **4410097808547**
Option 3 ID : **4410097808546**
Option 4 ID : **4410097808545**
Status : **Answered**
Chosen Option : **3**

WEBSANKUL®

Downloaded from websankul.com

Q.11 W, A, T, Y અને M, આ પાંચ મિત્રો ઉત્તર તરફ મુખ કરીને એક હરોળમાં બેસે છે. M હરોળના છેક ડાબા છેડે બેસે છે. W અને M ની વચ્ચે ફક્ત બે લોકો બેસે છે. T એ Y ની તરત જ ડાબી બાજુએ બેસે છે. _____ એ W ની તરત જ જમણી બાજુએ બેસે છે.

Ans
✗ 1. Y
✗ 2. T
✓ 3. A
✗ 4. M

Question Type : **MCQ**
Question ID : **4410092091057**
Option 1 ID : **4410098232224**
Option 2 ID : **4410098232226**
Option 3 ID : **4410098232225**
Option 4 ID : **4410098232227**
Status : **Answered**
Chosen Option : **3**

Q.12 નીચે આપેલા વિધાનો અને તારણોને કાળજીપૂર્વક વાંચો. ધારી લો કે વિધાનોમાં આપેલી માહિતી સાચી છે, ભલે તે સામાન્ય રીતે જાણીતા તથ્યોથી અલગ હોય, અને નક્કી કરો કે આપેલા તારણોમાંથી કયું તારણ/ કયા તારણો વિધાનોને તાર્કિક રીતે અનુસરે છે.
વિધાનો: કેટલાક પેન્ટ, શૂઝ છે. બધા શૂઝ, ટ્રાઉઝર છે. કેટલાક ટ્રાઉઝર, કેપ્સ છે.
તારણ (I): બધી કેપ્સ, પેન્ટ છે.
તારણ (II): બધી કેપ્સ, શૂઝ છે.

Ans
✗ 1. ફક્ત તારણ (I) અનુસરે છે.
✗ 2. (I) અને (II) બંને તારણો અનુસરે છે.
✗ 3. ફક્ત તારણ (II) અનુસરે છે.
✓ 4. ન તો તારણ (I) કે ન તો તારણ (II) અનુસરે છે.

Question Type : **MCQ**
Question ID : **4410091354960**
Option 1 ID : **4410095352077**
Option 2 ID : **4410095352080**
Option 3 ID : **4410095352078**
Option 4 ID : **4410095352079**
Status : **Answered**
Chosen Option : **4**

WEBSANKUL

Downloaded from websankul.com

Q.13 છ મિત્રો, અંકુશ, ગીતા, કુલદીપ, રીટા, ઉમેશ અને યોગી પૈકી દરેકની ઉંમર અલગ-અલગ છે. ગીતા એ અંકુશ કરતા નાની છે. ઉમેશ એ ગીતા કરતા નાનો છે. રીટા એ ઉમેશ કરતા નાની છે. યોગી એ કુલદીપ કરતા મોટો છે. યોગી એ રીટા કરતા નાનો છે. તો સૌથી નાનું કોણ છે?

Ans
✗ 1. ગીતા
✗ 2. રીટા
✗ 3. ઉમેશ
✓ 4. કુલદીપ

Question Type : **MCQ**
Question ID : **4410091982327**
Option 1 ID : **4410097808121**
Option 2 ID : **4410097808119**
Option 3 ID : **4410097808120**
Option 4 ID : **4410097808118**
Status : **Answered**
Chosen Option : **4**

Q.14 આપેલી આકૃતિનો ધ્યાનપૂર્વક અભ્યાસ કરો અને પ્રશ્નોના જવાબ આપો. જુદા જુદા વિભાગોમાં દર્શાવેલી સંખ્યાઓ વ્યક્તિઓની સંખ્યા દર્શાવે છે. (નોંધ: સામાન્ય રીતે જાણીતા તથ્યો કરતાં અલગ જણાતી હોય તો પણ તમારે આપેલી માહિતીને સાચી માનવાની રહેશે)

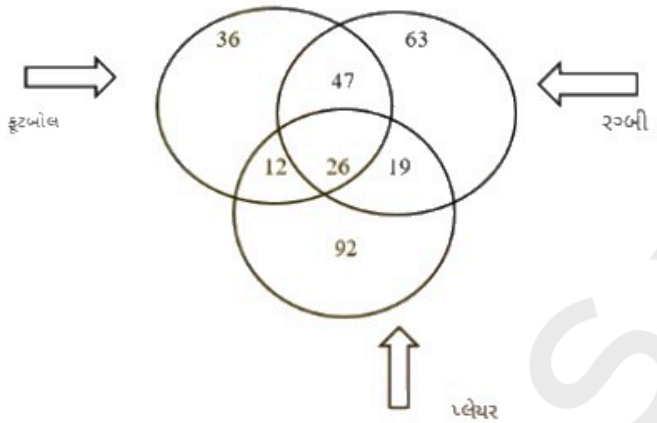

એવા કેટલા પ્લેયર છે જે રગ્બી રમે છે પરંતુ ફૂટબોલ રમતા નથી?

Ans
✗ 1. 12
✓ 2. 19
✗ 3. 26
✗ 4. 47

Question Type : **MCQ**
Question ID : **4410091354939**
Option 1 ID : **4410095351999**
Option 2 ID : **4410095352000**
Option 3 ID : **4410095351997**
Option 4 ID : **4410095351998**
Status : **Answered**
Chosen Option : **2**

WEBSANKUL
Downloaded from websankul.com

Q.15 જો નીચે આપેલા સમીકરણમાં '+' અને '−' ની પરસ્પર અદલાબદલી કરવામાં આવે તથા '×' અને '÷' ની પરસ્પર અદલાબદલી કરવામાં આવે, તો સમીકરણમાં પ્રશ્નચિહ્ન '?' ના સ્થાને શું આવશે?
15 + 8 × 4 − 6 ÷ 3 = ?

Ans
✗ 1. 20
✗ 2. 22
✗ 3. 27
✓ 4. 31

Question Type : **MCQ**
Question ID : **4410091972589**
Option 1 ID : **4410097769384**
Option 2 ID : **4410097769386**
Option 3 ID : **4410097769387**
Option 4 ID : **4410097769385**
Status : **Answered**
Chosen Option : **4**

Q.16 એક ચોક્કસ સાંકેતિક ભાષામાં,
A + B નો અર્થ થાય છે કે 'A એ B નો પુત્ર છે',
A - B નો અર્થ થાય છે કે 'A એ B નો ભાઈ છે',
A @ B નો અર્થ થાય છે કે 'A એ B ની પત્ની છે',
A % B નો અર્થ થાય છે કે 'A એ B ના પિતા છે'.

આપેલી માહિતી આધારે , જો 'A - H @ V + B % D' હોય તો A અને D કેવી રીતે સંબંધિત છે?

Ans
✓ 1. ભાઈની પત્નીનો ભાઈ
✗ 2. ભાઈની પત્નીના પિતા
✗ 3. પત્નીના પિતા
✗ 4. પત્નીનો ભાઈ

Question Type : **MCQ**
Question ID : **44100931359**
Option 1 ID : **441009124932**
Option 2 ID : **441009124933**
Option 3 ID : **441009124935**
Option 4 ID : **441009124934**
Status : **Answered**
Chosen Option : **1**

WEBSANKUL

Downloaded from websankul.com

Q.17 જો આકૃતિમાં દર્શાવ્યા પ્રમાણે જળ સ્ત્રોતને X-Y રેખા પર રાખવામાં આવે, તો નીચેનામાંથી કયો વિકલ્પ આપેલી આકૃતિનું સાચું જળ પ્રતિબિંબ (water reflection) દર્શાવે છે?

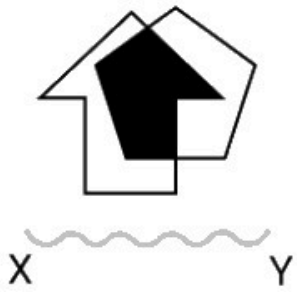

Ans

✔ 1.
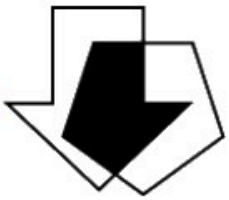

✘ 2.


✘ 3.


✘ 4.
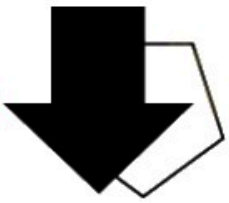

Question Type : **MCQ**
Question ID : **4410091471826**
Option 1 ID : **4410095815184**
Option 2 ID : **4410095815185**
Option 3 ID : **4410095815186**
Option 4 ID : **4410095815183**
Status : **Answered**
Chosen Option : **1**

WEBSANKUL ®

Downloaded from websankul.com

Q.18 જો '+' અને '-' ની પરસ્પર અદલાબદલી કરવામાં આવે અને '×' અને '÷' ની પરસ્પર અદલાબદલી કરવામાં આવે, તો નીચેના સમીકરણમાં '?' ના સ્થાને શું આવશે?

10 + 12 × 4 - 16 ÷ 2 = ?

Ans
✔ 1. 39
✘ 2. 22
✘ 3. 28
✘ 4. 34

Question Type : **MCQ**
Question ID : **4410091972619**
Option 1 ID : **4410097769503**
Option 2 ID : **4410097769500**
Option 3 ID : **4410097769501**
Option 4 ID : **4410097769502**
Status : **Answered**
Chosen Option : **1**

Q.19 નીચે આપેલા વિધાનો અને તારણોને કાળજીપૂર્વક વાંચો. ધારી લો કે વિધાનોમાં આપેલી માહિતી સાચી છે, ભલે તે સામાન્ય રીતે જાણીતા તથ્યોથી અલગ હોય, અને નક્કી કરો કે આપેલા તારણોમાંથી કયું તારણ/ કયા તારણો વિધાનોને તાર્કિક રીતે અનુસરે છે.
વિધાનો: કેટલાક ઝરખ (hyenas), શિયાળ (foxes) છે. બધા શિયાળ (foxes), જેકલ (jackals) છે.
તારણ (I) : કેટલાક જેકલ (jackals), ઝરખ (hyenas) છે.
તારણ (II) : બધા જ શિયાળ (foxes), ઝરખ (hyenas) છે.

Ans
✘ 1. ફક્ત તારણ (II) અનુસરે છે.
✘ 2. ન તો તારણ (I) કે ન તો તારણ (II) અનુસરે છે.
✘ 3. (I) અને (II) બંને તારણો અનુસરે છે.
✔ 4. ફક્ત તારણ (I) અનુસરે છે.

Question Type : **MCQ**
Question ID : **4410091354970**
Option 1 ID : **4410095352118**
Option 2 ID : **4410095352119**
Option 3 ID : **4410095352120**
Option 4 ID : **4410095352117**
Status : **Answered**
Chosen Option : **3**

WEBSANKUL

Downloaded from websankul.com

Q.20 બે શાળાઓ A અને B માં અનુક્રમે 250 અને 200 વિદ્યાર્થીઓ છે, અને તેઓના મનપસંદ વિષયોની વહેંચણી ટકાવારીવાર (percentage wise) દર્શાવેલી છે.

School -A



School -B



સંદર્ભ:-
School A - શાળા A, School B - શાળા B
History - ઇતિહાસ, Mathemtics - ગણિત, English - અંગ્રેજી, Science - વિજ્ઞાન

શાળા A અને શાળા B માં મળીને કુલ કેટલા વિદ્યાર્થીઓએ ઇતિહાસ વિષયને પોતાનો મનપસંદ વિષય પસંદ કર્યો છે?

Ans
✗ 1. 88
✗ 2. 85
✗ 3. 91
✓ 4. 95

Question Type : **MCQ**
Question ID : **4410091239802**
Option 1 ID : **4410094892659**
Option 2 ID : **4410094892658**
Option 3 ID : **4410094892660**
Option 4 ID : **4410094892661**

WEBSANKUL ®

Downloaded from websankul.com

Status : **Answered**
Chosen Option : **4**

Q.21 આપેલ આકૃતિનો ધ્યાનપૂર્વક અભ્યાસ કરો અને પ્રશ્નોના ઉત્તર આપો. વિવિધ ભાગોમાં આપેલી સંખ્યાઓ વ્યક્તિઓની સંખ્યા દર્શાવે છે. (નોંધ: આપેલી માહિતી સામાન્ય રીતે જાણીતા તથ્યોથી અલગ જણાતી હોય તો પણ તમારે તેને સાચી જ માનવાની રહેશે.)

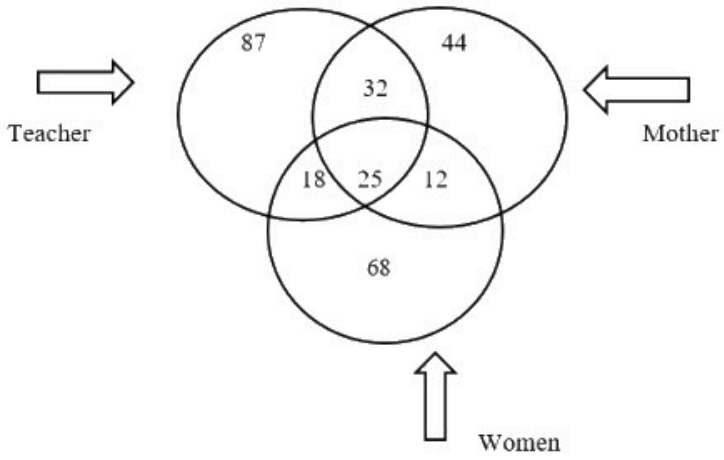

એવી કેટલી મહિલાઓ છે જે શિક્ષકો પણ છે પરંતુ માતાઓ નથી?
સંદર્ભ:
Teacher : શિક્ષક
Woman : મહિલા
Mother : માતા

Ans
✗ 1. 25
✗ 2. 12
✗ 3. 32
✓ 4. 18

Question Type : **MCQ**
Question ID : **4410091354934**
Option 1 ID : **4410095351977**
Option 2 ID : **4410095351980**
Option 3 ID : **4410095351978**
Option 4 ID : **4410095351979**
Status : **Answered**
Chosen Option : **4**

WEBSANKUL ®

Downloaded from websankul.com

Q.22 જ્યારે અરીસાને નીચે દર્શાવ્યા મુજબ MN પર રાખવામાં આવે, ત્યારે આપેલી આકૃતિનું સાચું દર્પણ પ્રતિબિંબ પસંદ કરો.

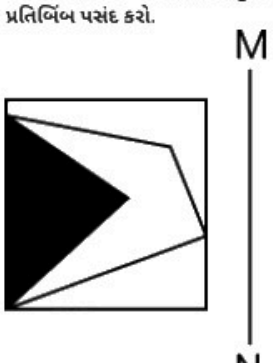

Ans

✗ 1.



✔ 2.



✗ 3.



✗ 4.



Question Type : **MCQ**
Question ID : **4410091981256**
Option 1 ID : **4410097803846**
Option 2 ID : **4410097803847**
Option 3 ID : **4410097803844**
Option 4 ID : **4410097803845**
Status : **Answered**
Chosen Option : **2**

WEBSANKUL ®

Downloaded from websankul.com

Q.23 આપેલા વિકલ્પોમાંથી એ આકૃતિને શોધો, જેને નીચે પ્રશ્નચિહ્ન (?)ના સ્થાને મૂકવાથી શ્રેણી તાર્કિક રીતે પૂર્ણ થશે.

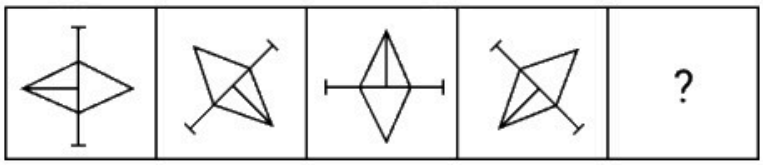

Ans

✗ 1.

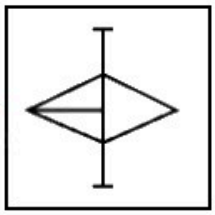

✗ 2.

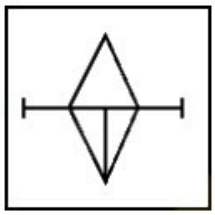

✔ 3.

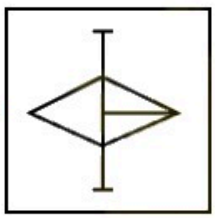

✗ 4.



Question Type : **MCQ**
Question ID : **4410091605236**
Option 1 ID : **4410096438975**
Option 2 ID : **4410096438976**
Option 3 ID : **4410096438974**
Option 4 ID : **4410096438977**
Status : **Answered**
Chosen Option : **3**

WEBSANKUL ®

Downloaded from websankul.com

Q.24 પાંચ સહકર્મીઓ - કબીર, લતિકા, મેઘા, નિતિન અને ઓમ - નું વજન અલગ-અલગ છે. નિતિનનું વજન મેઘા કરતાં વધારે છે. લતિકાનું વજન મેઘા કરતાં ઓછું છે. ફક્ત ઓમનું વજન નિતિન કરતાં વધારે છે. લતિકાનું વજન સૌથી ઓછું નથી. વજનની દ્રષ્ટિએ ત્રીજી સૌથી ભારે વ્યક્તિ (third heaviest person) કોણ છે?

Ans
✗ 1. લતિકા
✗ 2. નિતિન
✗ 3. ઓમ
✓ 4. મેઘા

Question Type : **MCQ**
Question ID : **4410091982386**
Option 1 ID : **4410097808355**
Option 2 ID : **4410097808356**
Option 3 ID : **4410097808354**
Option 4 ID : **4410097808353**
Status : **Answered**
Chosen Option : **4**

Q.25 નીચે આપેલા વિધાનો અને તારણોને કાળજીપૂર્વક વાંચો. ધારી લો કે વિધાનોમાં આપેલી માહિતી સાચી છે, ભલે તે સામાન્ય રીતે જાણીતા તથ્યોથી અલગ હોય, અને નક્કી કરો કે આપેલા તારણોમાંથી કયું તારણ/ કયા તારણો વિધાનોને તાર્કિક રીતે અનુસરે છે.
વિધાનો: બધા રૂબલ, ડોલર છે. કેટલાક રૂબલ, યુરો છે.
તારણ (I) : કેટલાક યુરો, ડોલર છે.
તારણ (II) : કેટલાક રૂબલ, ડોલર છે

Ans
✗ 1. ફક્ત તારણ (I) અનુસરે છે.
✓ 2. (I) અને (II) બંને તારણો અનુસરે છે.
✗ 3. ફક્ત તારણ (II) અનુસરે છે.
✗ 4. ન તો તારણ (I) કે ન તો તારણ (II) અનુસરે છે.

Question Type : **MCQ**
Question ID : **4410091354973**
Option 1 ID : **4410095352129**
Option 2 ID : **4410095352132**
Option 3 ID : **4410095352130**
Option 4 ID : **4410095352131**
Status : **Answered**
Chosen Option : **2**

WEBSANKUL

Downloaded from websankul.com

Q.26 આ પ્રશ્નમાં, એક પ્રશ્ન પછી (I) અને (II) થી ક્રમાંકિત બે વિધાનો આપવામાં આવ્યા છે. તમારે નક્કી કરવાનું છે કે વિધાનોમાં આપેલી માહિતી એ પ્રશ્નનો જવાબ આપવા માટે પૂરતી છે કે નહીં. બંને વિધાનો વાંચો અને સૌથી યોગ્ય જવાબ પસંદ કરો.
ધ્રુવ, હીના, લલિતા, પલક અને ટીના એક વર્તુળાકાર ટેબલની ફરતે કેન્દ્ર તરફ મુખ રાખીને બેસે છે. તો પલકની તરત જ જમણી બાજુએ કોણ બેસે છે?
(I) પલક એ લલિતાની ડાબી બાજુએ બીજા સ્થાને બેસે છે. હીના અને ટીનાની વચ્ચે માત્ર લલિતા જ બેસે છે.
(II) પલક એ ધ્રુવની તરત જ જમણી બાજુએ બેસે છે. ધ્રુવ એ હીનાની તરત જ બાજુમાં બેસે છે.

Ans ✗ 1. વિધાન (I) અને (II) બંનેમાં આપેલી માહિતીને એકસાથે લેતા તે પ્રશ્નનો જવાબ આપવા માટે પૂરતી નથી.

✗ 2. વિધાન (II) માં આપેલી માહિતી એકલી જ પ્રશ્નનો જવાબ આપવા માટે પૂરતી છે, જ્યારે કે વિધાન (I) માં આપેલી માહિતી એકલી પ્રશ્નનો જવાબ આપવા માટે પૂરતી નથી.

✓ 3. વિધાન (I) અને (II) બંનેમાં આપેલી માહિતીને એકસાથે લેતા (અને વિધાન I અથવા વિધાન II ની માહિતીને એકલી રીતે ધ્યાનમાં ન લેતા) તે પ્રશ્નનો જવાબ આપવા માટે પૂરતી છે.

✗ 4. વિધાન (I) માં આપેલી માહિતી એકલી જ પ્રશ્નનો જવાબ આપવા માટે પૂરતી છે, જ્યારે કે વિધાન (II) માં આપેલી માહિતી એકલી પ્રશ્નનો જવાબ આપવા માટે પૂરતી નથી.

Question Type : **MCQ**
Question ID : **4410091982382**
Option 1 ID : **4410097808340**
Option 2 ID : **4410097808338**
Option 3 ID : **4410097808339**
Option 4 ID : **4410097808337**
Status : **Answered**
Chosen Option : **3**

Q.27 એક પ્રશ્ન પછી (I) અને (II) ક્રમાંકિત બે વિધાનો આપવામાં આવ્યા છે. તમારે નક્કી કરવાનું છે કે વિધાનોમાં આપેલી માહિતી પ્રશ્નનો જવાબ આપવા માટે પૂરતી છે કે નહીં. બંને વિધાનો વાંચો અને સૌથી યોગ્ય જવાબ નક્કી કરો.
પ્રશ્ન:
A, B, C, D, E અને F એમ 6 વ્યક્તિઓના એક સમૂહમાં, દરેકની ઊંચાઈ અલગ-અલગ છે, તો તેમાંથી સૌથી ઊંચું કોણ છે?

વિધાનો:
(I) F એ B કરતાં ઊંચો છે પરંતુ D કરતાં નીચો છે. C એ E કરતાં નીચો છે.
(II) A એ E કરતાં ઊંચો છે પરંતુ B કરતાં નીચો છે.

Ans ✗ 1. વિધાન (II) માં આપેલી માહિતી એકલી જ પ્રશ્નનો જવાબ આપવા માટે પૂરતી છે, જ્યારે વિધાન (I) માં આપેલી માહિતી એકલી પ્રશ્નનો જવાબ આપવા માટે પૂરતી નથી.

✗ 2. વિધાન (I) માં આપેલી માહિતી એકલી જ પ્રશ્નનો જવાબ આપવા માટે પૂરતી છે, જ્યારે વિધાન (II) માં આપેલી માહિતી એકલી પ્રશ્નનો જવાબ આપવા માટે પૂરતી નથી.

✓ 3. વિધાનો (I) અને (II) માં આપેલી માહિતીને એકસાથે લેતા તે પ્રશ્નનો જવાબ આપવા માટે પૂરતી છે.

✗ 4. વિધાનો (I) અને (II) માં આપેલી માહિતીને એકસાથે લેતા તે પ્રશ્નનો જવાબ આપવા માટે પૂરતી નથી.

Question Type : **MCQ**
Question ID : **4410091355001**
Option 1 ID : **4410095352246**
Option 2 ID : **4410095352245**
Option 3 ID : **4410095352247**
Option 4 ID : **4410095352248**
Status : **Answered**
Chosen Option : **3**

WEBSANKUL®

Downloaded from websankul.com

Q.28 જો 'P' નો અર્થ '+', 'Q' નો અર્થ '×', 'R' નો અર્થ '-' અને 'S' નો અર્થ '÷' હોય, તો નીચેના સમીકરણમાં પ્રશ્નચિહ્ન (?) ના સ્થાને શું આવશે?

38 Q 2 S 4 P 9 R 7 = ?

Ans
✗ 1. 19
✗ 2. 22
✓ 3. 21
✗ 4. 26

Question Type : **MCQ**
Question ID : **4410091972367**
Option 1 ID : **4410097768520**
Option 2 ID : **4410097768522**
Option 3 ID : **4410097768523**
Option 4 ID : **4410097768521**
Status : **Answered**
Chosen Option : **3**

Q.29 પાંચ ભાઈ-બહેનો - આરવ, બીના, ચેતન, દીપા અને ઈવા પૈકી દરેકની ઉંમર અલગ-અલગ છે. આરવ એ બીના કરતાં મોટો છે. આરવ એ દીપા કરતાં નાનો છે. માત્ર ઈવા જ બીના કરતાં નાની છે. દીપા સૌથી મોટી નથી. તો તેમનામાં ત્રીજા ક્રમે સૌથી મોટું કોણ છે?

Ans
✗ 1. ચેતન
✓ 2. આરવ
✗ 3. દીપા
✗ 4. બીના

Question Type : **MCQ**
Question ID : **4410091982390**
Option 1 ID : **4410097808371**
Option 2 ID : **4410097808369**
Option 3 ID : **4410097808372**
Option 4 ID : **4410097808370**
Status : **Answered**
Chosen Option : **2**

Q.30 છ વ્યક્તિઓ B, G, L, Q, T અને X પૈકી દરેક એક વર્તુળાકાર ટેબલની ફરતે કેન્દ્ર તરફ મુખ કરીને બેઠા છે. L એ B ની જમણી બાજુએ બીજા સ્થાને બેઠો છે. X એ B અને Q બંનેની તરત બાજુમાં બેઠો છે. G એ T ની ડાબી બાજુએ બીજા સ્થાને બેઠો છે. તો Q ની ડાબી બાજુએ ત્રીજા સ્થાને _____ બેઠો છે.

Ans
✗ 1. X
✓ 2. G
✗ 3. L
✗ 4. B

Question Type : **MCQ**
Question ID : **4410091982363**
Option 1 ID : **4410097808263**
Option 2 ID : **4410097808265**
Option 3 ID : **4410097808264**
Option 4 ID : **4410097808262**
Status : **Answered**
Chosen Option : **2**

WEBSANKUL
Downloaded from websankul.com

Q.31 એક સમાંતર શ્રેણીનું પ્રથમ પદ 5 છે અને સામાન્ય તફાવત 3 છે. તો પ્રથમ 10 પદોનો સરવાળો શોધો.

Ans
✗ 1. 175
✗ 2. 155
✗ 3. 160
✓ 4. 185

Question Type : **MCQ**
Question ID : **4410091348767**
Option 1 ID : **4410095327306**
Option 2 ID : **4410095327304**
Option 3 ID : **4410095327305**
Option 4 ID : **4410095327307**
Status : **Answered**
Chosen Option : **4**

Q.32 એક કાર 40 km/h ની ઝડપે 120 km નું અંતર કાપે છે અને તેટલું જ અંતર 60 km/h ની ઝડપે ફરી વાર કાપે છે. તો સમગ્ર મુસાફરી માટે કારની સરેરાશ ઝડપ કેટલી હશે?

Ans
✓ 1. 48 km/h
✗ 2. 52 km/h
✗ 3. 54 km/h
✗ 4. 50 km/h

Question Type : **MCQ**
Question ID : **4410091348551**
Option 1 ID : **4410095326441**
Option 2 ID : **4410095326443**
Option 3 ID : **4410095326444**
Option 4 ID : **4410095326442**
Status : **Answered**
Chosen Option : **1**

Q.33 બે ટ્રેન જેની લંબાઈ 100 m અને 150 m છે તે અનુક્રમે 30 km/h અને 20 km/h ની ઝડપે પરસ્પર વિરુદ્ધ દિશામાં દોડી રહી છે. તેઓને એકબીજાને પસાર કરવામાં કેટલો સમય લાગશે?

Ans
✓ 1. 18 સેકન્ડ
✗ 2. 15 સેકન્ડ
✗ 3. 20 સેકન્ડ
✗ 4. 12 સેકન્ડ

Question Type : **MCQ**
Question ID : **4410091348589**
Option 1 ID : **4410095326598**
Option 2 ID : **4410095326597**
Option 3 ID : **4410095326599**
Option 4 ID : **4410095326596**
Status : **Answered**
Chosen Option : **1**

WEBSANKUL

Downloaded from websankul.com

Q.34 એક કાર 3 કલાકમાં 150 km નું અંતર કાપે છે. સમાન ઝડપે તે 4.5 કલાકમાં કેટલું અંતર કાપશે?

Ans
✗ 1. 210 km
✗ 2. 230 km
✓ 3. 225 km
✗ 4. 200 km

Question Type : **MCQ**
Question ID : **4410091345698**
Option 1 ID : **4410095315185**
Option 2 ID : **4410095315187**
Option 3 ID : **4410095315186**
Option 4 ID : **4410095315184**
Status : **Answered**
Chosen Option : **3**

Q.35 એક પરીક્ષામાં 8 વિદ્યાર્થીઓએ મેળવેલા ગુણ 12, 15, 18, 20, 25, 30, 22 અને 28 છે. તો વિદ્યાર્થીઓના સરેરાશ ગુણ શોધો.

Ans
✗ 1. 25.2
✗ 2. 22.5
✓ 3. 21.25
✗ 4. 23.33

Question Type : **MCQ**
Question ID : **4410091345478**
Option 1 ID : **4410095314607**
Option 2 ID : **4410095314605**
Option 3 ID : **4410095314604**
Option 4 ID : **4410095314606**
Status : **Answered**
Chosen Option : **3**

Q.36 જો 3, 6 અને 9 પ્રમાણમાં હોય, તો આ સંખ્યાઓનું ચોથું પ્રમાણપદ શું થશે?

Ans
✗ 1. 27
✓ 2. 18
✗ 3. 15
✗ 4. 12

Question Type : **MCQ**
Question ID : **4410092068234**
Option 1 ID : **4410098141912**
Option 2 ID : **4410098141910**
Option 3 ID : **4410098141911**
Option 4 ID : **4410098141913**
Status : **Answered**
Chosen Option : **2**

WEBSANKUL

Downloaded from websankul.com

Q.37 એક દુકાનદારે એક પુસ્તક ₹200 માં ખરીદ્યું અને તે 15% ની ખોટ સાથે વેચ્યું. તો તે પુસ્તકની વેચાણ કિંમત શોધો.

Ans
✔ 1. ₹170
✗ 2. ₹165
✗ 3. ₹175
✗ 4. ₹160

Question Type : **MCQ**
Question ID : **4410091347823**
Option 1 ID : **4410095323576**
Option 2 ID : **4410095323575**
Option 3 ID : **4410095323577**
Option 4 ID : **4410095323574**
Status : **Answered**
Chosen Option : **1**

Q.38 સાદું રૂપ આપો: $1.5 + \frac{7}{10} - 0.8$

Ans
✔ 1. 1.4
✗ 2. 1.5
✗ 3. 1.3
✗ 4. 1.2

Question Type : **MCQ**
Question ID : **4410091345814**
Option 1 ID : **4410095315594**
Option 2 ID : **4410095315595**
Option 3 ID : **4410095315593**
Option 4 ID : **4410095315592**
Status : **Answered**
Chosen Option : **1**

Q.39 એક સમગુણોત્તર શ્રેણીનું પ્રથમ પદ 3 અને સામાન્ય ગુણોત્તર 2 છે. આ શ્રેણીનું 6ઠ્ઠું પદ શોધો

Ans
✗ 1. 54
✗ 2. 112
✗ 3. 108
✔ 4. 96

Question Type : **MCQ**
Question ID : **4410091348777**
Option 1 ID : **4410095327344**
Option 2 ID : **4410095327347**
Option 3 ID : **4410095327346**
Option 4 ID : **4410095327345**
Status : **Answered**
Chosen Option : **4**

WEBSANKUL

Downloaded from websankul.com

Q.40 જો x + y + z = 6, x + 2y + 3z = 14, 2x + y + z = 9 હોય, તો આ સમીકરણ સંહતિનો ઉકેલ x, y અને z માટે મેળવો.

Ans
✗ 1. x=1, y=2, અને z=3
✓ 2. x=3, y=−2, અને z=5
✗ 3. x=1, y=3, અને z=2
✗ 4. x=2, y=1, અને z=3

Question Type : **MCQ**
Question ID : **4410091348616**
Option 1 ID : **4410095326701**
Option 2 ID : **4410095326700**
Option 3 ID : **4410095326703**
Option 4 ID : **4410095326702**
Status : **Answered**
Chosen Option : **2**

Q.41 $x(9x - 7) + 7(x^2 - 3) + 11$ નું સાદું રૂપ આપો.

Ans
✓ 1. $16x^2 - 7x - 10$
✗ 2. $-16x^2 - 7x + 10$
✗ 3. $16x^2 + 7x - 10$
✗ 4. $16x^2 - 7x + 10$

Question Type : **MCQ**
Question ID : **4410091221857**
Option 1 ID : **4410094820853**
Option 2 ID : **4410094820852**
Option 3 ID : **4410094820854**
Option 4 ID : **4410094820851**
Status : **Answered**
Chosen Option : **1**

Q.42 A અને B ની ઉંમરનો ગુણોત્તર 5 : 7 છે. જો તેમની ઉંમરનો સરવાળો 48 વર્ષ હોય, તો B ની ઉંમર કેટલી હશે?

Ans
✓ 1. 28 વર્ષ
✗ 2. 30 વર્ષ
✗ 3. 34 વર્ષ
✗ 4. 32 વર્ષ

Question Type : **MCQ**
Question ID : **4410091348522**
Option 1 ID : **4410095326329**
Option 2 ID : **4410095326330**
Option 3 ID : **4410095326332**
Option 4 ID : **4410095326331**
Status : **Answered**
Chosen Option : **1**

WEBSANKUL
Downloaded from websankul.com

Q.43 એક સાઇકલ સવાર 10 m/s ની ઝડપે આગળ વધે છે. તો 2 km અંતર કાપવા માટે તેને કેટલો સમય લાગશે?

Ans
✔ 1. 200 સેકન્ડ
✘ 2. 250 સેકન્ડ
✘ 3. 150 સેકન્ડ
✘ 4. 100 સેકન્ડ

Question Type : **MCQ**
Question ID : **4410091348576**
Option 1 ID : **4410095326540**
Option 2 ID : **4410095326541**
Option 3 ID : **4410095326539**
Option 4 ID : **4410095326538**
Status : **Answered**
Chosen Option : **1**

Q.44 ₹28 પ્રતિ લિટરની કિંમતવાળા દૂધને ₹57 પ્રતિ લિટરની કિંમતવાળા દૂધ સાથે કયા ગુણોત્તરમાં ભેળવવું જોઈએ, જેથી મિશ્રણની કિંમત ₹45 પ્રતિ લિટર થાય?

Ans
✘ 1. 9:17
✔ 2. 12:17
✘ 3. 10:17
✘ 4. 3:11

Question Type : **MCQ**
Question ID : **4410091730527**
Option 1 ID : **4410096824494**
Option 2 ID : **4410096824492**
Option 3 ID : **4410096824493**
Option 4 ID : **4410096824495**
Status : **Not Attempted and Marked For Review**
Chosen Option : **--**

Q.45 એક બેગ પરની છાપેલી કિંમત ₹2,000 છે. એક દુકાનદાર તેના પર 10% અને 5% એમ બે ક્રમિક વળતર (ડિસ્કાઉન્ટ) આપે છે. તો તે બેગની વેચાણ કિંમત કેટલી હશે?

Ans
✔ 1. ₹1,710
✘ 2. ₹1,700
✘ 3. ₹1,730
✘ 4. ₹1,720

Question Type : **MCQ**
Question ID : **4410091348494**
Option 1 ID : **4410095326218**
Option 2 ID : **4410095326217**
Option 3 ID : **4410095326220**
Option 4 ID : **4410095326219**
Status : **Answered**
Chosen Option : **1**

WEBSANKUL
Downloaded from websankul.com

Q.46 એક દુકાનદારે એક પેન ₹120 માં ખરીદી અને તેને 25% નફા સાથે વેચી. તો પેનની વેચાણ કિંમત શોધો.

Ans
✗ 1. ₹140
✓ 2. ₹150
✗ 3. ₹160
✗ 4. ₹155

Question Type : **MCQ**
Question ID : **4410091347816**
Option 1 ID : **4410095323546**
Option 2 ID : **4410095323547**
Option 3 ID : **4410095323549**
Option 4 ID : **4410095323548**
Status : **Answered**
Chosen Option : **2**

Q.47 ₹25,000 ની કિંમતના એક ટેલિવિઝનની કિંમતમાં પહેલા 12% નો વધારો કરવામાં આવે છે અને પછી 12% નો ઘટાડો કરવામાં આવે છે. તો ટેલિવિઝનની અંતિમ કિંમત કેટલી હશે?

Ans
✗ 1. ₹26,320
✗ 2. ₹27,440
✗ 3. ₹25,000
✓ 4. ₹24,640

Question Type : **MCQ**
Question ID : **4410092068231**
Option 1 ID : **4410098141901**
Option 2 ID : **4410098141899**
Option 3 ID : **4410098141898**
Option 4 ID : **4410098141900**
Status : **Answered**
Chosen Option : **4**

Q.48 એવી નાનામાં નાની સંખ્યા શોધો જેને 12, 18 અને 30 વડે નિઃશેષ ભાગી શકાય.

Ans
✓ 1. 180
✗ 2. 120
✗ 3. 360
✗ 4. 240

Question Type : **MCQ**
Question ID : **4410091346271**
Option 1 ID : **4410095317393**
Option 2 ID : **4410095317392**
Option 3 ID : **4410095317395**
Option 4 ID : **4410095317394**
Status : **Answered**
Chosen Option : **1**

WEBSANKUL

Downloaded from websankul.com

Q.49 સાદું રૂપ આપો: 48 ÷ [12 − { 4 + (6 ÷ 3) }]

Ans
✗ 1. 4
✗ 2. 6
✓ 3. 8
✗ 4. 12

Question Type : **MCQ**
Question ID : **4410091346313**
Option 1 ID : **4410095317560**
Option 2 ID : **4410095317561**
Option 3 ID : **4410095317562**
Option 4 ID : **4410095317563**
Status : **Answered**
Chosen Option : **3**

Q.50 નીચેનામાંથી સંખ્યાઓની કઈ જોડી અવિભાજ્ય છે?

Ans
✓ 1. 44 અને 63
✗ 2. 48 અને 72
✗ 3. 56 અને 84
✗ 4. 35 અને 50

Question Type : **MCQ**
Question ID : **4410091345678**
Option 1 ID : **4410095315109**
Option 2 ID : **4410095315110**
Option 3 ID : **4410095315111**
Option 4 ID : **4410095315108**
Status : **Answered**
Chosen Option : **1**

Q.51 નીચેનામાંથી કઈ સંખ્યાઓની જોડી સહ-અવિભાજ્ય (coprime) છે?

Ans
✗ 1. 20 અને 30
✗ 2. 24 અને 36
✗ 3. 12 અને 18
✓ 4. 15 અને 28

Question Type : **MCQ**
Question ID : **4410091345674**
Option 1 ID : **4410095315095**
Option 2 ID : **4410095315094**
Option 3 ID : **4410095315092**
Option 4 ID : **4410095315093**
Status : **Answered**
Chosen Option : **4**

WEBSANKUL

Downloaded from websankul.com

Q.52 એક દુકાનદાર ₹1000 છાપેલી કિંમતની એક વસ્તુ પર 20% અને 10% ના બે ક્રમિક વળતર આપે છે. તો તેની વેચાણ કિંમત શોધો.

Ans
✗ 1. ₹700
✓ 2. ₹720
✗ 3. ₹750
✗ 4. ₹780

Question Type : **MCQ**
Question ID : **4410091249553**
Option 1 ID : **4410094931375**
Option 2 ID : **4410094931376**
Option 3 ID : **4410094931377**
Option 4 ID : **4410094931378**
Status : **Answered**
Chosen Option : **2**

Q.53 સાદું રૂપ આપો: $\frac{2^5 \times 2^3}{2^4}$

Ans
✓ 1. 16
✗ 2. 4
✗ 3. 2
✗ 4. 8

Question Type : **MCQ**
Question ID : **4410091347739**
Option 1 ID : **4410095323249**
Option 2 ID : **4410095323247**
Option 3 ID : **4410095323246**
Option 4 ID : **4410095323248**
Status : **Answered**
Chosen Option : **1**

Q.54 A અને B એક વ્યવસાયમાં અનુક્રમે ₹12,000 અને ₹18,000 નું રોકાણ કરે છે. જો વર્ષના અંતે કુલ નફો ₹6,000 હોય, તો નફામાં B નો હિસ્સો શોધો.

Ans
✗ 1. ₹4,000
✓ 2. ₹3,600
✗ 3. ₹3,000
✗ 4. ₹2,400

Question Type : **MCQ**
Question ID : **4410091348528**
Option 1 ID : **4410095326356**
Option 2 ID : **4410095326355**
Option 3 ID : **4410095326354**
Option 4 ID : **4410095326353**
Status : **Answered**
Chosen Option : **2**

WEBSANKUL
Downloaded from websankul.com

Q.55 બે સંખ્યાઓ 5:2 ના ગુણોત્તરમાં છે. જો દરેક સંખ્યામાં 1 નો વધારો કરવામાં આવે, તો નવી સંખ્યાઓનો ગુણોત્તર 7:3 થાય છે. મૂળ સંખ્યાઓનો સરવાળો શોધો.

Ans
✗ 1. 26
✓ 2. 28
✗ 3. 24
✗ 4. 32

Question Type : **MCQ**
Question ID : **4410091333773**
Option 1 ID : **4410095266881**
Option 2 ID : **4410095266880**
Option 3 ID : **4410095266883**
Option 4 ID : **4410095266882**
Status : **Answered**
Chosen Option : **2**

Q.56 એવી નાનામાં નાની સંખ્યા શોધો જેને 16, 20 અને 24 વડે નિ:શેષ ભાગી શકાય.

Ans
✓ 1. 240
✗ 2. 340
✗ 3. 280
✗ 4. 400

Question Type : **MCQ**
Question ID : **4410091346279**
Option 1 ID : **4410095317424**
Option 2 ID : **4410095317426**
Option 3 ID : **4410095317425**
Option 4 ID : **4410095317427**
Status : **Answered**
Chosen Option : **1**

Q.57 A અને B ભેગા મળીને એક કામ 10 દિવસમાં પૂરું કરી શકે છે. જો A એકલો તે કામ 15 દિવસમાં પૂરું કરે, તો B ને એકલા તે કામ પૂરું કરતા કેટલા દિવસ લાગશે?

Ans
✓ 1. 30 દિવસ
✗ 2. 28 દિવસ
✗ 3. 25 દિવસ
✗ 4. 20 દિવસ

Question Type : **MCQ**
Question ID : **4410092007596**
Option 1 ID : **4410097905677**
Option 2 ID : **4410097905676**
Option 3 ID : **4410097905675**
Option 4 ID : **4410097905674**
Status : **Answered**
Chosen Option : **1**

WEBSANKUL

Downloaded from websankul.com

Q.58 અંકિતને માસિક આવક તરીકે ₹15,000 મળે છે. તે ભાડા પર 40%, કરિયાણા પર 30% અને પરિવહન પર 10% ખર્ચ કરે છે. આ ખર્ચ કર્યા પછી કેટલી રકમ બાકી રહે છે?

Ans
✗ 1. ₹5,000
✗ 2. ₹4,500
✓ 3. ₹3,000
✗ 4. ₹2,000

Question Type : **MCQ**
Question ID : **4410092068230**
Option 1 ID : **4410098141897**
Option 2 ID : **4410098141896**
Option 3 ID : **4410098141894**
Option 4 ID : **4410098141895**
Status : **Answered**
Chosen Option : **3**

Q.59 એક વિદ્યાર્થીના 3 વિષયોના સરેરાશ ગુણ અનુક્રમે 70, 75, અને 80 છે. જો આ વિષયોના ભાર અનુક્રમે 2, 3, અને 5 હોય, તો ભારિત સરેરાશ શોધો.

Ans
✗ 1. 75.5
✗ 2. 73.5
✗ 3. 74.5
✓ 4. 76.5

Question Type : **MCQ**
Question ID : **4410091760811**
Option 1 ID : **4410096943294**
Option 2 ID : **4410096943296**
Option 3 ID : **4410096943295**
Option 4 ID : **4410096943293**
Status : **Answered**
Chosen Option : **4**

Q.60 પાઇપ P અને Q બંને સાથે મળીને એક ટાંકીને 5 કલાકમાં ભરી શકે છે. પાઇપ Q એકલો તે ટાંકીને 8 કલાક અને 20 મિનિટમાં ભરી શકે છે. તો માત્ર પાઇપ P ને ટાંકી ભરવામાં કેટલો સમય લાગશે?

Ans
✗ 1. 10.5 કલાક
✓ 2. 12.5 કલાક
✗ 3. 13 કલાક
✗ 4. 11.5 કલાક

Question Type : **MCQ**
Question ID : **4410091731021**
Option 1 ID : **4410096826470**
Option 2 ID : **4410096826471**
Option 3 ID : **4410096826469**
Option 4 ID : **4410096826468**
Status : **Answered**
Chosen Option : **3**

WEBSANKUL

Downloaded from websankul.com

Q.61 આમુખને "બંધારણના ઓળખપત્ર" તરીકે કોણે ગણાવ્યું હતું?

Ans ✔ 1. એન.એ. પાલખીવાલા

✗ 2. બી.આર. આંબેડકર

✗ 3. પંડિત નેહરુ

✗ 4. કે.એમ. મુન્શી

Question Type : **MCQ**
Question ID : **4410091416207**
Option 1 ID : **4410095593531**
Option 2 ID : **4410095593529**
Option 3 ID : **4410095593532**
Option 4 ID : **4410095593530**
Status : **Answered**
Chosen Option : **2**

Q.62 લોક અદાલતનો મુખ્ય હેતુ શું છે?

Ans ✔ 1. વિવાદોનો ઝડપી અને સૌહાર્દપૂર્ણ ઉકેલ લાવવો

✗ 2. વિધાનસભામાં નવા કાયદા બનાવવા

✗ 3. ગુનેગારોને ઝડપી સજા આપવી

✗ 4. ચૂંટણીઓનું સંચાલન અને દેખરેખ રાખવી

Question Type : **MCQ**
Question ID : **4410091418124**
Option 1 ID : **4410095601414**
Option 2 ID : **4410095601415**
Option 3 ID : **4410095601413**
Option 4 ID : **4410095601416**
Status : **Answered**
Chosen Option : **1**

Q.63 ભારતીય ન્યાય વ્યવસ્થામાં 'લોક અદાલત' નું મુખ્ય કાર્ય નીચેનામાંથી કયું છે?

Ans ✗ 1. સર્વોચ્ચ અદાલતની અપીલોની સુનાવણી કરવી

✗ 2. ન્યાયતંત્ર માટે નવા કાયદાઓ બહાર પાડવા

✗ 3. ગંભીર ગુનાઓ સાથે સંકળાયેલા ફોજદારી મુકદ્દમા ચલાવવા

✔ 4. પરસ્પર સંમતિ દ્વારા વિવાદોનો નિકાલ કરવો

Question Type : **MCQ**
Question ID : **4410092075460**
Option 1 ID : **4410098170614**
Option 2 ID : **4410098170617**
Option 3 ID : **4410098170615**
Option 4 ID : **4410098170616**
Status : **Answered**
Chosen Option : **4**

WEBSANKUL

Downloaded from websankul.com

Q.64 નાણાં ખરડો (Money Bill) માત્ર લોકસભામાં જ રજૂ કરી શકાય છે, અને તે માટે _____ની પૂર્વ ભલામણ જરૂરી છે.

Ans
✔ 1. ભારતના રાષ્ટ્રપતિ
✘ 2. લોકસભાના અધ્યક્ષ
✘ 3. કેન્દ્રીય ગૃહમંત્રી
✘ 4. ભારતના વડાપ્રધાન

Question Type : **MCQ**
Question ID : **4410091414355**
Option 1 ID : **4410095586393**
Option 2 ID : **4410095586394**
Option 3 ID : **4410095586392**
Option 4 ID : **4410095586391**
Status : **Answered**
Chosen Option : **1**

Q.65 કયો અનુચ્છેદ સંસદને 'સંઘ યાદી (Union List)' નાં વિષયો પર કાયદો ઘડવાની વિશિષ્ટ સત્તા (exclusive power) આપે છે?

Ans
✘ 1. અનુચ્છેદ 244
✔ 2. અનુચ્છેદ 246(1)
✘ 3. અનુચ્છેદ 248
✘ 4. અનુચ્છેદ 246(3)

Question Type : **MCQ**
Question ID : **4410092181562**
Option 1 ID : **4410098584542**
Option 2 ID : **4410098584543**
Option 3 ID : **4410098584545**
Option 4 ID : **4410098584544**
Status : **Answered**
Chosen Option : **2**

Q.66 બંધારણ હેઠળ ભારતના ઉપ-રાષ્ટ્રપતિને કોણ ચૂંટે છે?

Ans
✘ 1. ફક્ત ચૂંટાયેલા સંસદ સભ્યો
✘ 2. સાંસદો અને ધારાસભ્યોનું બનેલું મતદાર મંડળ (electoral college)
✔ 3. સંસદના બંને ગૃહોના સભ્યો
✘ 4. રાજ્ય વિધાનસભાઓના સભ્યો

Question Type : **MCQ**
Question ID : **4410091399733**
Option 1 ID : **4410095528606**
Option 2 ID : **4410095528608**
Option 3 ID : **4410095528605**
Option 4 ID : **4410095528607**
Status : **Answered**
Chosen Option : **2**

WEBSANKUL
Downloaded from websankul.com

Q.67 લોક અદાલતના નિર્ણયો _____ .

Ans ✔ 1. આખરી અને બંધનકર્તા હોય છે, જેની સામે કોઈ અપીલ થઈ શકતી નથી

✘ 2.
પક્ષકારો માટે માત્ર સૂચનો છે

✘ 3.
માત્ર સલાહરૂપ હોય છે

✘ 4.
હાઈકોર્ટની મંજૂરીને આધીન હોય છે

Question Type : **MCQ**
Question ID : **4410091418131**
Option 1 ID : **4410095601442**
Option 2 ID : **4410095601444**
Option 3 ID : **4410095601441**
Option 4 ID : **4410095601443**
Status : **Answered**
Chosen Option : **1**

Q.68 ભારતના બંધારણનું આમુખ ભારતને એક કયા પ્રકારનું રાષ્ટ્ર જાહેર કરે છે?

Ans ✘ 1. સમવાયી રાજાશાહી, સમાજવાદી, બિનસાંપ્રદાયિક

✔ 2. સાર્વભૌમ, સમાજવાદી, બિનસાંપ્રદાયિક, લોકશાહી પ્રજાસત્તાક

✘ 3. સમાજવાદી રાજાશાહી, લોકશાહી પ્રજાસત્તાક

✘ 4. લોકશાહી પ્રજાસત્તાક અને રાજાશાહી

Question Type : **MCQ**
Question ID : **4410091416201**
Option 1 ID : **4410095593507**
Option 2 ID : **4410095593506**
Option 3 ID : **4410095593508**
Option 4 ID : **4410095593505**
Status : **Answered**
Chosen Option : **2**

Q.69 આમુખ (Preamble)માં ઉલ્લેખિત કઈ તારીખે બંધારણ સભા દ્વારા બંધારણનો ઔપચારિક સ્વીકાર (formal adoption) કરવામાં આવ્યો હતો?

Ans ✘ 1. 15 ઓગસ્ટ 1947

✘ 2. 24 જાન્યુઆરી 1950

✔ 3. 26 નવેમ્બર 1949

✘ 4. 26 જાન્યુઆરી 1950

Question Type : **MCQ**
Question ID : **4410091823512**
Option 1 ID : **4410097188833**
Option 2 ID : **4410097188835**
Option 3 ID : **4410097188834**
Option 4 ID : **4410097188832**
Status : **Answered**
Chosen Option : **3**

WEBSANKUL

Downloaded from websankul.com

Q.70 નીચેનામાંથી કઈ ભારતીય નાગરિકોની એક મૂળભૂત ફરજ છે?

Ans
✔ 1. જાહેર મિલકતનું રક્ષણ કરવું
✘ 2. આવકવેરો ભરવો
✘ 3. લશ્કરમાં જોડાવું
✘ 4. ચૂંટણીમાં મતદાન કરવું

Question Type : MCQ
Question ID : 4410091416238
Option 1 ID : 4410095593650
Option 2 ID : 4410095593652
Option 3 ID : 4410095593651
Option 4 ID : 4410095593649
Status : Answered
Chosen Option : 1

Q.71 ગ્લોબલ જેન્ડર ગેપ ઇન્ડેક્સ 2026 (Global Gender Gap Index 2026) માં, કયો દેશ તેના 93.0% જેન્ડર ગેપને સરભર કરીને પ્રથમ ક્રમે રહ્યો છે?

Ans
✘ 1. નોર્વે (Norway)
✘ 2. ન્યુઝીલેન્ડ (New Zealand)
✔ 3. આઇસલેન્ડ (Iceland)
✘ 4. સ્વિટ્ઝર્લેન્ડ (Switzerland)

Question Type : MCQ
Question ID : 4410092572343
Option 1 ID : 44100910112325
Option 2 ID : 44100910112322
Option 3 ID : 44100910112324
Option 4 ID : 44100910112323
Status : Not Attempted and Marked For Review
Chosen Option : --

Q.72 2026 માં 'હોટ ઓર કૂલ ઇન્સ્ટિટ્યૂટ' (Hot or Cool Institute) દ્વારા બહાર પાડવામાં આવેલ કયો સૂચકાંક અપેક્ષિત આયુષ્ય (life expectancy), સુખ/આનંદ (happiness) અને ઇકોલોજીકલ ફૂટપ્રિન્ટ (ecological footprint) ને ધ્યાનમાં રાખીને ટકાઉ સુખાકારી (sustainable wellbeing) નું માપન કરે છે?

Ans
✔ 1. હેપ્પી પ્લેનેટ ઇન્ડેક્સ (Happy Planet Index)
✘ 2. ગ્લોબલ પીસ ઇન્ડેક્સ (Global Peace Index)
✘ 3. કરપ્શન પર્સેપ્શન્સ ઇન્ડેક્સ (Corruption Perceptions Index)
✘ 4. હ્યુમન ડેવલપમેન્ટ ઇન્ડેક્સ (Human Development Index)

Question Type : MCQ
Question ID : 4410092572341
Option 1 ID : 44100910112317
Option 2 ID : 44100910112314
Option 3 ID : 44100910112316
Option 4 ID : 44100910112315
Status : Answered
Chosen Option : 1

WEBSANKUL
Downloaded from websankul.com

Q.73 સસ્ટેનેબલ ડેવલપમેન્ટ ગોલ્સ – નેશનલ ઈન્ડિકેટર ફ્રેમવર્ક (SDG-NIF) પ્રોગ્રેસ રિપોર્ટ, 2026 અનુસાર, ભારતમાં નીચેનામાંથી કયો વસ્તીવિષયક (demographic) સૂચક 2015–17માં પ્રતિ 1,000 પુરુષોએ 896 સ્ત્રીઓથી સુધરીને 2022–24માં 918 થયો છે?

Ans
✔ 1. જન્મ સમયનો જાતિ ગુણોત્તર (Sex Ratio at Birth)
✘ 2. બાળ લિંગ પ્રમાણ(Child Sex Ratio) (0–6 વર્ષ)
✘ 3. કુલ વસ્તીનો એકંદર જાતિ ગુણોત્તર (Overall Sex Ratio of the Total Population)
✘ 4. ગ્રામીણ સ્ત્રી-થી-પુરુષ નિર્ભરતા ગુણોત્તર (Rural Female-to-Male Dependency Ratio)

Question Type : **MCQ**
Question ID : **4410092577434**
Option 1 ID : **44100910132495**
Option 2 ID : **44100910132492**
Option 3 ID : **44100910132493**
Option 4 ID : **44100910132494**
Status : **Answered**
Chosen Option : **1**

Q.74 જુલાઈ 2026માં, નેટવર્કની સ્થિતિસ્થાપકતા (network resilience) વધારવા માટે ગ્રામીણ ગ્રામ પંચાયતો અને ગામડાઓને રિંગ ટોપોલોજી (ring topology) માં અપગ્રેડ કરવાના હેતુથી, ડિજિટલ ભારત નિધિ (DoT) અને ગુજરાત સરકાર વચ્ચે હસ્તાક્ષર કરાયેલા એક પરિશિષ્ટ કરાર (addendum agreement) દ્વારા કયા કાર્યક્રમને આગળ વધારવામાં આવ્યો હતો?

Ans
✘ 1. ડિજિટલ ઈન્ડિયા પ્રોગ્રામ (Digital India Programme)
✘ 2. PM-WANI પ્રોગ્રામ (PM-WANI Programme)
✘ 3. નેશનલ બ્રોડબેન્ડ મિશન (National Broadband Mission)
✔ 4. અમેન્ડેડ ભારતનેટ પ્રોગ્રામ (Amended BharatNet Programme)

Question Type : **MCQ**
Question ID : **4410092570219**
Option 1 ID : **44100910103903**
Option 2 ID : **44100910103905**
Option 3 ID : **44100910103906**
Option 4 ID : **44100910103904**
Status : **Answered**
Chosen Option : **2**

Q.75 જૂન 2026 માં જાહેર કરાયેલો ભારતનો 'વ્યાપક આર્થિક અને વ્યાપારી કરાર' (CETA) અને 'સામાજિક સુરક્ષા યોગદાન અંગેનો કરાર' (Agreement on Social Security Contributions)માં કયા દેશ સાથે હસ્તાક્ષર કરવામાં આવ્યા હતા?

Ans
✔ 1. યુનાઇટેડ કિંગડમ
✘ 2. ન્યુઝીલેન્ડ
✘ 3. ઓસ્ટ્રેલિયા
✘ 4. કેનેડા

Question Type : **MCQ**
Question ID : **4410092577697**
Option 1 ID : **44100910133540**
Option 2 ID : **44100910133543**
Option 3 ID : **44100910133541**
Option 4 ID : **44100910133542**
Status : **Not Attempted and Marked For Review**
Chosen Option : **--**

WEBSANKUL
Downloaded from websankul.com

Q.76 ઉનાળા 2026 ની ઋતુ માટે, જૂન 2026 માં પ્રાઇસ સપોર્ટ સ્કીમ (Price Support Scheme) હેઠળ ગુજરાત માટે કયા પાકની ખરીદીને મંજૂરી આપવામાં આવી હતી?

Ans
✗ 1. સોયાબીન
✗ 2. મગફળી
✗ 3. રાઈ
✓ 4. મગ

Question Type : **MCQ**
Question ID : **4410092570218**
Option 1 ID : **44100910103899**
Option 2 ID : **44100910103901**
Option 3 ID : **44100910103902**
Option 4 ID : **44100910103900**
Status : **Answered**
Chosen Option : **4**

Q.77 2026 માં કિર્ગિસ્તાનના બિશકેક ખાતે યોજાયેલી શાંઘાઈ કોઓપરેશન ઓર્ગેનાઈઝેશન (SCO) સમિટમાં કેટલા દેશો અને ભાગીદારોએ બેઠકમાં ભાગ લીધો હતો?

Ans
✗ 1. 12 સભ્ય દેશો, 4 ભાગીદાર દેશો, 2 નિરીક્ષક દેશો
✗ 2. 5 સભ્ય દેશો, 3 ભાગીદાર દેશો, 1 નિરીક્ષક દેશ
✗ 3. 8 સભ્ય દેશો, 6 ભાગીદાર દેશો, 2 નિરીક્ષક દેશો
✓ 4. 10 સભ્ય દેશો, 15 ભાગીદાર દેશો, 2 નિરીક્ષક દેશો

Question Type : **MCQ**
Question ID : **4410092572323**
Option 1 ID : **44100910112243**
Option 2 ID : **44100910112242**
Option 3 ID : **44100910112245**
Option 4 ID : **44100910112244**
Status : **Answered**
Chosen Option : **3**

Q.78 ગુજરાતમાંથી, થિયેટર અને ટેલિવિઝન ક્ષેત્રે આપેલા યોગદાન બદલ નીચેનામાંથી કોને 2026માં પદ્મશ્રી એવોર્ડ એનાયત કરાયો હતો?

Ans
✗ 1. મીના પટેલ
✗ 2. રાજેશ સોની
✗ 3. પ્રકાશ મહેતા
✓ 4. અરવિંદ વૈદ્ય

Question Type : **MCQ**
Question ID : **4410092075394**
Option 1 ID : **4410098170350**
Option 2 ID : **4410098170351**
Option 3 ID : **4410098170352**
Option 4 ID : **4410098170353**
Status : **Answered**
Chosen Option : **3**

WEBSANKUL
Downloaded from websankul.com

Q.79 નવી દિલ્હી ખાતે આવેલા ભારત મંડપમમાં વિશ્વ પ્રવાસન દિવસની ઉજવણીના અવસરે, કેન્દ્રીય પ્રવાસન મંત્રાલય દ્વારા સમગ્ર પ્રવાસન ઇકોસિસ્ટમમાં ડિજિટલ ટ્રાન્સફોર્મેશન અને એકીકૃત ડેટા વિનિમયને વેગ આપવા માટે નીચેનામાંથી કઈ ડિજિટલ પબ્લિક ઇન્ફ્રાસ્ટ્રક્ચર પહેલ શરૂ કરવામાં આવી હતી?

Ans
✗ 1. સ્વદેશ દર્શન ડિજિટલ પોર્ટલ (Swadesh Darshan Digital Portal)

✗ 2. ઇનક્રેડિબલ ઇન્ડિયા ડિજિટલ ગેટવે (Incredible India Digital Gateway)

✗ 3. નેશનલ ટૂરિઝમ ઇન્ફોર્મેશન સિસ્ટમ (National Tourism Information System)

✓ 4. નેશનલ ડિજિટલ ટૂરિઝમ સ્ટેક (National Digital Tourism Stack)

Question Type : **MCQ**
Question ID : **4410092577695**
Option 1 ID : **44100910133535**
Option 2 ID : **44100910133532**
Option 3 ID : **44100910133534**
Option 4 ID : **44100910133533**
Status : **Not Attempted and Marked For Review**
Chosen Option : **--**

Q.80 ઓક્ટોબર 2026માં નવી દિલ્હી ખાતે કેન્દ્રીય મંત્રી અશ્વિની વૈષ્ણવ દ્વારા વર્લ્ડ બેંક ગ્રુપનો કયો અહેવાલ લોન્ચ કરવામાં આવ્યો હતો?

Ans
✗ 1. વર્લ્ડ ઇકોનોમિક આઉટલુક 2026: ગ્લોબલ ઇકોનોમિક પ્રોસ્પેક્ટ્સ (World Economic Outlook 2026: Global Economic Prospects)

✗ 2. વર્લ્ડ ડેવલપમેન્ટ રિપોર્ટ 2025: સ્ટેન્ડર્ડ્સ ફોર ડેવલપમેન્ટ (World Development Report 2025: Standards for Development)

✗ 3. ગ્લોબલ ઇકોનોમિક પ્રોસ્પેક્ટ્સ 2026: નેવિગેટિંગ અનસર્ટેઇન્ટી (Global Economic Prospects 2026: Navigating Uncertainty)

✓ 4. વર્લ્ડ ડેવલપમેન્ટ રિપોર્ટ 2026: ધ પ્રોમિસ ઓફ આર્ટિફિશિયલ ઇન્ટેલિજન્સ (World Development Report 2026: The Promise of Artificial Intelligence)

Question Type : **MCQ**
Question ID : **4410092577696**
Option 1 ID : **44100910133538**
Option 2 ID : **44100910133537**
Option 3 ID : **44100910133539**
Option 4 ID : **44100910133536**
Status : **Answered**
Chosen Option : **3**

WEBSANKUL

Downloaded from websankul.com

Comprehension:

નીચેનો ગદ્યખંડ વાંચી આપેલા પ્રશ્નોના જવાબ આપો.

ચિકિત્સા વિજ્ઞાને છેલ્લા કેટલાક દાયકાઓમાં અદ્ભુત પ્રગતિ કરી છે. આધુનિક તપાસ પદ્ધતિઓના કારણે શરીરમાં થતી અનેક અસામાન્યતાઓનું વહેલું નિદાન શક્ય બન્યું છે. નવી દવાઓ, સર્જરીની સુધારેલી પદ્ધતિઓ અને ટેક્નોલોજી આધારિત સાધનોના ઉપયોગથી એવી ઘણી બીમારીઓની સારવાર શક્ય બની છે, જે એક સમય સુધી અત્યંત ગંભીર માનવામાં આવતી હતી. ટેલિમેડિસિનના વિકાસથી નિષ્ણાત તબીબી સલાહ દૂરના વિસ્તારો સુધી પહોંચાડવાની શક્યતા પણ વધી છે. આ પ્રગતિએ આરોગ્યસેવાઓને વધુ સુલભ અને કાર્યક્ષમ બનાવવામાં મહત્વની ભૂમિકા ભજવી છે. પરંતુ ચિકિત્સા ક્ષેત્રની સફળતા માત્ર આધુનિક સાધનો કે દવાઓ પર આધારિત નથી. દર્દી માટે તબીબનું વર્તન, વાત સાંભળવાની તૈયારી અને વિશ્વાસ જગાવવાની ક્ષમતા પણ સારવારનો મહત્વનો ભાગ છે. બીમારીની સ્થિતિમાં વ્યક્તિ ઘણી વાર શારીરિક પીડા સાથે ચિંતા અને ભયનો પણ અનુભવ કરે છે. આવા સમયે તબીબી જ્ઞાન સાથે માનવીય સંવેદના દર્દીને માનસિક શક્તિ આપી શકે છે. દર્દીના પરિવારજનોનો સહકાર પણ સારવારની પ્રક્રિયાને સરળ બનાવે છે. બીજી તરફ, દર્દીએ પણ તબીબને પોતાની તકલીફો, દવાઓનો ઇતિહાસ અને જીવનશૈલી વિશે સાચી માહિતી આપવી જોઈએ. તબીબી સલાહનું યોગ્ય રીતે પાલન કરવું અને પોતાની રીતે દવાઓ બંધ ન કરવી પણ જરૂરી છે. સારવાર સફળ બનાવવા માટે તબીબ અને દર્દી વચ્ચેનો વિશ્વાસ આવશ્યક છે. આમ, ચિકિત્સા વિજ્ઞાનની ટેક્નોલોજીકલ પ્રગતિ ત્યારે જ સાચો અર્થ પ્રાપ્ત કરે છે, જ્યારે તેની સાથે જવાબદારી, નૈતિકતા અને માનવીય સંવેદનાનું સંતુલન જળવાય.

SubQuestion No : 81

Q.81 ગદ્યખંડ માટે નીચેનામાંથી કયું શીર્ષક સૌથી વધુ યોગ્ય છે?

Ans
✗ 1. દર્દીની આર્થિક સમસ્યાઓ

✗ 2. ટેલિમેડિસિનનું મહત્ત્વ

✓ 3. આધુનિક ચિકિત્સા અને માનવીય સંવેદના

✗ 4. તબીબી સાધનોનો વિકાસ

Question Type : **MCQ**
Question ID : **4410092469886**
Option 1 ID : **4410099710111**
Option 2 ID : **4410099710112**
Option 3 ID : **4410099710110**
Option 4 ID : **4410099710109**
Status : **Answered**
Chosen Option : **3**

WEBSANKUL ®

Downloaded from websankul.com

Comprehension:

નીચેનો ગદ્યખંડ વાંચી આપેલા પ્રશ્નોના જવાબ આપો.

ચિકિત્સા વિજ્ઞાને છેલ્લા કેટલાક દાયકાઓમાં અદ્ભુત પ્રગતિ કરી છે. આધુનિક તપાસ પદ્ધતિઓના કારણે શરીરમાં થતી અનેક અસામાન્યતાઓનું વહેલું નિદાન શક્ય બન્યું છે. નવી દવાઓ, સર્જરીની સુધારેલી પદ્ધતિઓ અને ટેક્નોલોજી આધારિત સાધનોના ઉપયોગથી એવી ઘણી બીમારીઓની સારવાર શક્ય બની છે, જે એક સમય સુધી અત્યંત ગંભીર માનવામાં આવતી હતી. ટેલિમેડિસિનના વિકાસથી નિષ્ણાત તબીબી સલાહ દૂરના વિસ્તારો સુધી પહોંચાડવાની શક્યતા પણ વધી છે. આ પ્રગતિએ આરોગ્યસેવાઓને વધુ સુલભ અને કાર્યક્ષમ બનાવવામાં મહત્વની ભૂમિકા ભજવી છે. પરંતુ ચિકિત્સા ક્ષેત્રની સફળતા માત્ર આધુનિક સાધનો કે દવાઓ પર આધારિત નથી. દર્દી માટે તબીબનું વર્તન, વાત સાંભળવાની તૈયારી અને વિશ્વાસ જગાવવાની ક્ષમતા પણ સારવારનો મહત્વનો ભાગ છે. બીમારીની સ્થિતિમાં વ્યક્તિ ઘણી વાર શારીરિક પીડા સાથે ચિંતા અને ભયનો પણ અનુભવ કરે છે. આવા સમયે તબીબી જ્ઞાન સાથે માનવીય સંવેદના દર્દીને માનસિક શક્તિ આપી શકે છે. દર્દીના પરિવારજનોનો સહકાર પણ સારવારની પ્રક્રિયાને સરળ બનાવે છે. બીજી તરફ, દર્દીએ પણ તબીબને પોતાની તકલીફો, દવાઓનો ઇતિહાસ અને જીવનશૈલી વિશે સાચી માહિતી આપવી જોઈએ. તબીબી સલાહનું યોગ્ય રીતે પાલન કરવું અને પોતાની રીતે દવાઓ બંધ ન કરવી પણ જરૂરી છે. સારવાર સફળ બનાવવા માટે તબીબ અને દર્દી વચ્ચેનો વિશ્વાસ આવશ્યક છે. આમ, ચિકિત્સા વિજ્ઞાનની ટેક્નોલોજીકલ પ્રગતિ ત્યારે જ સાચો અર્થ પ્રાપ્ત કરે છે, જ્યારે તેની સાથે જવાબદારી, નૈતિકતા અને માનવીય સંવેદનાનું સંતુલન જળવાય.

SubQuestion No : 82

Q.82 ગદ્યખંડમાં આવેલા 'અદ્ભુત' શબ્દનો યોગ્ય સમાનાર્થી કયો છે?

Ans
✗ 1. સામાન્ય
✗ 2. નબળું
✗ 3. અપૂર્ણ
✓ 4. આશ્ચર્યજનક

Question Type : **MCQ**
Question ID : **4410092469883**
Option 1 ID : **4410099710097**
Option 2 ID : **4410099710099**
Option 3 ID : **4410099710100**
Option 4 ID : **4410099710098**
Status : **Answered**
Chosen Option : **4**

WEBSANKUL ®

Downloaded from websankul.com

Comprehension:

નીચેનો ગદ્યખંડ વાંચી આપેલા પ્રશ્નોના જવાબ આપો.

ચિકિત્સા વિજ્ઞાને છેલ્લા કેટલાક દાયકાઓમાં અદ્ભુત પ્રગતિ કરી છે. આધુનિક તપાસ પદ્ધતિઓના કારણે શરીરમાં થતી અનેક અસામાન્યતાઓનું વહેલું નિદાન શક્ય બન્યું છે. નવી દવાઓ, સર્જરીની સુધારેલી પદ્ધતિઓ અને ટેક્નોલોજી આધારિત સાધનોના ઉપયોગથી એવી ઘણી બીમારીઓની સારવાર શક્ય બની છે, જે એક સમય સુધી અત્યંત ગંભીર માનવામાં આવતી હતી. ટેલિમેડિસિનના વિકાસથી નિષ્ણાત તબીબી સલાહ દૂરના વિસ્તારો સુધી પહોંચાડવાની શક્યતા પણ વધી છે. આ પ્રગતિએ આરોગ્યસેવાઓને વધુ સુલભ અને કાર્યક્ષમ બનાવવામાં મહત્વની ભૂમિકા ભજવી છે. પરંતુ ચિકિત્સા ક્ષેત્રની સફળતા માત્ર આધુનિક સાધનો કે દવાઓ પર આધારિત નથી. દર્દી માટે તબીબનું વર્તન, વાત સાંભળવાની તૈયારી અને વિશ્વાસ જગાવવાની ક્ષમતા પણ સારવારનો મહત્વનો ભાગ છે. બીમારીની સ્થિતિમાં વ્યક્તિ ઘણી વાર શારીરિક પીડા સાથે ચિંતા અને ભયનો પણ અનુભવ કરે છે. આવા સમયે તબીબી જ્ઞાન સાથે માનવીય સંવેદના દર્દીને માનસિક શક્તિ આપી શકે છે. દર્દીના પરિવારજનોનો સહકાર પણ સારવારની પ્રક્રિયાને સરળ બનાવે છે. બીજી તરફ, દર્દીએ પણ તબીબને પોતાની તકલીફો, દવાઓનો ઇતિહાસ અને જીવનશૈલી વિશે સાચી માહિતી આપવી જોઈએ. તબીબી સલાહનું યોગ્ય રીતે પાલન કરવું અને પોતાની રીતે દવાઓ બંધ ન કરવી પણ જરૂરી છે. સારવાર સફળ બનાવવા માટે તબીબ અને દર્દી વચ્ચેનો વિશ્વાસ આવશ્યક છે. આમ, ચિકિત્સા વિજ્ઞાનની ટેક્નોલોજીકલ પ્રગતિ ત્યારે જ સાચો અર્થ પ્રાપ્ત કરે છે, જ્યારે તેની સાથે જવાબદારી, નૈતિકતા અને માનવીય સંવેદનાનું સંતુલન જળવાય.

SubQuestion No : 83

Q.83 ગદ્યખંડ અનુસાર ટેલિમેડિસિનના વિકાસથી કઈ બાબત શક્ય બની છે?

Ans

✔ 1. નિષ્ણાત તબીબી સલાહ દૂરના વિસ્તારો સુધી પહોંચાડવી શક્ય બની છે.

✘ 2. તબીબ અને દર્દી વચ્ચેનો વ્યક્તિગત સંપર્ક સંપૂર્ણપણે બંધ થયો છે.

✘ 3. તમામ બીમારીઓની સારવાર ઘરે જ શક્ય બની છે.

✘ 4. દવાઓ લેવાની જરૂરિયાત દૂર થઈ છે.

Question Type : **MCQ**
Question ID : **4410092469885**
Option 1 ID : **4410099710107**
Option 2 ID : **4410099710108**
Option 3 ID : **4410099710105**
Option 4 ID : **4410099710106**
Status : **Answered**
Chosen Option : **1**

WEBSANKUL ®

Downloaded from websankul.com

Comprehension:

નીચેનો ગદ્યખંડ વાંચી આપેલા પ્રશ્નોના જવાબ આપો.

ચિકિત્સા વિજ્ઞાને છેલ્લા કેટલાક દાયકાઓમાં અદ્ભુત પ્રગતિ કરી છે. આધુનિક તપાસ પદ્ધતિઓના કારણે શરીરમાં થતી અનેક અસામાન્યતાઓનું વહેલું નિદાન શક્ય બન્યું છે. નવી દવાઓ, સર્જરીની સુધારેલી પદ્ધતિઓ અને ટેક્નોલોજી આધારિત સાધનોના ઉપયોગથી એવી ઘણી બીમારીઓની સારવાર શક્ય બની છે, જે એક સમય સુધી અત્યંત ગંભીર માનવામાં આવતી હતી. ટેલિમેડિસિનના વિકાસથી નિષ્ણાત તબીબી સલાહ દૂરના વિસ્તારો સુધી પહોંચાડવાની શક્યતા પણ વધી છે. આ પ્રગતિએ આરોગ્યસેવાઓને વધુ સુલભ અને કાર્યક્ષમ બનાવવામાં મહત્વની ભૂમિકા ભજવી છે. પરંતુ ચિકિત્સા ક્ષેત્રની સફળતા માત્ર આધુનિક સાધનો કે દવાઓ પર આધારિત નથી. દર્દી માટે તબીબનું વર્તન, વાત સાંભળવાની તૈયારી અને વિશ્વાસ જગાવવાની ક્ષમતા પણ સારવારનો મહત્વનો ભાગ છે. બીમારીની સ્થિતિમાં વ્યક્તિ ઘણી વાર શારીરિક પીડા સાથે ચિંતા અને ભયનો પણ અનુભવ કરે છે. આવા સમયે તબીબી જ્ઞાન સાથે માનવીય સંવેદના દર્દીને માનસિક શક્તિ આપી શકે છે. દર્દીના પરિવારજનોનો સહકાર પણ સારવારની પ્રક્રિયાને સરળ બનાવે છે. બીજી તરફ, દર્દીએ પણ તબીબને પોતાની તકલીફો, દવાઓનો ઇતિહાસ અને જીવનશૈલી વિશે સાચી માહિતી આપવી જોઈએ. તબીબી સલાહનું યોગ્ય રીતે પાલન કરવું અને પોતાની રીતે દવાઓ બંધ ન કરવી પણ જરૂરી છે. સારવાર સફળ બનાવવા માટે તબીબ અને દર્દી વચ્ચેનો વિશ્વાસ આવશ્યક છે. આમ, ચિકિત્સા વિજ્ઞાનની ટેક્નોલોજીકલ પ્રગતિ ત્યારે જ સાચો અર્થ પ્રાપ્ત કરે છે, જ્યારે તેની સાથે જવાબદારી, નૈતિકતા અને માનવીય સંવેદનાનું સંતુલન જળવાય.

SubQuestion No : 84

Q.84 ગદ્યખંડમાં આવેલા 'દૂર' શબ્દનો વિરુદ્ધાર્થી કયો છે?

Ans
✗ 1. વિશાળ
✗ 2. બહારના
✓ 3. નજીક
✗ 4. અજાણ્યા

Question Type : **MCQ**
Question ID : **4410092469882**
Option 1 ID : **4410099710095**
Option 2 ID : **4410099710096**
Option 3 ID : **4410099710093**
Option 4 ID : **4410099710094**
Status : **Answered**
Chosen Option : **3**

WEBSANKUL ®

Downloaded from websankul.com

Comprehension:

નીચેનો ગદ્યખંડ વાંચી આપેલા પ્રશ્નોના જવાબ આપો.

ચિકિત્સા વિજ્ઞાને છેલ્લા કેટલાક દાયકાઓમાં અદ્ભુત પ્રગતિ કરી છે. આધુનિક તપાસ પદ્ધતિઓના કારણે શરીરમાં થતી અનેક અસામાન્યતાઓનું વહેલું નિદાન શક્ય બન્યું છે. નવી દવાઓ, સર્જરીની સુધારેલી પદ્ધતિઓ અને ટેક્નોલોજી આધારિત સાધનોના ઉપયોગથી એવી ઘણી બીમારીઓની સારવાર શક્ય બની છે, જે એક સમય સુધી અત્યંત ગંભીર માનવામાં આવતી હતી. ટેલિમેડિસિનના વિકાસથી નિષ્ણાત તબીબી સલાહ દૂરના વિસ્તારો સુધી પહોંચાડવાની શક્યતા પણ વધી છે. આ પ્રગતિએ આરોગ્યસેવાઓને વધુ સુલભ અને કાર્યક્ષમ બનાવવામાં મહત્વની ભૂમિકા ભજવી છે. પરંતુ ચિકિત્સા ક્ષેત્રની સફળતા માત્ર આધુનિક સાધનો કે દવાઓ પર આધારિત નથી. દર્દી માટે તબીબનું વર્તન, વાત સાંભળવાની તૈયારી અને વિશ્વાસ જગાવવાની ક્ષમતા પણ સારવારનો મહત્વનો ભાગ છે. બીમારીની સ્થિતિમાં વ્યક્તિ ઘણી વાર શારીરિક પીડા સાથે ચિંતા અને ભયનો પણ અનુભવ કરે છે. આવા સમયે તબીબી જ્ઞાન સાથે માનવીય સંવેદના દર્દીને માનસિક શક્તિ આપી શકે છે. દર્દીના પરિવારજનોનો સહકાર પણ સારવારની પ્રક્રિયાને સરળ બનાવે છે. બીજી તરફ, દર્દીએ પણ તબીબને પોતાની તકલીફો, દવાઓનો ઇતિહાસ અને જીવનશૈલી વિશે સાચી માહિતી આપવી જોઈએ. તબીબી સલાહનું યોગ્ય રીતે પાલન કરવું અને પોતાની રીતે દવાઓ બંધ ન કરવી પણ જરૂરી છે. સારવાર સફળ બનાવવા માટે તબીબ અને દર્દી વચ્ચેનો વિશ્વાસ આવશ્યક છે. આમ, ચિકિત્સા વિજ્ઞાનની ટેક્નોલોજીકલ પ્રગતિ ત્યારે જ સાચો અર્થ પ્રાપ્ત કરે છે, જ્યારે તેની સાથે જવાબદારી, નૈતિકતા અને માનવીય સંવેદનાનું સંતુલન જળવાય.

SubQuestion No : 85

Q.85 ગદ્યખંડમાં આવેલા 'સુલભ' શબ્દનો યોગ્ય સમાનાર્થી કયો છે?

Ans

✗ 1. મર્યાદિત

✓ 2. સરળતાથી ઉપલબ્ધ

✗ 3. અશક્ય

✗ 4. મુશ્કેલ

Question Type : **MCQ**
Question ID : **4410092469884**
Option 1 ID : **4410099710104**
Option 2 ID : **4410099710101**
Option 3 ID : **4410099710102**
Option 4 ID : **4410099710103**
Status : **Answered**
Chosen Option : **2**

WEBSANKUL ®

Downloaded from websankul.com

Comprehension:

Read the passage and choose the correct answer to the questions based on it.

Before the advent of the printing press, human history was preserved through the "living breath" of oral storytelling. This ancient tradition is far more than mere entertainment; it is a vital vessel for cultural identity, morality, and ancestral wisdom. Unlike written texts, which are static, oral narratives are malleable. A storyteller adapts the cadence, emphasis, and details of a myth based on the immediate reaction of the audience, making each performance a unique, communal event.

In many indigenous cultures, the storyteller is a revered figure, acting as a bridge between the past and the present. These narratives often utilize "mnemonics"—rhyme, rhythm, and repetition—to ensure that complex genealogies and laws are memorized accurately across generations. However, in our current digital epoch, this ephemeral art form faces the threat of extinction. As we prioritize recorded data over spoken word, we risk losing the intimate, human connection that only a shared story can forge.

SubQuestion No : 86

Q.86 What can be inferred about the impact of the "digital epoch" on oral tradition?

Ans

✗ 1. It has made storytelling more communal through social media.

✗ 2. It has made the role of the storyteller more revered than ever before.

✓ 3. It has shifted the value of information from human memory to stored data.

✗ 4. It has increased the accuracy of mnemonics used by storytellers.

Question Type : **MCQ**
Question ID : **4410091699005**
Option 1 ID : **4410096701625**
Option 2 ID : **4410096701628**
Option 3 ID : **4410096701627**
Option 4 ID : **4410096701626**
Status : **Answered**
Chosen Option : **3**

WEBSANKUL ®

Downloaded from websankul.com

Comprehension:

Read the passage and choose the correct answer to the questions based on it.

Before the advent of the printing press, human history was preserved through the "living breath" of oral storytelling. This ancient tradition is far more than mere entertainment; it is a vital vessel for cultural identity, morality, and ancestral wisdom. Unlike written texts, which are static, oral narratives are malleable. A storyteller adapts the cadence, emphasis, and details of a myth based on the immediate reaction of the audience, making each performance a unique, communal event.

In many indigenous cultures, the storyteller is a revered figure, acting as a bridge between the past and the present. These narratives often utilize "mnemonics"—rhyme, rhythm, and repetition—to ensure that complex genealogies and laws are memorized accurately across generations. However, in our current digital epoch, this ephemeral art form faces the threat of extinction. As we prioritize recorded data over spoken word, we risk losing the intimate, human connection that only a shared story can forge.

SubQuestion No : 87

Q.87 Which title best captures the author's perspective on oral storytelling?

Ans

✗ 1. The Technical Superiority of Modern Literacy

✓ 2. Echoes of the Past: The Dynamic Power of the Spoken Word

✗ 3. The Static Nature of Indigenous Cultural Myths

✗ 4. A History of Mnemonics in Ancient Greek Literature

Question Type : **MCQ**
Question ID : **4410091699002**
Option 1 ID : **4410096701613**
Option 2 ID : **4410096701614**
Option 3 ID : **4410096701616**
Option 4 ID : **4410096701615**
Status : **Not Attempted and Marked For Review**
Chosen Option : **--**

WEBSANKUL ®

Downloaded from websankul.com

Comprehension:

Read the passage and choose the correct answer to the questions based on it.

Before the advent of the printing press, human history was preserved through the "living breath" of oral storytelling. This ancient tradition is far more than mere entertainment; it is a vital vessel for cultural identity, morality, and ancestral wisdom. Unlike written texts, which are static, oral narratives are malleable. A storyteller adapts the cadence, emphasis, and details of a myth based on the immediate reaction of the audience, making each performance a unique, communal event.

In many indigenous cultures, the storyteller is a revered figure, acting as a bridge between the past and the present. These narratives often utilize "mnemonics"—rhyme, rhythm, and repetition—to ensure that complex genealogies and laws are memorized accurately across generations. However, in our current digital epoch, this ephemeral art form faces the threat of extinction. As we prioritize recorded data over spoken word, we risk losing the intimate, human connection that only a shared story can forge.

SubQuestion No : 88

Q.88 Choose the correct synonym of "preserve".

Ans

✗ 1. Support

✗ 2. Rebuild

✗ 3. Service

✓ 4. Protect

Question Type : **MCQ**
Question ID : **4410091699003**
Option 1 ID : **4410096701620**
Option 2 ID : **4410096701618**
Option 3 ID : **4410096701619**
Option 4 ID : **4410096701617**
Status : **Answered**
Chosen Option : **2**

WEBSANKUL ®

Downloaded from websankul.com

Comprehension:

Read the passage and choose the correct answer to the questions based on it.

Before the advent of the printing press, human history was preserved through the "living breath" of oral storytelling. This ancient tradition is far more than mere entertainment; it is a vital vessel for cultural identity, morality, and ancestral wisdom. Unlike written texts, which are static, oral narratives are malleable. A storyteller adapts the cadence, emphasis, and details of a myth based on the immediate reaction of the audience, making each performance a unique, communal event.

In many indigenous cultures, the storyteller is a revered figure, acting as a bridge between the past and the present. These narratives often utilize "mnemonics"—rhyme, rhythm, and repetition—to ensure that complex genealogies and laws are memorized accurately across generations. However, in our current digital epoch, this ephemeral art form faces the threat of extinction. As we prioritize recorded data over spoken word, we risk losing the intimate, human connection that only a shared story can forge.

SubQuestion No : 89

Q.89 According to the passage, why are oral stories considered "malleable"?

Ans

✗ 1. Because they are written in a language that is easy to translate

✗ 2. Because they are only told by people who have forgotten the original script

✓ 3. Because the storyteller changes the narrative to suit the audience's engagement

✗ 4. Because they rely on digital recording devices to stay relevant

Question Type : **MCQ**
Question ID : **4410091699004**
Option 1 ID : **4410096701621**
Option 2 ID : **4410096701623**
Option 3 ID : **4410096701622**
Option 4 ID : **4410096701624**
Status : **Not Attempted and Marked For Review**
Chosen Option : **--**

WEBSANKUL ®

Downloaded from websankul.com

Comprehension:

Read the passage and choose the correct answer to the questions based on it.

Before the advent of the printing press, human history was preserved through the "living breath" of oral storytelling. This ancient tradition is far more than mere entertainment; it is a vital vessel for cultural identity, morality, and ancestral wisdom. Unlike written texts, which are static, oral narratives are malleable. A storyteller adapts the cadence, emphasis, and details of a myth based on the immediate reaction of the audience, making each performance a unique, communal event.

In many indigenous cultures, the storyteller is a revered figure, acting as a bridge between the past and the present. These narratives often utilize "mnemonics"—rhyme, rhythm, and repetition—to ensure that complex genealogies and laws are memorized accurately across generations. However, in our current digital epoch, this ephemeral art form faces the threat of extinction. As we prioritize recorded data over spoken word, we risk losing the intimate, human connection that only a shared story can forge.

SubQuestion No : 90

Q.90 Which word from the passage serves as the most appropriate antonym for "Ephemeral"?

Ans

✗ 1. Communal

✓ 2. Permanent

✗ 3. Malleable

✗ 4. Ancestral

Question Type : **MCQ**
Question ID : **4410091699006**
Option 1 ID : **4410096701632**
Option 2 ID : **4410096701630**
Option 3 ID : **4410096701629**
Option 4 ID : **4410096701631**
Status : **Not Attempted and Marked For Review**
Chosen Option : --

Section : Part B Technical Qualification

Q.91 નીચેનામાંથી કયું, એક સેનિટરી હેલ્થ ઇન્સ્પેક્ટર (Sanitary Health Inspector) દ્વારા સમુદાયને આપવામાં આવતા શિક્ષણનું પ્રાથમિક ક્ષેત્ર છે?

Ans

✗ 1. નાણાકીય વ્યવસ્થાપન અને બજેટની તૈયારી

✗ 2.
મિલકત વિરુદ્ધની સામાન્ય હિંસા (minor violence)ની જાણ કરવા માટેની કાનૂની પ્રક્રિયાઓ

✗ 3.
ચોક્કસ રંગસૂત્ર વિકૃતિઓ માટે આનુવંશિક પરામર્શ (Genetic counselling)

✓ 4.
સ્વચ્છતા (Hygiene) અને રોગ નિવારણની યોગ્ય પદ્ધતિઓ

Question Type : **MCQ**
Question ID : **4410091346715**
Option 1 ID : **4410095319137**
Option 2 ID : **4410095319140**
Option 3 ID : **4410095319138**
Option 4 ID : **4410095319139**
Status : **Answered**
Chosen Option : **4**

WEBSANKUL ®

Downloaded from websankul.com

Q.92 દર્દીની સ્થિતિ બદલતી વખતે અથવા ટ્રાન્સપોર્ટ કરતી વખતે નીચેનામાંથી કયા દર્દીને લોગ રોલ (Log roll) પદ્ધતિની જરૂર પડવાની સૌથી વધુ સંભાવના છે?

Ans
✗ 1. તૂટેલા હાથ (broken arm)વાળો દર્દી જે પથારીની સ્થિતિ બદલવા માટે વિનંતી કરી રહ્યો છે
✓ 2. હાઇ-સ્પીડ કાર અકસ્માતમાં સામેલ એક બેભાન ટ્રોમા દર્દી (unconscious trauma patient)
✗ 3. સામાન્ય ઘૂંટીની મચકોડ (ankle sprain)વાળો સભાન અને જાગૃત દર્દી
✗ 4. પીઠથી નીચેના ભાગ કે કમરના દુખાવા (low back pain)ની ફરિયાદ કરતો સભાન દર્દી જે મુક્તપણે હલનચલન કરી શકે છે

Question Type : **MCQ**
Question ID : **4410091364471**
Option 1 ID : **4410095389504**
Option 2 ID : **4410095389503**
Option 3 ID : **4410095389502**
Option 4 ID : **4410095389505**
Status : **Answered**
Chosen Option : **2**

Q.93 એસીક્લોવીર (Acyclovir) દવાનું મુખ્ય કાર્ય શું છે?

Ans
✗ 1. એન્ટિબાયોટિક્સ (Antibiotics)
✗ 2. એનાલજેસિક્સ (Analgesics)
✗ 3. એન્ટિપાયરેટિક્સ (Antipyretics)
✓ 4. એન્ટિવાયરલ્સ (Antivirals)

Question Type : **MCQ**
Question ID : **4410091346033**
Option 1 ID : **4410095316448**
Option 2 ID : **4410095316450**
Option 3 ID : **4410095316451**
Option 4 ID : **4410095316449**
Status : **Answered**
Chosen Option : **4**

Q.94 પોષક તત્ત્વોના કયા સમૂહની જરૂરિયાત ઓછી માત્રામાં હોય છે, પરંતુ તે શરીરના સામાન્ય કામકાજ માટે આવશ્યક છે?

Ans
✗ 1. કાર્બોહાઇડ્રેટ્સ
✗ 2. પ્રોટીન્સ
✓ 3. મિનરલ્સ
✗ 4. ફેટ્સ

Question Type : **MCQ**
Question ID : **4410092128425**
Option 1 ID : **4410098379148**
Option 2 ID : **4410098379150**
Option 3 ID : **4410098379151**
Option 4 ID : **4410098379149**
Status : **Answered**
Chosen Option : **3**

WEBSANKUL

Downloaded from websankul.com

Q.95 ESI અધિનિયમ હેઠળ કર્મચારીઓને નીચેનામાંથી કયા પ્રકારના લાભો પૂરા પાડવામાં આવે છે?

Ans
✗ 1. નિવૃત્તિ, આવાસ, નોકરી વગરનો પગાર અને શૈક્ષણિક લાભો
✓ 2. તબીબી, માંદગી, પ્રસૂતિ, અપંગતા, અને આશ્રિતોના લાભો
✗ 3. માત્ર કર્મચારીઓ અને તેમના આશ્રિત પરિવારના સભ્યો માટે જ તબીબી લાભો
✗ 4. બીમારી, પ્રસૂતિ, નોકરી કર્યા વિના પગાર અને અંતિમ સંસ્કારના લાભો

Question Type : **MCQ**
Question ID : **4410091245705**
Option 1 ID : **4410094916100**
Option 2 ID : **4410094916099**
Option 3 ID : **4410094916101**
Option 4 ID : **4410094916098**
Status : **Answered**
Chosen Option : **2**

Q.96 મકાનની અંદર અને બહારના તાપમાનના તફાવતના પરિણામે કોઈ સ્ટ્રક્ચર (structure)ની અંદર ગરમ હવાના ઉપરની તરફ થતા પ્રવાહને કઈ અસર (ઇફેક્ટ) કહેવામાં આવે છે?

Ans
✗ 1. કોચ ઇફેક્ટ (The Koch effect)
✗ 2. વાલ્ડેયર ઇફેક્ટ (The Waldeyer effect)
✗ 3. હિલ્ટન ઇફેક્ટ (The Hilton effect)
✓ 4. સ્ટેક ઇફેક્ટ (The Stack Effect)

Question Type : **MCQ**
Question ID : **4410091364839**
Option 1 ID : **4410095390952**
Option 2 ID : **4410095390951**
Option 3 ID : **4410095390950**
Option 4 ID : **4410095390949**
Status : **Answered**
Chosen Option : **2**

Q.97 સામાન્ય પ્રાથમિક સારવારના સંદર્ભમાં, ABCD પ્રોટોકોલમાં "D" સામાન્ય રીતે શેના માટે વપરાય છે?

Ans
✗ 1. ડાયગ્નોસિસ (Diagnosis)
✗ 2. ડેલિગેશન (Delegation)
✓ 3. ડિસેબિલિટી (Disability)
✗ 4. ડીહાઇડ્રેશન (Dehydration)

Question Type : **MCQ**
Question ID : **4410091361506**
Option 1 ID : **4410095378079**
Option 2 ID : **4410095378080**
Option 3 ID : **4410095378078**
Option 4 ID : **4410095378077**
Status : **Answered**
Chosen Option : **3**

WEBSANKUL

Downloaded from websankul.com

Q.98 રો સિવેજ (પ્રક્રિયા કર્યા વગરના ગટરના પાણી) દ્વારા પીવાના પાણીના સ્ત્રોતો દૂષિત થવાને કારણે ઉદ્ભવતું મુખ્ય જાહેર આરોગ્યનું જોખમ શું છે?

Ans
✗ 1. ઓગળેલા ક્ષારોથી સ્વાદ અને દુર્ગંધ (odour)ની સમસ્યાઓ

✗ 2. ભારે ધાતુઓને કારણે પાણીની વધેલી કઠિનતા (hardness)

✓ 3. પેથોજન્સ (રોગકારક સૂક્ષ્મજીવાણુઓ) દ્વારા પાણીજન્ય (waterborne) ચેપી રોગોનો ફેલાવો

✗ 4. ફાર્માસ્યુટિકલ અવશેષો (pharmaceutical residues)ને કારણે થતા દીર્ઘકાલીન રોગો

Question Type : **MCQ**
Question ID : **4410091364793**
Option 1 ID : **4410095390777**
Option 2 ID : **4410095390776**
Option 3 ID : **4410095390774**
Option 4 ID : **4410095390775**
Status : **Answered**
Chosen Option : **3**

Q.99 વ્યવસાયિક સ્વાસ્થ્ય અને સલામતી વ્યવસ્થાપન પ્રણાલી (Occupational health and safety system) માં સક્રિય વ્યવસ્થાપન પ્રતિબદ્ધતા (active management commitment) નું શું મહત્વ છે?

Ans
✗ 1. સુરક્ષા ચેકલિસ્ટનો ઉપયોગ મર્યાદિત કરવો

✓ 2. કર્મચારીઓ માટે એક ઉદાહરણ પૂરું પાડવા અને મજબૂત સુરક્ષા સંસ્કૃતિને પ્રોત્સાહન આપવું

✗ 3. માત્ર મેનેજરો જ સુરક્ષા માટે જવાબદાર રહે તે સુનિશ્ચિત કરવું

✗ 4. કામદારો માટે સુરક્ષા તાલીમની જરૂરિયાત ઘટાડવી

Question Type : **MCQ**
Question ID : **4410091272795**
Option 1 ID : **4410095023199**
Option 2 ID : **4410095023197**
Option 3 ID : **4410095023196**
Option 4 ID : **4410095023198**
Status : **Answered**
Chosen Option : **2**

Q.100 નીચેનામાંથી કયા પોષક તત્ત્વની ઉણપને કારણે પર્નિશિયસ એનિમીયા (pernicious anaemia) થાય છે?

Ans
✗ 1. વિટામિન D

✗ 2. વિટામિન B6

✗ 3. વિટામિન A

✓ 4. વિટામિન B12

Question Type : **MCQ**
Question ID : **4410091346120**
Option 1 ID : **4410095316795**
Option 2 ID : **4410095316793**
Option 3 ID : **4410095316792**
Option 4 ID : **4410095316794**
Status : **Answered**
Chosen Option : **4**

WEBSANKUL

Downloaded from websankul.com

Q.101 "જિલ્લા પરિષદ" એ ભારતમાં પંચાયતી રાજ પ્રણાલીનું ત્રીજું સ્તર છે, જે નીચેમાંથી કયા સ્તરે કાર્યરત છે?

Ans
✗ 1. ગ્રામ્ય સ્તરે (Village level)
✗ 2. રાજ્ય સ્તરે (State level)
✓ 3. જિલ્લા સ્તરે (District level)
✗ 4. બ્લોક / તાલુકા સ્તરે (Block level)

Question Type : **MCQ**
Question ID : **4410091245720**
Option 1 ID : **4410094916158**
Option 2 ID : **4410094916161**
Option 3 ID : **4410094916160**
Option 4 ID : **4410094916159**
Status : **Answered**
Chosen Option : **4**

Q.102 ટ્વેન્ટી પોઈન્ટ પ્રોગ્રામ (Twenty Point Programme) નો મુખ્ય ઉદ્દેશ શું હતો?

Ans
✗ 1. માત્ર લશ્કરી/સૈન્ય આધુનિકીકરણ અને સંરક્ષણ ખર્ચ પર ધ્યાન કેન્દ્રિત કરવું
✗ 2. મોટા પાયે ઔદ્યોગિકીકરણ અને વિદેશી રોકાણને પ્રોત્સાહન આપવું
✓ 3. ગરીબી નાબૂદી અને વંચિતો/ગરીબોના જીવનધોરણમાં સુધારો કરવો
✗ 4. સંપૂર્ણ સમાજવાદી અર્થતંત્રની સ્થાપના કરવી

Question Type : **MCQ**
Question ID : **4410091245728**
Option 1 ID : **4410094916193**
Option 2 ID : **4410094916192**
Option 3 ID : **4410094916191**
Option 4 ID : **4410094916190**
Status : **Answered**
Chosen Option : **3**

Q.103 શહેરી ઝૂંપડપટ્ટી વિસ્તારમાં રહેતા પરિવારના પોષણ સંબંધી જોખમનું મૂલ્યાંકન કરતી વખતે કયા પરિબળને પ્રાથમિકતા આપવી જોઈએ?

Ans
✓ 1. પરિવારોની પોસાય તેવા અને વિવિધ પ્રકારના ખાદ્ય સ્રોતો સુધી પહોંચ
✗ 2. પોષણ વિષયો અંગે માતા-પિતાનું શૈક્ષણિક સ્તર
✗ 3. આ વિસ્તારમાં રહેઠાણ માળખાની ગુણવત્તા
✗ 4. ઘરના સભ્યોમાં શારીરિક પ્રવૃત્તિનું સ્તર

Question Type : **MCQ**
Question ID : **4410092127537**
Option 1 ID : **4410098375676**
Option 2 ID : **4410098375675**
Option 3 ID : **4410098375674**
Option 4 ID : **4410098375677**
Status : **Answered**
Chosen Option : **3**

WEBSANKUL
Downloaded from websankul.com

Q.104 પોષણ મૂલ્યાંકનમાં બોડી માસ ઇન્ડેક્સ (BMI) ગણવા માટેનું સાચું સૂત્ર કયું છે?

Ans
✗ 1. વજન એ કિલોગ્રામમાં × ઊંચાઈ એ મીટરમાં (Weight in kilograms × Height in meters)

✗ 2. વજન એ પાઉન્ડમાં × ઊંચાઈ એ ઇંચમાં (Weight in pounds × Height in inches)

✓ 3. વજન એ કિલોગ્રામમાં / ઊંચાઈ એ ચોરસ મીટરમાં (Weight in kilograms / (Height in meters squared)

✗ 4. ઊંચાઈ એ મીટરમાં / વજન એ કિલોગ્રામમાં (Height in meters / Weight in kilograms)

Question Type : **MCQ**
Question ID : **4410091364620**
Option 1 ID : **4410095390091**
Option 2 ID : **4410095390093**
Option 3 ID : **4410095390092**
Option 4 ID : **4410095390090**
Status : **Answered**
Chosen Option : **3**

Q.105 સામુદાયિક પોષણ શિક્ષણની સામગ્રીઓ વિવિધ પ્રકારના લક્ષિત જૂથો માટે અસરકારક અને સમજવામાં સરળ બને તે સુનિશ્ચિત કરવા માટે કઈ ડિઝાઇન વિશેષતા સૌથી મહત્ત્વપૂર્ણ છે?

Ans
✗ 1. અદ્યતન તબીબી શબ્દાવલિ

✓ 2. સાંસ્કૃતિક રીતે અનુકૂળ ભાષા

✗ 3. જટિલ જૈવ-રાસાયણિક પારિભાષિક શબ્દો

✗ 4. લાંબા સૈદ્ધાંતિક ફકરાઓ

Question Type : **MCQ**
Question ID : **4410092128433**
Option 1 ID : **4410098379183**
Option 2 ID : **4410098379180**
Option 3 ID : **4410098379181**
Option 4 ID : **4410098379182**
Status : **Answered**
Chosen Option : **2**

Q.106 સ્ટિરિલાઇઝેશન (જંતુમુક્ત કરવા) માટે ઓટોક્લેવ કેવી રીતે કાર્ય કરે છે?

Ans
✓ 1. ભેજયુક્ત તાપમાન દ્વારા પ્રોટીન અને કોષની રચનાઓનું ડીનેચરેશન (વિઘટન) કરીને

✗ 2. દબાણમાં ઝડપી ફેરફાર દ્વારા તેમની કોષ પટલને તોડીને

✗ 3. ઉચ્ચ-તીવ્રતાવાળા રેડિયેશન (વિકિરણ) ના સંપર્કમાં લાવીને

✗ 4. ગરમ હવાના પ્રવાહથી તેમને સૂકવીને

Question Type : **MCQ**
Question ID : **4410091245647**
Option 1 ID : **4410094915868**
Option 2 ID : **4410094915869**
Option 3 ID : **4410094915866**
Option 4 ID : **4410094915867**
Status : **Answered**
Chosen Option : **4**

WEBSANKUL

Downloaded from websankul.com

Q.107 કયા અગ્રણી રોગચાળાના નિષ્ણાત (એપિડેમિયોલોજિસ્ટ) ને 'વેબ ઓફ કોઝેશન' મોડેલને ઔપચારિક અને લોકપ્રિય બનાવવાનો વ્યાપક શ્રેય આપવામાં આવે છે?

Ans
✗ 1. જોન સ્નો (John Snow)
✗ 2. રોબર્ટ કોચ (Robert Koch)
✗ 3. કેનેથ રોથમેન (Kenneth Rothman)
✓ 4. મેકમેહોન અને પ્યુગ (MacMahon and Pugh)

Question Type : **MCQ**
Question ID : **4410091345906**
Option 1 ID : **4410095315950**
Option 2 ID : **4410095315951**
Option 3 ID : **4410095315949**
Option 4 ID : **4410095315948**
Status : **Answered**
Chosen Option : **4**

Q.108 ઇક્ટેરસ (Icterus) માટે અન્ય નામ શું છે?

Ans
✗ 1. ક્લબિંગ (Clubbing)
✗ 2. એરિથેમા (Erythema)
✓ 3. જોન્ડિસ (Jaundice)
✗ 4. સાયનોસિસ (Cyanosis)

Question Type : **MCQ**
Question ID : **4410091364481**
Option 1 ID : **4410095389542**
Option 2 ID : **4410095389545**
Option 3 ID : **4410095389544**
Option 4 ID : **4410095389543**
Status : **Not Attempted and Marked For Review**
Chosen Option : **--**

Q.109 નીચેનામાંથી કયો ચેપ સ્વાઈન ફ્લૂ તરીકે પણ ઓળખાય છે?

Ans
✓ 1. H1N1
✗ 2. H5N1
✗ 3. H3N1
✗ 4. H7N1

Question Type : **MCQ**
Question ID : **4410091241872**
Option 1 ID : **4410094900834**
Option 2 ID : **4410094900836**
Option 3 ID : **4410094900835**
Option 4 ID : **4410094900837**
Status : **Answered**
Chosen Option : **1**

WEBSANKUL
Downloaded from websankul.com

Q.110 કોઈ સંસ્થામાં કામ કરતા કર્મચારી માટે વ્યાવસાયિક સ્વાસ્થ્ય સેવાઓનો મુખ્ય લાભ શું છે?

Ans
✗ 1. કર્મચારીના વ્યક્તિગત નાણાંનું સંચાલન કરવું
✗ 2. કર્મચારીઓ માટે સામાજિક કાર્યક્રમોનું આયોજન કરવું
✗ 3. મફત ખોરાક અને પીણાં પ્રદાન કરવા
✓ 4. કામ સંબંધિત ઈજાઓ અને બીમારીઓને અટકાવવી

Question Type : **MCQ**
Question ID : **4410091245159**
Option 1 ID : **4410094913917**
Option 2 ID : **4410094913916**
Option 3 ID : **4410094913918**
Option 4 ID : **4410094913919**
Status : **Answered**
Chosen Option : **4**

Q.111 પાણીના રાસાયણિક વિશ્લેષણના સંદર્ભમાં VOC સંક્ષેપનું પૂરું નામ શું છે?

Ans
✗ 1. વાઈબ્રેશન ઓસ્મોસિસ કંટ્રોલ્ડ (Vibration Osmosis Controlled)
✗ 2. વોલેટાઈલ ઓક્સાઈડ કોરોઝન (Volatile Oxide Corrosion)
✗ 3. વેરી કોમ્પ્લેક્સ ઓર્ગેનિઝમ્સ (Very Complex Organisms)
✓ 4. વોલેટાઈલ ઓર્ગેનિક કમ્પાઉન્ડ્સ (Volatile Organic Compounds)

Question Type : **MCQ**
Question ID : **4410091346628**
Option 1 ID : **4410095318814**
Option 2 ID : **4410095318813**
Option 3 ID : **4410095318816**
Option 4 ID : **4410095318815**
Status : **Answered**
Chosen Option : **4**

Q.112 માનવ પોષણમાં આહારના પ્રોટીન (dietary proteins) શા માટે મહત્ત્વપૂર્ણ છે?

Ans
✗ 1. તેઓ સૂક્ષ્મ પોષક તત્ત્વો હોવાને કારણે
✗ 2. સીધા ઊર્જા ઉત્પાદન માટે
✓ 3. તેઓ પેશીઓની વૃદ્ધિ અને સમારકામમાં મદદરૂપ હોવાને કારણે
✗ 4. ત્વચાની નીચે ચરબીના સંગ્રહ માટે

Question Type : **MCQ**
Question ID : **4410092128423**
Option 1 ID : **4410098379141**
Option 2 ID : **4410098379142**
Option 3 ID : **4410098379143**
Option 4 ID : **4410098379140**
Status : **Answered**
Chosen Option : **3**

WEBSANKUL
Downloaded from websankul.com

Q.113 રોગ નિયંત્રણ માટે વહીવટી નિયંત્રણો અને વ્યક્તિગત રક્ષણાત્મક સાધનો (Personal Protective Equipment) કરતાં સામાન્ય રીતે એન્જિનિયરિંગ પદ્ધતિ શા માટે વધુ પસંદ કરવામાં આવે છે?

Ans
✔ 1. તેઓ જોખમને તેના સ્ત્રોત પરથી જ દૂર કરે છે અને માનવ વર્તણૂક પર આધાર રાખતા નથી.
✘ 2. તે અમલમાં મૂકવા અને ઉપયોગ કરવામાં વધુ સરળ છે.
✘ 3. તેમને અમલમાં મૂકવા હંમેશાં સસ્તા પડે છે.
✘ 4. તેને ઓછા જાળવણીની જરૂર પડે છે અને કોઈ વીજળી કે પાવર સપ્લાયની જરૂર પડતી નથી.

Question Type : **MCQ**
Question ID : **4410091245764**
Option 1 ID : **4410094916336**
Option 2 ID : **4410094916334**
Option 3 ID : **4410094916337**
Option 4 ID : **4410094916335**
Status : **Answered**
Chosen Option : **1**

Q.114 પરિવારના પોષણ અંગેના પ્રમાણભૂત મૂલ્યાંકન દરમિયાન કઈ માહિતીની જરૂર પડવાની શક્યતા સૌથી ઓછી હોય છે?

Ans
✔ 1. ચેપી રોગોનો વિગતવાર ક્લિનિકલ ઇતિહાસ
✘ 2. ઉપયોગમાં લેવાતા મુખ્ય ખાદ્ય પદાર્થોના સામાન્ય સ્રોતો
✘ 3. ઘરગથ્થુ ખાદ્ય બજેટ માહિતી
✘ 4. પરિવાર માટે ભોજન લેવાની સામાન્ય આવૃત્તિ

Question Type : **MCQ**
Question ID : **4410092127536**
Option 1 ID : **4410098375671**
Option 2 ID : **4410098375673**
Option 3 ID : **4410098375672**
Option 4 ID : **4410098375670**
Status : **Answered**
Chosen Option : **3**

Q.115 પોષણ મૂલ્યાંકન (Nutritional Assessment)ના સંદર્ભમાં, સંક્ષેપ BMI નું પૂરું નામ શું થાય છે?

Ans
✘ 1. બેઝલ મેટાબોલિક ઇન્ડિકેટર (Basal Metabolic Indicator)
✘ 2. બાયોલોજિકલ મેચ્યોરિટી ઇન્ડેક્સ (Biological Maturity Index)
✔ 3. બોડી માસ ઇન્ડેક્સ (Body Mass Index)
✘ 4. બોન માસ ઇન્ડેક્સ (Bone Mass Index)

Question Type : **MCQ**
Question ID : **4410091364616**
Option 1 ID : **4410095390075**
Option 2 ID : **4410095390077**
Option 3 ID : **4410095390076**
Option 4 ID : **4410095390074**
Status : **Answered**
Chosen Option : **3**

WEBSANKUL
Downloaded from websankul.com

Q.116 'ક્રેમેટર' (Cremator) માટે બીજો કયો સામાન્ય શબ્દ વપરાય છે?

Ans
✗ 1. સોનિકેટર (Sonicator)
✓ 2. રીટોર્ટ (Retort)
✗ 3. માઇક્રોવેવ (Microwave)
✗ 4. હાઇડ્રોક્લેવ (Hydroclave)

Question Type : **MCQ**
Question ID : **4410091275059**
Option 1 ID : **4410095032275**
Option 2 ID : **4410095032277**
Option 3 ID : **4410095032278**
Option 4 ID : **4410095032276**
Status : **Not Answered**
Chosen Option : **--**

Q.117 દાંત સાફ કરવાની પ્રક્રિયા (બ્રશ કરવું) એ મુખ્યત્વે કયા પદાર્થને દાંતની સપાટી પરથી યાંત્રિક રીતે દૂર કરવા માટે કરવામાં આવે છે?

Ans
✓ 1. પ્લાક (Plaque)
✗ 2. મીનાવરણ (enamel)
✗ 3. ટાર્ટર (calculus)
✗ 4. લાળ (Saliva)

Question Type : **MCQ**
Question ID : **4410091361593**
Option 1 ID : **4410095378424**
Option 2 ID : **4410095378422**
Option 3 ID : **4410095378423**
Option 4 ID : **4410095378421**
Status : **Answered**
Chosen Option : **1**

Q.118 જ્યારે કૌટુંબિક મૂલ્યાંકન દ્વારા એ જાણવા મળે કે બાળપણમાં વારંવાર થતા ઝાડા પોષણ સાથે સંબંધિત છે, ત્યારે સૌથી અસરકારક પ્રારંભિક પગલું કયું છે?

Ans
✗ 1. બાળકને તાત્કાલિક તબીબી સારવાર માટે મોકલો
✗ 2. બાળકો માટે ભોજનના ભાગનું કદ વધારો
✓ 3. ખોરાકની તૈયારી અને સંગ્રહમાં સ્વચ્છતા પ્રથાઓનું મૂલ્યાંકન કરો
✗ 4. પરિવારને સંતુલિત ખાદ્ય જૂથોની પસંદગી કરવા અંગે સલાહ આપો

Question Type : **MCQ**
Question ID : **4410092127535**
Option 1 ID : **4410098375669**
Option 2 ID : **4410098375667**
Option 3 ID : **4410098375668**
Option 4 ID : **4410098375666**
Status : **Answered**
Chosen Option : **3**

WEBSANKUL

Downloaded from websankul.com

Q.119 શરીરને ઊર્જાનું સૌથી સંકેન્દ્રિત સ્વરૂપ કયું પોષક તત્ત્વ પૂરું પાડે છે?

Ans
✗ 1. પ્રોટીન
✗ 2. કાર્બોહાઇડ્રેટ
✓ 3. ફેટ
✗ 4. વિટામિન

Question Type : **MCQ**
Question ID : **4410092128426**
Option 1 ID : **4410098379154**
Option 2 ID : **4410098379153**
Option 3 ID : **4410098379152**
Option 4 ID : **4410098379155**
Status : **Answered**
Chosen Option : **2**

Q.120 મહત્તમ સુરક્ષા માટે નીચેનામાંથી કઈ શ્રેડિંગ (ટુકડા કરવાની) પદ્ધતિ સામાન્ય રીતે શ્રેષ્ઠ વિકલ્પ ગણવામાં આવે છે?

Ans
✗ 1. સ્ટ્રીપ-કટ શ્રેડિંગ (Strip-cut shredding)
✓ 2. માઇક્રો-કટ શ્રેડર્સ (Micro-cut shredders)
✗ 3. દસ્તાવેજોને હાથથી ફાડી નાખવા
✗ 4. શ્રેડિંગ કર્યા વગર દસ્તાવેજોનું રિસાયકલિંગ કરવું

Question Type : **MCQ**
Question ID : **4410091346469**
Option 1 ID : **4410095318176**
Option 2 ID : **4410095318177**
Option 3 ID : **4410095318178**
Option 4 ID : **4410095318179**
Status : **Answered**
Chosen Option : **2**

Q.121 ક્યો આહાર સ્વાસ્થ્યપ્રદ ચરબી (healthy fats) નો સારો સ્રોત છે?

Ans
✗ 1. લીન ચિકન બ્રેસ્ટ
✓ 2. સૂકો મેવો અને બીજ
✗ 3. વ્હાઇટ બ્રેડ
✗ 4. લીલી પાંદડાવાળા શાકભાજી

Question Type : **MCQ**
Question ID : **4410092128438**
Option 1 ID : **4410098379203**
Option 2 ID : **4410098379201**
Option 3 ID : **4410098379202**
Option 4 ID : **4410098379200**
Status : **Answered**
Chosen Option : **2**

WEBSANKUL

Downloaded from websankul.com

Q.122 મ્યુનિસિપલ વેસ્ટવોટર ટ્રીટમેન્ટ પ્લાન્ટનું મુખ્ય કાર્ય શું છે?

Ans
✗ 1. સમુદાયના ગંદા પાણીમાંથી વીજળી ઉત્પન્ન કરવી
✗ 2. શહેરના તમામ સીવેજને મોટા તળાવોમાં સંગ્રહિત કરવું
✗ 3. શહેરના નાળાઓમાંથી વરસાદી પાણીને ફિલ્ટર કરીને તેને નદી કે સમુદ્રમાં છોડવું
✓ 4. સીવેજને નદી અથવા સમુદ્રમાં છોડતા પહેલાં તેને સાફ અને શુદ્ધ કરવું

Question Type : **MCQ**
Question ID : **4410091245640**
Option 1 ID : **4410094915838**
Option 2 ID : **4410094915839**
Option 3 ID : **4410094915840**
Option 4 ID : **4410094915841**
Status : **Answered**
Chosen Option : **4**

Q.123 ભારતમાં 1975 માં શરૂ કરવામાં આવેલા ICDS કાર્યક્રમનું પૂરું નામ શું છે?

Ans
✗ 1. ઇન્ટર-કમ્યુનિટી ડિસીઝ સર્વેલન્સ (Inter-Community Disease Surveillance)
✗ 2. ઇન્ડિયન ચાઇલ્ડ ડેવલપમેન્ટ સ્કીમ (Indian Child Development Scheme)
✓ 3. ઇન્ટિગ્રેટેડ ચાઇલ્ડ ડેવલપમેન્ટ સર્વિસીસ (Integrated Child Development Services)
✗ 4. ઇન્ટરનેશનલ સેન્ટર ફોર ડિજિટલ સ્ટાન્ડર્ડ્સ (International Centre for Digital Standards)

Question Type : **MCQ**
Question ID : **4410091362644**
Option 1 ID : **4410095382515**
Option 2 ID : **4410095382512**
Option 3 ID : **4410095382513**
Option 4 ID : **4410095382514**
Status : **Answered**
Chosen Option : **2**

Q.124 પ્લમ્બિંગ ટ્રેપ (Plumbing trap) નો નીચેનામાંથી કયો ભાગ વોટર સીલ (Water seal) જાળવી રાખે છે?

Ans
✗ 1. સિસ્ટમની ઊભી આઉટલેટ પાઇપ
✓ 2. S-આકારના વળાંકનો સૌથી નીચેનો પોઇન્ટ
✗ 3. યુનિટની મુખ્ય સીવર (sewer) લાઇન
✗ 4. સિસ્ટમની આડી ડ્રેઇન પાઇપ

Question Type : **MCQ**
Question ID : **4410091275072**
Option 1 ID : **4410095032329**
Option 2 ID : **4410095032328**
Option 3 ID : **4410095032327**
Option 4 ID : **4410095032330**
Status : **Answered**
Chosen Option : **2**

WEBSANKUL

Downloaded from websankul.com

Q.125 ભારતમાં આપત્તિ વ્યવસ્થાપન માટે સર્વોચ્ચ સત્તા (apex authority) કઈ છે?

Ans
✗ 1. ડિસ્ટ્રિક્ટ ડિઝાસ્ટર મેનેજમેન્ટ ઓથોરિટી (DDMA)

✓ 2. નેશનલ ડિઝાસ્ટર મેનેજમેન્ટ ઓથોરિટી (NDMA)

✗ 3. સ્ટેટ ડિઝાસ્ટર મેનેજમેન્ટ ઓથોરિટી (SDMA)

✗ 4. નેશનલ ડિઝાસ્ટર રિસ્પોન્સ ફોર્સ (NDRF)

Question Type : **MCQ**
Question ID : **4410091346915**
Option 1 ID : **4410095319951**
Option 2 ID : **4410095319949**
Option 3 ID : **4410095319950**
Option 4 ID : **4410095319948**
Status : **Answered**
Chosen Option : **2**

Q.126 સિવેજ (Sewage) અને સલેજ (Sullage) વચ્ચેનો મુખ્ય તફાવત શું છે?

Ans
✗ 1. સિવેજ એ પ્રવાહી કચરો (liquid waste) છે; સલેજ એ ઘન કચરો (solid waste) છે.

✓ 2. સિવેજમાં માનવ મળમૂત્ર (human excreta) સમાવિષ્ટ હોય છે; સલેજ એ ગંદું પાણી (wastewater) હોય છે.

✗ 3. સિવેજ એ ઔદ્યોગિક અપશિષ્ટ (industrial waste) છે; સલેજ એ ઘરગથ્થુ અપશિષ્ટ (domestic waste) છે.

✗ 4.
સલેજમાં માનવ મળમૂત્ર (human excreta) સમાવિષ્ટ હોય છે; જ્યારે કે સિવેજમાં તે સમાવિષ્ટ હોતું નથી.

Question Type : **MCQ**
Question ID : **4410091364790**
Option 1 ID : **4410095390764**
Option 2 ID : **4410095390763**
Option 3 ID : **4410095390762**
Option 4 ID : **4410095390765**
Status : **Answered**
Chosen Option : **2**

Q.127 થીજવેલા (ફ્રોઝન) ખોરાકને સુરક્ષિત રીતે ઓગળવા માટેની આદર્શ રીત કઈ છે?

Ans
✓ 1. રેફ્રિજરેટરમાં ≤5°C તાપમાને રાખવો

✗ 2. ગરમ પાણીના વાસણમાં મૂકવો

✗ 3. સૂર્યપ્રકાશમાં ઓગળવા માટે બહાર છોડી દેવો

✗ 4. રસોડાના પ્લેટફોર્મ પર ઓરડાના તાપમાને રાખવો

Question Type : **MCQ**
Question ID : **4410091274120**
Option 1 ID : **4410095028526**
Option 2 ID : **4410095028524**
Option 3 ID : **4410095028525**
Option 4 ID : **4410095028523**
Status : **Answered**
Chosen Option : **1**

WEBSANKUL

Downloaded from websankul.com

Q.128 મ્યુનિસિપલ ઘન કચરાનું કદ (વોલ્યુમ) ઘટાડવા હેતુ તેને કચડવાની અને દળવાની (ક્રશિંગ અને ગ્રાઇન્ડિંગ) પ્રક્રિયાને શું કહેવામાં આવે છે?

Ans
✗ 1. કમ્પોસ્ટિંગ (Composting)
✓ 2. પલ્વરાઇઝેશન (Pulverization)
✗ 3. પેલેટાઇઝેશન (Palletization)
✗ 4. શ્રેડિંગ (Shredding)

Question Type : **MCQ**
Question ID : **4410091361484**
Option 1 ID : **4410095377990**
Option 2 ID : **4410095377991**
Option 3 ID : **4410095377992**
Option 4 ID : **4410095377989**
Status : **Answered**
Chosen Option : **3**

Q.129 અગાઉથી કાર્યરત NRHM અને નવા શરૂ કરાયેલા NUHM ને સમાવિષ્ટ કરતાં, વ્યાપક રાષ્ટ્રીય આરોગ્ય મિશન (NHM)-ની સત્તાવાર રીતે શરૂઆત ભારતમાં ક્યારે કરવામાં આવી હતી?

Ans
✓ 1. 2013
✗ 2. 2020
✗ 3. 2005
✗ 4. 2019

Question Type : **MCQ**
Question ID : **4410091362585**
Option 1 ID : **4410095382280**
Option 2 ID : **4410095382282**
Option 3 ID : **4410095382283**
Option 4 ID : **4410095382281**
Status : **Answered**
Chosen Option : **1**

Q.130 નિર્દિષ્ટ વસ્તીમાં ટૂંકા સમયગાળામાં મોટી સંખ્યામાં લોકોમાં રોગનો ઝડપી ફેલાવો કયો છે?

Ans
✗ 1. વૈશ્વિક રોગચાળો (Pandemic)
✗ 2. છૂટાછવાયા કેસો (Sporadic)
✗ 3. સ્થાયી રોગ (Endemic)
✓ 4. સ્થાનિક રોગચાળો (Epidemic)

Question Type : **MCQ**
Question ID : **4410091345901**
Option 1 ID : **4410095315928**
Option 2 ID : **4410095315929**
Option 3 ID : **4410095315930**
Option 4 ID : **4410095315931**
Status : **Answered**
Chosen Option : **4**

WEBSANKUL
Downloaded from websankul.com

Q.131 અમેરિકન હાર્ટ એસોસિએશન (AHA) ની વર્તમાન માર્ગદર્શિકા અનુસાર, પુખ્ત વયના પીડિત પર એક-રેસ્ક્યુઅર (બચાવકર્તા) અને બે-રેસ્ક્યુઅર CPR માં કમ્પ્રેશન-ટુ-વેન્ટિલેશનનો ગુણોત્તર કેટલો હોય છે?

Ans
✗ 1. એક-રેસ્ક્યુઅર અને બે-રેસ્ક્યુઅર બંને CPR માં 15:2
✓ 2. એક-રેસ્ક્યુઅર અને બે-રેસ્ક્યુઅર બંને CPR માં 30:2
✗ 3. એક-રેસ્ક્યુઅર CPR માં 30:2 અને બે-રેસ્ક્યુઅર CPR માં 15:2
✗ 4. એક-રેસ્ક્યુઅર CPR માં 15:2 અને બે-રેસ્ક્યુઅર CPR માં 30:2

Question Type : **MCQ**
Question ID : **4410091346736**
Option 1 ID : **4410095319229**
Option 2 ID : **4410095319231**
Option 3 ID : **4410095319230**
Option 4 ID : **4410095319232**
Status : **Answered**
Chosen Option : **2**

Q.132 નેશનલ વેક્ટર બોર્ન ડિસીઝ કંટ્રોલ પ્રોગ્રામ (National Vector Borne Disease Control Programme - NVBDCP) અંતર્ગત કાલા-અઝાર (Kala-azar) ને અટકાવવા માટે નીચેનામાંથી કયા વેક્ટરને નિયંત્રિત કરવામાં આવે છે?

Ans
✓ 1. સેન્ડફ્લાય (Sandfly)
✗ 2. ત્સે-ત્સે ફ્લાય (Tse-tse fly)
✗ 3. મચ્છર (Mosquito)
✗ 4. ચાંચડ (Flea)

Question Type : **MCQ**
Question ID : **4410091274030**
Option 1 ID : **4410095028159**
Option 2 ID : **4410095028160**
Option 3 ID : **4410095028162**
Option 4 ID : **4410095028161**
Status : **Answered**
Chosen Option : **1**

Q.133 ઑટોક્લેવમાં પ્રાથમિક સ્ટરિલાઈઝેશન એજન્ટ કયું છે?

Ans
✗ 1. શુષ્ક ઉષ્મા
✓ 2. ભેજયુક્ત ઉષ્મા
✗ 3. વિકિરણ
✗ 4. રસાયણો

Question Type : **MCQ**
Question ID : **4410091346454**
Option 1 ID : **4410095318120**
Option 2 ID : **4410095318123**
Option 3 ID : **4410095318122**
Option 4 ID : **4410095318121**
Status : **Answered**
Chosen Option : **1**

WEBSANKUL
Downloaded from websankul.com

Q.134 બાયોમેડિકલ વેસ્ટ મેનેજમેન્ટ નિયમો, 2016 મુજબ, નીચેનામાંથી કયા પ્રકાર (કેટેગરી)ના કચરાનો નિકાલ લાલ રંગની કચરાપેટીમાં કરવો જોઈએ?

Ans
✗ 1. કાચની તૂટેલી વસ્તુઓ અને ધાતુના શરીર-પ્રત્યારોપણ (body implants)

✗ 2. મલિન થયેલું લિનન અને ફેંકી દેવાયેલી રક્તની થેલીઓ (blood bags)

✓ 3. દૂષિત પ્લાસ્ટિકની વસ્તુઓ, જેમ કે હાથના મોજાં (gloves) અને આઈવી ટ્યુબ્સ

✗ 4. માનવ એનાટોમિકલ કચરો અને વાપરવાની તારીખ સમાપ્ત થયેલી દવાઓ (expired medicines)

Question Type : **MCQ**
Question ID : **4410091346905**
Option 1 ID : **4410095319908**
Option 2 ID : **4410095319910**
Option 3 ID : **4410095319911**
Option 4 ID : **4410095319909**
Status : **Answered**
Chosen Option : **3**

Q.135 ભારતમાં પ્રજનન અને બાળ આરોગ્ય (Reproductive and Child Health - RCH) કાર્યક્રમનો મુખ્ય ધ્યેય શું છે?

Ans
✗ 1. જન્મદરમાં વધારો કરવો અને મૃત્યુદરમાં ઘટાડો કરવો

✗ 2. માત્ર વસ્તી નિયંત્રણ

✗ 3. માત્ર બાળજન્મ માટે નાણાકીય સહાય પૂરી પાડવી

✓ 4. માતા અને શિશુ મૃત્યુદરમાં ઘટાડો કરવો

Question Type : **MCQ**
Question ID : **4410091245708**
Option 1 ID : **4410094916111**
Option 2 ID : **4410094916110**
Option 3 ID : **4410094916113**
Option 4 ID : **4410094916112**
Status : **Answered**
Chosen Option : **4**

Q.136 નીચેનામાંથી કયા સાંધાનું વર્ગીકરણ ખલ-દસ્તો સાંધો (બોલ એન્ડ સોકેટ જોઈન્ટ) તરીકે થાય છે?

Ans
✗ 1. ટિબિયા (Tibia) અને ટેલસ (Talus) વચ્ચેનો સાંધો

✗ 2. અલ્ના (Ulna) અને હ્યુમરસ (Humerus) વચ્ચેનો સાંધો

✓ 3. નિતંબની મેખલા (Pelvis) અને ફીમર (Femur) વચ્ચેનો સાંધો

✗ 4. કાંડાના મણિબંધાસ્થિઓ (carpals) વચ્ચેનો સાંધો

Question Type : **MCQ**
Question ID : **4410091361524**
Option 1 ID : **4410095378152**
Option 2 ID : **4410095378149**
Option 3 ID : **4410095378151**
Option 4 ID : **4410095378150**
Status : **Not Answered**
Chosen Option : **--**

WEBSANKUL

Downloaded from websankul.com

Q.137 ત્રિ-સ્તરીય આરોગ્ય પ્રણાલીના નીચેનામાંથી કયો સ્તર જટિલ રોગોની સારવાર, અદ્યતન સર્જરી (શસ્ત્રક્રિયા) અને તબીબી સંશોધન માટે સજ્જ છે?

Ans
✗ 1. પ્રાથમિક સ્તર (Primary Level)
✓ 2. તૃતીયક સ્તર (Tertiary Level)
✗ 3. સ્થાનિક સ્તર (Local Level)
✗ 4. દ્વિતીયક સ્તર (Secondary Level)

Question Type : **MCQ**
Question ID : **4410091275365**
Option 1 ID : **4410095033471**
Option 2 ID : **4410095033473**
Option 3 ID : **4410095033474**
Option 4 ID : **4410095033472**
Status : **Answered**
Chosen Option : **2**

Q.138 જૈવ-તબીબી કચરાના વ્યવસ્થાપનના સંદર્ભમાં ઇન્સિનરેશન (incineration)ની સાચી વ્યાખ્યા શું છે?

Ans
✗ 1. કચરાને ઓગાળવા માટે પાણીનો ઉપયોગ કરવો
✗ 2. સૂક્ષ્મજીવોનો ઉપયોગ કરીને કચરાનું વિઘટન કરવું
✓ 3. કચરાના કદને ઘટાડવા માટે તેને અત્યંત ઊંચા તાપમાને બાળી નાખવો
✗ 4. લાંબા ગાળાના સંગ્રહ માટે કચરાને જમીનમાં દાટી દેવો

Question Type : **MCQ**
Question ID : **4410091245627**
Option 1 ID : **4410094915789**
Option 2 ID : **4410094915786**
Option 3 ID : **4410094915788**
Option 4 ID : **4410094915787**
Status : **Answered**
Chosen Option : **3**

Q.139 ઇમરજન્સી લાઇફ સપોર્ટ (કટોકટીના સમયમાં જીવન રક્ષક સારવાર)માં અંબુ બેગ (Ambu Bag)ને વર્ણવવા માટે કયો સામાન્ય શબ્દ વપરાય છે?

Ans
✗ 1. મિકેનિકલ વેન્ટિલેટર (Mechanical Ventilator)
✗ 2. કંટીન્યુઅસ પોઝિટિવ એરવે પ્રેશર (CPAP) ડિવાઇસ
✓ 3. બેગ-વાલ્વ-માસ્ક (BVM) રિસસીટેટર (Resuscitator)
✗ 4. લેરીન્જીયલ માસ્ક એરવે (LMA)

Question Type : **MCQ**
Question ID : **4410091364475**
Option 1 ID : **4410095389521**
Option 2 ID : **4410095389519**
Option 3 ID : **4410095389518**
Option 4 ID : **4410095389520**
Status : **Answered**
Chosen Option : **3**

WEBSANKUL

Downloaded from websankul.com

Q.140 નીચેનામાંથી કયો વિકલ્પ ડબ્લ્યુ.એચ.ઓ. (WHO)ની આરોગ્યની વ્યાખ્યામાં સ્પષ્ટપણે સામેલ સુખાકારી (well-being)ના ત્રણ મુખ્ય પરિમાણો (core dimensions)માંથી એક નથી?

Ans
✗ 1. શારીરિક સુખાકારી (Physical well-being)
✓ 2. આધ્યાત્મિક સુખાકારી (Spiritual well-being)
✗ 3. સામાજિક સુખાકારી (Social well-being)
✗ 4. માનસિક સુખાકારી (Mental well-being)

Question Type : **MCQ**
Question ID : **4410091361534**
Option 1 ID : **4410095378190**
Option 2 ID : **4410095378189**
Option 3 ID : **4410095378192**
Option 4 ID : **4410095378191**
Status : **Answered**
Chosen Option : **2**

Q.141 કયું વિધાન સંતુલિત આહાર (balanced diet) ના ખ્યાલનું સૌથી યોગ્ય વર્ણન કરે છે?

Ans
✗ 1. એવો આહાર કે જે મુખ્યત્વે ચરબીના ઊંચા પ્રમાણ પર આધારિત હોય છે.
✗ 2. એવો આહાર કે જેમાં દરરોજ માત્ર ફળો અને શાકભાજી જ હોય છે.
✗ 3. એવો આહાર કે જે તમામ કાર્બોહાઇડ્રેટ્સને સંપૂર્ણપણે બાકાત રાખે છે.
✓ 4. એવો આહાર કે જેમાં તમામ મુખ્ય ખાદ્ય જૂથોના યોગ્ય પ્રમાણનો સમાવેશ થાય છે.

Question Type : **MCQ**
Question ID : **4410092128437**
Option 1 ID : **4410098379198**
Option 2 ID : **4410098379199**
Option 3 ID : **4410098379197**
Option 4 ID : **4410098379196**
Status : **Answered**
Chosen Option : **4**

Q.142 કાગળ, પ્લાસ્ટિક અને ધાતુ જેવા સૂકા કચરાને એકત્રિત કરવા માટે કયા રંગની મ્યુનિસિપલ કચરાપેટી (બેગ) નો ઉપયોગ કરવામાં આવે છે?

Ans
✗ 1. કાળો
✓ 2. વાદળી
✗ 3. પીળો
✗ 4. લીલો

Question Type : **MCQ**
Question ID : **4410091346421**
Option 1 ID : **4410095317987**
Option 2 ID : **4410095317986**
Option 3 ID : **4410095317985**
Option 4 ID : **4410095317984**
Status : **Answered**
Chosen Option : **3**

WEBSANKUL
Downloaded from websankul.com

Q.143 નીચેનામાંથી કયા ડાયાબિટીસ મેલીટસને જુવેનાઈલ ડાયાબિટીસ મેલીટસ તરીકે પણ ઓળખવામાં આવે છે?

Ans
✔ 1. ટાઈપ-1
✘ 2. ટાઈપ-4
✘ 3. ટાઈપ-2
✘ 4. ટાઈપ-3

Question Type : **MCQ**
Question ID : **4410091241923**
Option 1 ID : **4410094901038**
Option 2 ID : **4410094901041**
Option 3 ID : **4410094901039**
Option 4 ID : **4410094901040**
Status : **Answered**
Chosen Option : **1**

Q.144 બંધ પડી ગયેલી સેપ્ટિક સિસ્ટમ અથવા ગટરની પાઇપલાઇનનું મુખ્ય પર્યાવરણીય જોખમ શું છે?

Ans
✘ 1. વાતાવરણમાં હવામાં રહેલા ભેજના સ્તરમાં ઘટાડો થવો.
✘ 2. તેનાથી બગીચાનું ઘાસ (લોન) વધુ પડતું લીલું થઈ શકે છે અને આસપાસના પર્યાવરણની સુંદરતા બગડવી.
✘ 3. અતિશય અવાજ (ઘોંઘાટ) પેદા થવો જે પડોશીઓ માટે અડચણ અને વિક્ષેપનું કારણ બનવું.
✔ 4. ભૂગર્ભજળ, કૂવા અને નજીકના તળાવો કે નદીઓ પ્રદૂષિત થવા.

Question Type : **MCQ**
Question ID : **4410091275065**
Option 1 ID : **4410095032300**
Option 2 ID : **4410095032302**
Option 3 ID : **4410095032301**
Option 4 ID : **4410095032299**
Status : **Answered**
Chosen Option : **4**

Q.145 ભારતીય આપત્તિ વ્યવસ્થાપનના સંદર્ભમાં "NDRF" નું પૂરું નામ શું છે?

Ans
✘ 1. નેશનલ ડિઝાસ્ટર રિસ્પોન્સ ફંડ (National Disaster Response Fund)
✘ 2. નેશનલ ડેવલપમેન્ટ એન્ડ રિલીફ ફંડ (National Development and Relief Fund)
✔ 3. નેશનલ ડિઝાસ્ટર રિસ્પોન્સ ફોર્સ (National Disaster Response Force)
✘ 4. નેશનલ ડિઝાસ્ટર રિલીફ ફાઉન્ડેશન (National Disaster Relief Foundation)

Question Type : **MCQ**
Question ID : **4410091274134**
Option 1 ID : **4410095028586**
Option 2 ID : **4410095028583**
Option 3 ID : **4410095028584**
Option 4 ID : **4410095028585**
Status : **Answered**
Chosen Option : **3**

WEBSANKUL
Downloaded from websankul.com

Q.146 કયા પ્રકારની રોગચાળો (મહામારી) કોઈ એક ચોક્કસ અને દૂષિત સ્રોતના સંપર્કમાં આવવાથી શરૂ થાય છે, જેમ કે હોટલનું ભોજન અથવા પાણીનો પુરવઠો?

Ans
✗ 1. અવારનવાર થતો રોગચાળો (Intermittent epidemic)
✗ 2. પ્રસરેલો રોગચાળો (Propagated epidemic)
✗ 3. પ્રાણીજન્ય રોગચાળો (Zoonotic epidemic)
✓ 4. ચોક્કસ સ્રોત આધારિત રોગચાળો (Point source epidemic)

Question Type : **MCQ**
Question ID : **4410091241938**
Option 1 ID : **4410094901098**
Option 2 ID : **4410094901099**
Option 3 ID : **4410094901101**
Option 4 ID : **4410094901100**
Status : **Answered**
Chosen Option : **2**

Q.147 નીચેનામાંથી કયો ખાદ્ય પદાર્થોનો સમૂહ ડાયેટરી ફાઈબર (dietary fiber) નો શ્રેષ્ઠ સ્રોત છે?

Ans
✗ 1. તેલ
✗ 2. ડેરી ઉત્પાદનો
✗ 3. માંસ
✓ 4. શાકભાજી

Question Type : **MCQ**
Question ID : **4410092128439**
Option 1 ID : **4410098379204**
Option 2 ID : **4410098379205**
Option 3 ID : **4410098379207**
Option 4 ID : **4410098379206**
Status : **Answered**
Chosen Option : **4**

Q.148 નીચેનામાંથી કયો ખોરાક પ્રોટીનથી ભરપૂર ખોરાકનું ઉદાહરણ છે?

Ans
✓ 1. ઇંડા
✗ 2. ચોખા
✗ 3. માખણ
✗ 4. નારંગી

Question Type : **MCQ**
Question ID : **4410092128440**
Option 1 ID : **4410098379209**
Option 2 ID : **4410098379208**
Option 3 ID : **4410098379210**
Option 4 ID : **4410098379211**
Status : **Answered**
Chosen Option : **1**

WEBSANKUL
Downloaded from websankul.com

Q.149 કબ્રસ્તાન (સ્મશાન)ના રેકોર્ડમાં પ્લોટ મેપ (નકશા)નું મુખ્ય કાર્ય શું છે?

Ans
✗ 1. કબર પર ફૂલો અને સજાવટનું સ્થાન દર્શાવવા માટે
✗ 2. મુલાકાતીઓ માટે સુશોભિત માર્ગદર્શિકા પ્રદાન કરવા માટે
✓ 3. દફનવિધિના ચોક્કસ અને કાયમી સ્થાનની નોંધ રાખવા માટે
✗ 4. કબ્રસ્તાનમાં દફનાવવામાં આવેલા કુલ લોકોની સંખ્યાનો અંદાજ લગાવવા માટે

Question Type : **MCQ**
Question ID : **4410091245630**
Option 1 ID : **4410094915798**
Option 2 ID : **4410094915799**
Option 3 ID : **4410094915800**
Option 4 ID : **4410094915801**
Status : **Answered**
Chosen Option : **3**

Q.150 જો પોષણ મૂલ્યાંકન દરમિયાન પરિવારના સભ્યોમાં ખાંડયુક્ત પીણાંનું સેવન વારંવાર થતું હોવાનું જણાય, તો કયા સ્વાસ્થ્ય પરિણામ પર સૌથી વધુ નજીકથી દેખરેખ રાખવી જોઈએ?

Ans
✗ 1. પરિવારના તમામ સભ્યો માટે પૂરતું હાઈડ્રેશન
✗ 2. રોગપ્રતિકારક શક્તિના કાર્યમાં સુધારો
✗ 3. આવશ્યક વિટામિન્સનું વધુ સેવન
✓ 4. ચયાપચય સંબંધી વિકારો થવાનું વધતું જોખમ

Question Type : **MCQ**
Question ID : **4410092127534**
Option 1 ID : **4410098375665**
Option 2 ID : **4410098375663**
Option 3 ID : **4410098375662**
Option 4 ID : **4410098375664**
Status : **Answered**
Chosen Option : **1**

Q.151 કાળી માટી (Black Soil), જેને રેગુર માટી (Regur Soil) તરીકે પણ ઓળખવામાં આવે છે, તેને ભારતમાં પ્રાદેશિક રીતે અન્ય સામાન્ય નામ _____ તરીકે પણ ઓળખવામાં આવે છે.

Ans
✗ 1. ખાદર/ ખદર માટી (Khadar Soil)
✗ 2. ભાંગર માટી (Bhangar Soil)
✗ 3. લેટેરાઈટ માટી (Laterite Soil)
✓ 4. કપાસની માટી/ કોટન સોઇલ (Cotton Soil)

Question Type : **MCQ**
Question ID : **4410091346633**
Option 1 ID : **4410095318842**
Option 2 ID : **4410095318844**
Option 3 ID : **4410095318843**
Option 4 ID : **4410095318841**
Status : **Answered**
Chosen Option : **4**

WEBSANKUL

Downloaded from websankul.com

Q.152 પબ્લિક હેલ્થ અધિકારીઓને ભવિષ્યની આરોગ્ય જરૂરિયાતો માટે તૈયારી કરવામાં વસ્તી ગણતરી કઈ રીતે મદદરૂપ થાય છે?

Ans
✔ 1. ભવિષ્યની વસ્તી વૃદ્ધિ અને વસ્તીવિષયક ફેરફારોનું અનુમાન લગાવીને
✘ 2. દરેક રાજ્યમાં આવેલી હોસ્પિટલો અને ક્લિનિક્સની સંખ્યા ગણીને
✘ 3. તે વર્તમાન સમયની તમામ બીમારીઓની ગણતરી પ્રદાન કરે છે
✘ 4. ભૂતકાળના આરોગ્ય અભિયાનોની સફળતાના દસ્તાવેજીકરણ દ્વારા

Question Type : **MCQ**
Question ID : **4410091245341**
Option 1 ID : **4410094914644**
Option 2 ID : **4410094914647**
Option 3 ID : **4410094914646**
Option 4 ID : **4410094914645**
Status : **Answered**
Chosen Option : **1**

Q.153 પ્રધાનમંત્રી ભારતીય જનઔષધિ પરિયોજના (PMBJP) નો મુખ્ય ઉદ્દેશ્ય શું છે?

Ans
✘ 1. વધુ અસરકારકતા ધરાવતી બ્રાન્ડેડ દવાઓને પ્રોત્સાહન આપવું
✘ 2. દવાઓની કિંમતોનું નિયમન કરવું
✔ 3. સસ્તા દરે ગુણવત્તાયુક્ત જેનરિક દવાઓ ઉપલબ્ધ કરાવવી
✘ 4. આવશ્યક દવાઓની ઉપલબ્ધતામાં સુધારો કરવો

Question Type : **MCQ**
Question ID : **4410091272813**
Option 1 ID : **4410095023268**
Option 2 ID : **4410095023271**
Option 3 ID : **4410095023269**
Option 4 ID : **4410095023270**
Status : **Answered**
Chosen Option : **3**

Q.154 NVHCP હેઠળ હિપેટાઇટીસ B અને C ના સંક્રમણને અટકાવવા માટે અપનાવવામાં આવેલી મુખ્ય વ્યૂહરચના કઈ છે?

Ans
✔ 1. સુરક્ષિત ઈન્જેક્શન પદ્ધતિઓ અને રક્તની સુરક્ષા સુનિશ્ચિત કરવી
✘ 2. ખોરાકનું સંચાલન કરતાં તમામ લોકોનું ફરજિયાત પરીક્ષણ કરવું
✘ 3. સમગ્ર વસ્તીનું સામૂહિક રસીકરણ કરવું
✘ 4. જાહેર સ્થળોએ સ્વચ્છતા અને સફાઈને પ્રોત્સાહન આપવું

Question Type : **MCQ**
Question ID : **4410091241911**
Option 1 ID : **4410094900993**
Option 2 ID : **4410094900991**
Option 3 ID : **4410094900990**
Option 4 ID : **4410094900992**
Status : **Answered**
Chosen Option : **1**

WEBSANKUL
Downloaded from websankul.com

Q.155 હેલ્થ ઇન્ફોર્મેશન સિસ્ટમ (HIS) નો મુખ્ય હેતુ શું છે?

Ans
✗ 1. માત્ર હોસ્પિટલની નાણાકીય બાબતોનું સંચાલન કરવું
✗ 2. આંતરરાષ્ટ્રીય આરોગ્ય ધોરણો અને આંતરરાષ્ટ્રીય આરોગ્યના નિયમોનું સંચાલન કરવું
✓ 3. વધુ સારા નિર્ણય લેવા માટે આરોગ્યના ડેટા એકત્રિત કરવા, સંગ્રહ કરવા અને તેનું વિશ્લેષણ કરવું
✗ 4. દર્દીઓને આરોગ્ય વીમા કવચ પૂરું પાડવું

Question Type : **MCQ**
Question ID : **4410091272784**
Option 1 ID : **4410095023152**
Option 2 ID : **4410095023154**
Option 3 ID : **4410095023153**
Option 4 ID : **4410095023155**
Status : **Answered**
Chosen Option : **3**

Q.156 એસિડ વર્ષાના નિર્માણ માટે મુખ્યત્વે કયો પ્રદૂષક જવાબદાર છે?

Ans
✗ 1. કાર્બન મોનોક્સાઈડ
✗ 2. સીસું (Lead)
✗ 3. મિથેન
✓ 4. સલ્ફર ડાયોક્સાઈડ

Question Type : **MCQ**
Question ID : **4410091303060**
Option 1 ID : **4410095144209**
Option 2 ID : **4410095144210**
Option 3 ID : **4410095144212**
Option 4 ID : **4410095144211**
Status : **Answered**
Chosen Option : **4**

Q.157 ભસ્મીકરણ (Incineration) પ્રક્રિયાની મુખ્ય આડપેદાશો કઈ છે?

Ans
✗ 1. રિસાયકલ કરેલી સામગ્રી અને પ્લાસ્ટિક
✗ 2. કમ્પોસ્ટ અને બાયોગેસ
✓ 3. રાખ અને ફ્લુ ગેસ
✗ 4. પાણી અને વરાળ

Question Type : **MCQ**
Question ID : **4410091245615**
Option 1 ID : **4410094915743**
Option 2 ID : **4410094915742**
Option 3 ID : **4410094915744**
Option 4 ID : **4410094915745**
Status : **Answered**
Chosen Option : **3**

WEBSANKUL
Downloaded from websankul.com

Q.158 ઘન કચરાના કમ્પોસ્ટિંગ (ખાતર બનાવવાની પ્રક્રિયા) નો મુખ્ય ફાયદો શું છે?

Ans
✗ 1. તે કચરાના નિકાલની અન્ય તમામ પદ્ધતિઓની જરૂરિયાતને નાબૂદ કરે છે અને તેનો ઉપયોગ દરેક પ્રકારના કચરા માટે થઈ શકે છે.

✓ 2. તે લેન્ડફિલમાં મોકલવામાં આવતા કચરાના પ્રમાણને ઘટાડે છે અને જમીનની ફળદ્રુપતા વધારતું ઉપયોગી સેન્દ્રિય ખાતર તૈયાર કરે છે.

✗ 3. તે હોસ્પિટલ અથવા આરોગ્ય સંભાળ કેન્દ્રમાં આગનું જોખમ ઊભું કરે છે.

✗ 4. તે ભારે નફાકારક ઉદ્યોગ છે અને સંસ્થા માટે વધુ આવક ઊભી કરવામાં મદદ કરે છે

Question Type : **MCQ**
Question ID : **4410091275133**
Option 1 ID : **4410095032573**
Option 2 ID : **4410095032574**
Option 3 ID : **4410095032571**
Option 4 ID : **4410095032572**
Status : **Answered**
Chosen Option : **2**

Q.159 નીચેનામાંથી કયો સામાન્ય પ્રવાહી કચરો (liquid waste) પ્રમાણભૂત સેપ્ટિક સિસ્ટમમાં (standard septic system) દાખલ થતો અટકાવવો જોઈએ?

Ans
✓ 1. ઘરની સફાઈ માટેના રસાયણો અને જંતુનાશકો

✗ 2. રસોડાના સિંકમાંથી નીકળતો નકામો પ્રવાહી કચરો / પાણી

✗ 3. વોશિંગ મશીનમાંથી નીકળતું લોન્ડ્રીનું પાણી

✗ 4. શાવર અથવા બાથટબમાંથી વહેતો નકામો પ્રવાહી કચરો / પાણી

Question Type : **MCQ**
Question ID : **4410091245634**
Option 1 ID : **4410094915814**
Option 2 ID : **4410094915816**
Option 3 ID : **4410094915815**
Option 4 ID : **4410094915817**
Status : **Answered**
Chosen Option : **3**

Q.160 એન્ટિપાયરેટિક (Antipyretic) દવાનું મુખ્ય કાર્ય શું છે?

Ans
✗ 1. દુખાવો ઓછો કરવો

✗ 2. સૂક્ષ્મજીવોનો નાશ કરવો

✓ 3. તાવ ઘટાડવો

✗ 4. સ્નાયુઓના સતત-સંકોચનને ઘટાડવું

Question Type : **MCQ**
Question ID : **4410091247729**
Option 1 ID : **4410094924099**
Option 2 ID : **4410094924101**
Option 3 ID : **4410094924100**
Option 4 ID : **4410094924102**
Status : **Answered**
Chosen Option : **3**

WEBSANKUL

Downloaded from websankul.com

Q.161 સમુદાયને પોષણ સંબંધિત શિક્ષણ પૂરું પાડવા માટે કયું સ્થળ સૌથી વધુ અનુકૂળ છે?

Ans
✗ 1. ફાસ્ટ ફૂડ રેસ્ટોરન્ટ્સ
✓ 2. સામુદાયિક આરોગ્ય કેન્દ્રો
✗ 3. મીઠાઈની દુકાનો
✗ 4. સ્પોર્ટ્સ ક્લબ

Question Type : **MCQ**
Question ID : **4410092128434**
Option 1 ID : **4410098379187**
Option 2 ID : **4410098379186**
Option 3 ID : **4410098379185**
Option 4 ID : **4410098379184**
Status : **Answered**
Chosen Option : **2**

Q.162 કયા પ્રકારનું ન્યુક્લિક એસિડ SARS-CoV-2 વાયરસનું આનુવંશિક દ્રવ્ય (genetic material) બનાવે છે?

Ans
✗ 1. ડબલ-સ્ટ્રેન્ડેડ DNA (Double-stranded DNA)
✓ 2. સિંગલ-સ્ટ્રેન્ડેડ RNA (Single-stranded RNA)
✗ 3. ડબલ-સ્ટ્રેન્ડેડ RNA (Double-stranded RNA)
✗ 4. સિંગલ-સ્ટ્રેન્ડેડ DNA (Single-stranded DNA)

Question Type : **MCQ**
Question ID : **4410091241978**
Option 1 ID : **4410094901261**
Option 2 ID : **4410094901263**
Option 3 ID : **4410094901260**
Option 4 ID : **4410094901262**
Status : **Answered**
Chosen Option : **2**

Q.163 ઉપદંશ (સિફિલિસ) માટે મુખ્યત્વે કયો સૂક્ષ્મજીવ (બેક્ટેરિયા) જવાબદાર છે?

Ans
✓ 1. ટ્રેપોનેમા પેલિડમ (Treponema pallidum)
✗ 2. હર્પીસ સિમ્પ્લેક્સ વાયરસ (Herpes simplex virus)
✗ 3. નાઇસેરિયા ગોનોરી (Neisseria gonorrhoeae)
✗ 4. ક્લેમિડિયા ટ્રેકોમેટિસ (Chlamydia trachomatis)

Question Type : **MCQ**
Question ID : **4410091241894**
Option 1 ID : **4410094900923**
Option 2 ID : **4410094900925**
Option 3 ID : **4410094900924**
Option 4 ID : **4410094900922**
Status : **Answered**
Chosen Option : **1**

WEBSANKUL
Downloaded from websankul.com

Q.164 સ્વાદુપિંડ રસ (પેનક્રિયાટિક જ્યુસ) માં રહેલો કયો ઉત્સેચક મુખ્યત્વે જટિલ કાર્બોદિત સ્ટાર્ચનું ડાયસેકેરાઇડ્સ અને ઓલિગોસેકેરાઇડ્સમાં પાચન કરવામાં મદદ કરે છે?

Ans
✗ 1. પેનક્રિયાટિક લાઈપેઝ (Pancreatic Lipase)

✗ 2. ટ્રિપ્સિન (Trypsin)

✓ 3. પેનક્રિયાટિક એમાયલેઝ (Pancreatic Amylase)

✗ 4. ન્યુક્લિએઝ (Nuclease)

Question Type : **MCQ**
Question ID : **4410091346025**
Option 1 ID : **4410095316417**
Option 2 ID : **4410095316416**
Option 3 ID : **4410095316418**
Option 4 ID : **4410095316419**
Status : **Answered**
Chosen Option : **3**

Q.165 નીચેનામાંથી કયું વિધાન 'ટાઇપ B' વ્યક્તિત્વની મુખ્ય વર્તન પેટર્ન (core behaviour pattern)ને યોગ્ય રીતે સમજાવે છે?

Ans
✓ 1. શાંત, ધીરજવાન અને સમયમર્યાદાના દબાણથી ઓછા પ્રેરિત (less driven by deadlines)

✗ 2. અત્યંત સ્પર્ધાત્મક અને સમયની દ્રષ્ટિએ તાકીદ (time-urgent)

✗ 3.
અંતર્મુખી અને અત્યંત વિશ્લેષણાત્મક

✗ 4. ઝડપથી ગુસ્સે થનાર અને આક્રમક (aggressive)

Question Type : **MCQ**
Question ID : **4410091361603**
Option 1 ID : **4410095378463**
Option 2 ID : **4410095378461**
Option 3 ID : **4410095378464**
Option 4 ID : **4410095378462**
Status : **Not Answered**
Chosen Option : **--**

Q.166 સાયટોટોક્સિક કચરાના અયોગ્ય નિકાલને કારણે કયું મુખ્ય જોખમ ઊભું થઈ શકે છે?

Ans
✓ 1. જીનોટોક્સિસિટી, કાર્સિનોજેનિસિટી અને ટેરાટોજેનિસિટી

✗ 2. બેક્ટેરિયલ ચેપનું પ્રસારણ

✗ 3. તીક્ષ્ણ વસ્તુઓ અને તૂટેલી વસ્તુઓમાંથી શારીરિક ઈજા

✗ 4. પરોપજીવી અને પ્રોટોઝોઅલ રોગોનો ફેલાવો

Question Type : **MCQ**
Question ID : **4410091245613**
Option 1 ID : **4410094915736**
Option 2 ID : **4410094915734**
Option 3 ID : **4410094915735**
Option 4 ID : **4410094915737**
Status : **Answered**
Chosen Option : **1**

WEBSANKUL

Downloaded from websankul.com

Q.167 નીચેનામાંથી કઈ ઐતિહાસિક આંતરરાષ્ટ્રીય ઘોષણામાં 'સૌ માટે આરોગ્ય' હાંસલ કરવા માટેના આવશ્યક પાયા તરીકે સમુદાય સહભાગિતા (Community Participation) પર ભાર મૂકવામાં આવ્યો હતો?

Ans
✗ 1. જીનીવા કન્વેન્શન (1949)
✗ 2. યુનિવર્સલ ડિક્લેરેશન ઑફ હ્યુમન રાઇટ્સ (1948)
✗ 3. મિલેનિયમ ડેવલપમેન્ટ ગોલ્સ (MDGs) (2000)
✓ 4. આલ્મા-અતા ડિક્લેરેશન (1978)

Question Type : MCQ
Question ID : 4410091346753
Option 1 ID : 4410095319308
Option 2 ID : 4410095319307
Option 3 ID : 4410095319305
Option 4 ID : 4410095319306
Status : Answered
Chosen Option : 4

Q.168 સંસ્થા (organization)નો નીચેનામાંથી કયો સિદ્ધાંત એવું જણાવે છે કે દરેક અધીનસ્થ કર્મચારી (subordinate)એ માત્ર એક જ ઉપરી અધિકારી (superior) પ્રત્યે જવાબદાર રહેવું જોઈએ અને તેની પાસેથી જ આદેશો મેળવવા જોઈએ?

Ans
✓ 1. હુકમ કે આદેશની એકતા (Unity of Command)
✗ 2. અંકુશનો વિસ્તાર (Span of Control)
✗ 3. સ્કેલર સાંકળ (Scalar Chain)
✗ 4. કાર્યનું વિભાજન (Division of Work)

Question Type : MCQ
Question ID : 4410091364452
Option 1 ID : 4410095389427
Option 2 ID : 4410095389428
Option 3 ID : 4410095389429
Option 4 ID : 4410095389426
Status : Answered
Chosen Option : 4

Q.169 જાહેર આરોગ્યના કાયદાઓ સાથે કામ કરતી વખતે, NGOs સામાન્ય રીતે કોના પર ધ્યાન કેન્દ્રિત કરે છે?

Ans
✗ 1. સરકારી ઇનપુટ વિના નવા, જટિલ કાયદાની રચના કરવી
✓ 2. હાલના કાયદાઓમાં સુધારા માટે લોબિંગ કરવું
✗ 3. જાહેર આરોગ્ય અધિકારીઓ માટે ચૂંટણી યોજવી
✗ 4. તેમની પોતાની સ્વતંત્ર ફંડિંગ પદ્ધતિઓની દેખરેખ રાખવી

Question Type : MCQ
Question ID : 4410091245737
Option 1 ID : 4410094916229
Option 2 ID : 4410094916226
Option 3 ID : 4410094916228
Option 4 ID : 4410094916227
Status : Answered
Chosen Option : 2

WEBSANKUL

Downloaded from websankul.com

Q.170 પુખ્ત પુરુષોમાં સીરમ (રુધિર) ક્રિએટિનાઇનનું સામાન્ય પ્રમાણ (range) કેટલું હોય છે?

Ans
✗ 1. 1.7–2.3 mg/dL
✗ 2. 0.1–0.24 mg/dL
✓ 3. 0.6–1.2 mg/dL
✗ 4. 2.8–3.4 mg/dL

Question Type : **MCQ**
Question ID : **4410091247722**
Option 1 ID : **4410094924073**
Option 2 ID : **4410094924071**
Option 3 ID : **4410094924072**
Option 4 ID : **4410094924074**
Status : **Not Answered**
Chosen Option : **--**

Q.171 WHO દ્વારા સમર્થન પ્રાપ્ત SAFE વ્યૂહરચના (SAFE strategy) મુખ્યત્વે કયા રોગને નાબૂદ કરવા માટે લક્ષ્ય રાખે છે?

Ans
✗ 1. વિસેરલ લિશમેનિયાસિસ (Visceral Leishmaniasis)
✗ 2. શિસ્ટોસોમિયાસિસ (Schistosomiasis)
✗ 3. ડેન્ગ્યુ ફીવર (Dengue Fever)
✓ 4. ટ્રેકોમા (Trachoma)

Question Type : **MCQ**
Question ID : **4410091362661**
Option 1 ID : **4410095382581**
Option 2 ID : **4410095382580**
Option 3 ID : **4410095382582**
Option 4 ID : **4410095382583**
Status : **Answered**
Chosen Option : **4**

Q.172 જો પરિવારના આહારમાં વિટામિનથી ભરપૂર શાકભાજીનો અભાવ હોય, તો પરિવારના કયા સભ્ય/સભ્યો ને સૌથી વધુ જોખમ રહેલું છે?

Ans
✗ 1. પરિવારમાં કામ કરતા પુખ્ત વયના લોકો
✓ 2. બાળકો અને સગર્ભા સ્ત્રીઓ
✗ 3. પરિવારના વૃદ્ધ સભ્યો
✗ 4. ઘરના પુરુષ વડાઓ

Question Type : **MCQ**
Question ID : **4410092128413**
Option 1 ID : **4410098379100**
Option 2 ID : **4410098379102**
Option 3 ID : **4410098379101**
Option 4 ID : **4410098379103**
Status : **Answered**
Chosen Option : **2**

WEBSANKUL

Downloaded from websankul.com

Q.173 ભારતીય જાહેર આરોગ્ય કાર્યક્રમોના સંદર્ભમાં NACP નું પૂરું નામ શું છે?

Ans
✔ 1. નેશનલ AIDS કંટ્રોલ પ્રોગ્રામ (National AIDS Control Programme)
✘ 2. નવરત્ન AIDS કંટ્રોલ પ્રોજેક્ટ (Navratna AIDS Control Project)
✘ 3. નેશનલ અવેરનેસ કેમ્પેઈન ઓન પ્રિવેન્શન (National Awareness Campaign on Prevention)
✘ 4. નેશનલ એન્ટી-કેન્સર પ્રોગ્રામ (National Anti-Cancer Program)

Question Type : **MCQ**
Question ID : **4410091245703**
Option 1 ID : **4410094916092**
Option 2 ID : **4410094916093**
Option 3 ID : **4410094916091**
Option 4 ID : **4410094916090**
Status : **Answered**
Chosen Option : **1**

Q.174 કયા પ્રકારનો ટ્રેપ કોમ્પેક્ટ બનાવવા માટે ડિઝાઇન કરવામાં આવ્યો છે અને તેનો ઉપયોગ જ્યાં જગ્યા ઘણીવાર મર્યાદિત હોય તેવા બેસિન અને સિંક જેવા ફિક્સર માટે વારંવાર થાય છે?

Ans
✘ 1. ઈન્ટરસેપ્ટિંગ ટ્રેપ
✔ 2. બોટલ ટ્રેપ
✘ 3. ગલી ટ્રેપ
✘ 4. ફ્લોર ટ્રેપ

Question Type : **MCQ**
Question ID : **4410091346411**
Option 1 ID : **4410095317944**
Option 2 ID : **4410095317946**
Option 3 ID : **4410095317945**
Option 4 ID : **4410095317947**
Status : **Answered**
Chosen Option : **4**

Q.175 નીચેનામાંથી કયું વિટામીન પાણીમાં દ્રાવ્ય છે અને કોષીય શ્વસનના માર્ગો (cellular respiration pathways) માં કોએન્ઝાઇમ A (CoA) ના મૂળભૂત બંધારણીય ઘટક તરીકે કાર્ય કરે છે?

Ans
✘ 1. પાયરીડોક્સીન (Pyridoxine)
✘ 2. રીબોફ્લેવિન (Riboflavin)
✔ 3. પેન્ટોથેનિક એસિડ (Pantothenic acid)
✘ 4. થાઈમીન (Thiamine)

Question Type : **MCQ**
Question ID : **4410092128424**
Option 1 ID : **4410098379145**
Option 2 ID : **4410098379147**
Option 3 ID : **4410098379146**
Option 4 ID : **4410098379144**
Status : **Answered**
Chosen Option : **3**

WEBSANKUL

Downloaded from websankul.com

Q.176 પરંપરાગત દફનવિધિની સરખામણીમાં અગ્નિસંસ્કારનો પર્યાવરણીય લાભ શું છે?

Ans ✔ 1. તેનાથી મૃતદેહને સડતો અટકાવતા રસાયણો (એમ્બાર્મિંગ કેમિકલ્સ) અને જમીનના મોટા પ્લોટની જરૂરિયાત રહેતી નથી.

✘ 2. તેનાથી વાતાવરણ કે પર્યાવરણમાં કોઈપણ પ્રકારનું ઉત્સર્જન મુક્ત થતું નથી.

✘ 3. તેને દફનવિધિ કરતાં ઓછી ઊર્જાની જરૂર પડે છે, તેથી નાણાં અને ઊર્જાની બચત થાય છે.

✘ 4. શબપેટી (કેસ્કેટ)ની સરખામણીમાં અસ્થિપાત્ર (urn) બનાવવા માટે ઓછા સંસાધનોની જરૂર પડે છે, તેથી તે આર્થિક રીતે અનુકૂળ છે.

Question Type : MCQ
Question ID : 4410091275050
Option 1 ID : 4410095032239
Option 2 ID : 4410095032240
Option 3 ID : 4410095032242
Option 4 ID : 4410095032241
Status : Answered
Chosen Option : 1

Q.177 કામના સ્થળે નવા વિચારો, નવી ક્રિયાઓ અને બદલતા વાતાવરણને અનુરૂપ થવાની કર્મચારીની ક્ષમતાને શું કહેવાય છે?

Ans ✘ 1. સત્યતા (Veracity)

✘ 2. અનુરૂપતા (Conformity)

✘ 3. કઠોરતા (Rigidity)

✔ 4. અનુકૂલનક્ષમતા (Adaptibility)

Question Type : MCQ
Question ID : 4410091364457
Option 1 ID : 4410095389449
Option 2 ID : 4410095389448
Option 3 ID : 4410095389446
Option 4 ID : 4410095389447
Status : Answered
Chosen Option : 4

Q.178 ગટરના કચરા (સુએજ) નો યોગ્ય નિકાલ ન કરવાને કારણે સામાન્ય રીતે કયું મુખ્ય જાહેર આરોગ્ય જોખમ સંકળાયેલું છે?

Ans ✘ 1. ખેતી માટે જમીનની ફળદ્રુપતામાં વધારો અને જમીનના ધોવાણની ઓછી શક્યતા

✘ 2. આસપાસના વિસ્તારમાં દુર્ગંધનો ફેલાવો

✘ 3. મિલકતની જાળવણી માટે ઊંચો ખર્ચ

✔ 4. કોલેરા અને ટાઇફોઇડ જેવા પાણીજન્ય રોગોનો ફેલાવો

Question Type : MCQ
Question ID : 4410091245637
Option 1 ID : 4410094915826
Option 2 ID : 4410094915829
Option 3 ID : 4410094915827
Option 4 ID : 4410094915828
Status : Answered
Chosen Option : 4

WEBSANKUL

Downloaded from websankul.com

Q.179 નેશનલ હેલ્થ પોલિસી 2017 નો ઉદ્દેશ્ય નીચેનામાંથી શું પ્રાપ્ત કરવાનો છે?

Ans
✗ 1. આરોગ્ય વીમા કવરેજનો વિસ્તાર કરવો

✗ 2. આરોગ્ય ક્ષેત્રે માનવ સંસાધનોનો વિકાસ કરવો

✓ 3.
વ્યાપક સેવાઓ સાથે સાર્વત્રિક આરોગ્ય કવરેજ

✗ 4. દેશવ્યાપી આરોગ્ય માળખાકીય સુવિધાઓમાં સુધારો કરવો

Question Type : **MCQ**
Question ID : **4410091272800**
Option 1 ID : **4410095023219**
Option 2 ID : **4410095023218**
Option 3 ID : **4410095023217**
Option 4 ID : **4410095023216**
Status : **Answered**
Chosen Option : **4**

Q.180 સંક્ષિપ્ત "NGO" નું પૂરું નામ શું છે?

Ans
✗ 1. નેટવર્કડ ગવર્નન્સ ઓફિસ (Networked Governance Office)

✗ 2. નેશનલ ગ્રોથ ઓર્ગેનાઈઝેશન (National Growth Organization)

✓ 3. નોન-ગવર્નમેન્ટલ ઓર્ગેનાઈઝેશન (Non-Governmental Organization)

✗ 4. ન્યૂ ગ્લોબલ આઉટરીચ (New Global Outreach)

Question Type : **MCQ**
Question ID : **4410091346561**
Option 1 ID : **4410095318544**
Option 2 ID : **4410095318541**
Option 3 ID : **4410095318542**
Option 4 ID : **4410095318543**
Status : **Answered**
Chosen Option : **3**

Q.181 ટ્રેકોમા (Trachoma) ની SAFE વ્યૂહરચનામાં 'E' કોનો ઉલ્લેખ કરે છે?

Ans
✗ 1. આઇ એક્ઝામિનેશન્સ (Eye examinations)

✓ 2. એન્વાયરમેન્ટલ ઈમ્પ્રુવમેન્ટ્સ (Environmental improvements)

✗ 3. એજ્યુકેશન પ્રોગ્રામ્સ (Education programs)

✗ 4. ઈમરજન્સી મેડિકલ ટ્રીટમેન્ટ (Emergency medical treatment)

Question Type : **MCQ**
Question ID : **4410091274025**
Option 1 ID : **4410095028139**
Option 2 ID : **4410095028142**
Option 3 ID : **4410095028141**
Option 4 ID : **4410095028140**
Status : **Answered**
Chosen Option : **1**

WEBSANKUL

Downloaded from websankul.com

Q.182 ભારતમાં માહિતી અધિકાર અધિનિયમ (Right to Information Act) ક્યારે અમલમાં આવ્યો?

Ans
✗ 1. 2019
✗ 2. 2000
✗ 3. 1994
✓ 4. 2005

Question Type : **MCQ**
Question ID : **4410091275368**
Option 1 ID : **4410095033486**
Option 2 ID : **4410095033484**
Option 3 ID : **4410095033483**
Option 4 ID : **4410095033485**
Status : **Answered**
Chosen Option : **4**

Q.183 ઘરમાં ભેજ અને ફૂગ (mold) સાથે સંકળાયેલું મુખ્ય આરોગ્ય જોખમ કયું છે?

Ans
✓ 1. શ્વસન સંબંધી રોગો, અસ્થમા અને એલર્જીનો વિકાસ
✗ 2. થાયરોટોક્સિક સ્ટોર્મ અને માયક્સેડેમા કોમાનો વિકાસ
✗ 3. ધનુર્વા, હાઈપોકેલ્સિમિક ટેટની અને સ્નાયુ સંકોચનનો વિકાસ
✗ 4. એમિયોટ્રોફિક લેટરલ સ્ક્લેરોસિસનો વિકાસ

Question Type : **MCQ**
Question ID : **4410091274127**
Option 1 ID : **4410095028547**
Option 2 ID : **4410095028549**
Option 3 ID : **4410095028548**
Option 4 ID : **4410095028550**
Status : **Answered**
Chosen Option : **1**

Q.184 પાણીના શુદ્ધિકરણમાં ક્લોરિનેશન (Chlorination) નો મુખ્ય હેતુ શું છે?

Ans
✗ 1. પાણીના સ્વાદ અને ગંધમાં સુધારો કરવા માટે
✗ 2. એસિડ અને આલ્કલી તત્ત્વોને તટસ્થ કરીને પાણીના pH નું નિયમન કરવા માટે
✓ 3. પુનઃપ્રદૂષણ સામે રક્ષણ આપતા અવશેષ જંતુનાશક (રેસિડ્યુઅલ ડિસઇન્ફેક્ટન્ટ) પૂરા પાડવા માટે
✗ 4. પાણીમાં ટોટલ ડિઝોલ્વ્ડ સોલિડ (TDS) નું પ્રમાણ વધારવા માટે

Question Type : **MCQ**
Question ID : **4410091245788**
Option 1 ID : **4410094916431**
Option 2 ID : **4410094916433**
Option 3 ID : **4410094916432**
Option 4 ID : **4410094916430**
Status : **Answered**
Chosen Option : **3**

WEBSANKUL

Downloaded from websankul.com

Q.185 સહિયારા ધ્યેયને પ્રાપ્ત કરવા માટે અન્ય લોકો સાથે અસરકારક રીતે કામ કરવા માટે નીચેનામાંથી કઈ મહત્ત્વપૂર્ણ કુશળતા છે?

Ans
✔ 1. વિવિધ દ્રષ્ટિકોણને સમજવા અને સામાન્ય સમજૂતી (common ground) સાધવી
✘ 2. ટીમના ઉદ્દેશ્યો અને ધ્યેયો કરતાં તમારા પોતાના કાર્યોને પ્રાથમિકતા આપવી
✘ 3. તમામ મુશ્કેલ કાર્યો અન્ય લોકોને સોંપી દેવા
✘ 4. ટીમમાં સંવાદિતા (harmony) જાળવી રાખવા માટે તમામ મતભેદોને ટાળવા

Question Type : MCQ
Question ID : 4410091275227
Option 1 ID : 4410095032937
Option 2 ID : 4410095032935
Option 3 ID : 4410095032938
Option 4 ID : 4410095032936
Status : Answered
Chosen Option : 1

Q.186 મોટા જનસમુદાય (large groups)ને સામાન્ય આહાર માર્ગદર્શિકા પૂરી પાડવા અને નવી જાહેર આરોગ્ય ઝુંબેશ (પબ્લિક હેલ્થ કેમ્પેઈન) વિશે જાગૃતિ લાવવા માટે પોષણ શિક્ષણની કઈ પદ્ધતિ સૌથી વધુ અસરકારક છે?

Ans
✔ 1. સમૂહ માધ્યમો (ટીવી, રેડિયો, અખબાર) દ્વારા ચલાવવામાં આવતા અભિયાનો (માસ મીડિયા કેમ્પેઇન્સ)
✘ 2. વ્યક્તિગત સ્તરે આહાર અંગેની પરામર્શ (ઇનડિવિજ્યુઅલ વન-ઓન-વન ડાયેટરી કાઉન્સેલિંગ)
✘ 3. ખોરાક પ્રદર્શન અને સ્વાદ ચાખવાના સત્રો (ફૂડ ડેમોન્સ્ટ્રેશન એન્ડ ટેસ્ટિંગ સેશન્સ)
✘ 4. સમુદાય આધારિત રસોઈના ક્લાસેસ (કમ્યુનિટી-બેઝ્ડ કુકિંગ ક્લાસીસ)

Question Type : MCQ
Question ID : 4410091346136
Option 1 ID : 4410095316859
Option 2 ID : 4410095316858
Option 3 ID : 4410095316857
Option 4 ID : 4410095316856
Status : Answered
Chosen Option : 1

Q.187 અલ્મા-આટા ઘોષણાપત્ર (Alma-Ata Declaration) અનુસાર, પ્રાથમિક આરોગ્ય સંભાળના પ્રારંભિક આઠ આવશ્યક ઘટકોમાં નીચેનામાંથી શેનો સમાવેશ થતો નથી?

Ans
✘ 1. સ્વાસ્થ્ય સમસ્યાઓ અને તેના નિવારણ અંગેનું શિક્ષણ
✘ 2. સામાન્ય રોગો અને ઈજાઓની સારવાર
✘ 3. ખોરાક અને પૂરતા પોષણની જોગવાઈ
✔ 4. સમુદાય સ્તરે માનસિક સ્વાસ્થ્ય સંભાળ સેવાઓ

Question Type : MCQ
Question ID : 4410091275361
Option 1 ID : 4410095033455
Option 2 ID : 4410095033458
Option 3 ID : 4410095033456
Option 4 ID : 4410095033457
Status : Answered
Chosen Option : 2

WEBSANKUL

Downloaded from websankul.com

Q.188 નીચેનામાંથી કયું રાસાયણિક એજન્ટ ઉચ્ચ-સ્તરના જંતુનાશક તરીકે વ્યાપકપણે ઓળખાય છે?

Ans
✗ 1. ફીનોલિક્સ (Phenolics)
✓ 2. ગ્લુટરાલ્ડીહાઇડ (Glutaraldehyde)
✗ 3. ક્વાટર્નરી એમોનિયમ કમ્પાઉન્ડ
✗ 4. 70% આઇસોપ્રોપાઇલ આલ્કોહોલ

Question Type : **MCQ**
Question ID : **4410091362658**
Option 1 ID : **4410095382571**
Option 2 ID : **4410095382570**
Option 3 ID : **4410095382569**
Option 4 ID : **4410095382568**
Status : **Answered**
Chosen Option : **2**

Q.189 DDT જેવા ઓર્ગેનોક્લોરીન જંતુનાશકો (organochlorine pesticides) ના ઉપયોગ સાથે જોડાયેલી મુખ્ય પર્યાવરણીય ચિંતા કઈ છે?

Ans
✗ 1. તેઓ ઓછી સાંદ્રતામાં ખૂબ અસરકારક છે.
✗ 2. તેઓ છોડની વૃદ્ધિને પ્રોત્સાહન આપે છે.
✗ 3. તેઓ ઝડપથી જૈવિક વિઘટન પામે છે (biodegradable).
✓ 4. તેઓ ખાદ્ય શૃંખલામાં જૈવિક-સંચય (bioaccumulate) પામે છે.

Question Type : **MCQ**
Question ID : **4410091272909**
Option 1 ID : **4410095023651**
Option 2 ID : **4410095023653**
Option 3 ID : **4410095023650**
Option 4 ID : **4410095023652**
Status : **Answered**
Chosen Option : **4**

Q.190 શુષ્ક ગરમી દ્વારા નિર્જંતુકીકરણ (ડ્રાય હીટ સ્ટેરિલાઈઝેશન) નીચેનામાંથી કયા પ્રકારના સાધનમાં કરવામાં આવે છે?

Ans
✗ 1. ઈન્સિનરેટર/ભઠ્ઠી (Incinerator/furnace)
✗ 2. ઉકળતા પાણીથી સ્નાન (Boiling water bath)
✓ 3. હૉટ એર ઓવન (Hot air oven)
✗ 4. ઑટોક્લેવ (Autoclave)

Question Type : **MCQ**
Question ID : **4410091272893**
Option 1 ID : **4410095023592**
Option 2 ID : **4410095023593**
Option 3 ID : **4410095023591**
Option 4 ID : **4410095023590**
Status : **Answered**
Chosen Option : **3**

WEBSANKUL

Downloaded from websankul.com

Q.191 નીચેનામાંથી કયું વિધાન 'સત્તાની સોંપણી (Delegation of authority)' ને સાચી રીતે સમજાવે છે?

Ans
✗ 1. નાના કાર્યો (minor tasks) માટેની જવાબદારી નીચલા/ તાબાના કર્મચારી (subordinate)ને ટ્રાન્સફર કરવાની પ્રક્રિયા

✗ 2. કોઈપણ માર્ગદર્શન વિના તાબાના કર્મચારીને સ્વતંત્ર રીતે કાર્ય કરવા માટે સક્ષમ બનાવવાની પ્રક્રિયા

✓ 3. વરિષ્ઠ (superior) અધિકારી તરફથી તેના તાબાના કર્મચારી (subordinate) તરફ સત્તાનું નીચે તરફનું હસ્તાંતરણ

✗ 4. નિર્ણય લેવાની સંપૂર્ણ સત્તા નીચલા/ તાબાના કર્મચારીઓ (subordinates)ને ટ્રાન્સફર કરવી

Question Type : **MCQ**
Question ID : **4410091361509**
Option 1 ID : **4410095378090**
Option 2 ID : **4410095378092**
Option 3 ID : **4410095378091**
Option 4 ID : **4410095378089**
Status : **Answered**
Chosen Option : **3**

Q.192 ધનુર (ટેટનસ) રોગ કયા બેક્ટેરિયાના કારણે થાય છે?

Ans
✗ 1. માયકોબેક્ટેરિયમ (Mycobacterium)

✗ 2. સ્ટ્રેપ્ટોકોકસ (Streptococcus)

✗ 3. સ્ટેફાયલોકોકસ (Staphylococcus)

✓ 4. ક્લોસ્ટ્રિડિયમ (Clostridium)

Question Type : **MCQ**
Question ID : **4410091361525**
Option 1 ID : **4410095378153**
Option 2 ID : **4410095378156**
Option 3 ID : **4410095378154**
Option 4 ID : **4410095378155**
Status : **Answered**
Chosen Option : **4**

Q.193 ક્રાયસેન્થેમમ (ગુલદાઉદી) (Chrysanthemum) ના પુષ્પમાંથી મેળવવામાં આવતું કુદરતી કીટકનાશક કયું છે?

Ans
✗ 1. મેલાથીઓન (Malathion)

✓ 2. પાયરેથ્રિન (Pyrethrin)

✗ 3. બેસિલસ થુરીંજીએન્સીસ (Bacillus thuringiensis)

✗ 4. DDT

Question Type : **MCQ**
Question ID : **4410091245756**
Option 1 ID : **4410094916305**
Option 2 ID : **4410094916304**
Option 3 ID : **4410094916303**
Option 4 ID : **4410094916302**
Status : **Answered**
Chosen Option : **2**

WEBSANKUL

Downloaded from websankul.com

Q.194 સંક્ષેપ CPOE નું પૂરું નામ શું છે?

Ans
✗ 1. કોમ્પ્રેહેન્સિવ પેશન્ટ આઉટકમ એન્ડ ઇવેલ્યુએશન (Comprehensive Patient Outcome and Evaluation)

✓ 2. કમ્પ્યુટરાઇઝ્ડ પ્રોવાઇડર ઓર્ડર એન્ટ્રી (Computerized Provider Order Entry)

✗ 3. સેન્ટ્રલાઇઝ્ડ ફિઝિશિયન ઓબ્ઝર્વેશન એન્ડ ઇવેલ્યુએશન (Centralized Physician Observation and Evaluation)

✗ 4. કમ્પ્યુટરાઇઝ્ડ પેશન્ટ ઓપરેશન એક્ઝામિનેશન (Computerized Patient Operation Examination)

Question Type : **MCQ**
Question ID : **4410091361504**
Option 1 ID : **4410095378072**
Option 2 ID : **4410095378070**
Option 3 ID : **4410095378071**
Option 4 ID : **4410095378069**
Status : **Not Attempted and Marked For Review**
Chosen Option : --

Q.195 હેલ્થકેર પ્લાનિંગ અને એલોકેશનમાં સેન્સસ ડેટાનો હેતુ શું છે?

Ans
✗ 1. ચોક્કસ સમુદાયના કૃષિ ઉત્પાદન અને નફાનું મૂલ્યાંકન કરવા માટે

✓ 2. આયોજન સેવાઓ માટે વસ્તીનું કદ, વિતરણ અને આરોગ્ય જરૂરિયાતો નક્કી કરવા માટે

✗ 3. સમુદાય દ્વારા થતા ઔદ્યોગિક ઉત્પાદનનું મૂલ્યાંકન કરવા અને નફાનું મૂલ્યાંકન કરવા માટે

✗ 4. સમુદાયમાં રહેતા લોકોની સાક્ષરતા દરની ગણતરી કરવા માટે

Question Type : **MCQ**
Question ID : **4410091361497**
Option 1 ID : **4410095378042**
Option 2 ID : **4410095378044**
Option 3 ID : **4410095378043**
Option 4 ID : **4410095378041**
Status : **Answered**
Chosen Option : **2**

Q.196 ખોરાક બનાવનારે (ફૂડ હેન્ડલરે) કામ કરતી વખતે તેમના ચહેરા અથવા વાળને અડવાનું કેમ ટાળવું જોઈએ?

Ans
✗ 1. રસોડાના કાર્યોને વ્યવસ્થિત કરવામાં મદદ કરવા માટે

✗ 2. ખોરાક બનાવવાની પ્રક્રિયા ઝડપી કરવા માટે

✓ 3. ખોરાકમાં જંતુઓ (કીટાણુઓ) ફેલાતા અટકાવવા માટે

✗ 4.
ખોરાકનો સ્વાદ સુધારવા માટે

Question Type : **MCQ**
Question ID : **4410092128414**
Option 1 ID : **4410098379104**
Option 2 ID : **4410098379107**
Option 3 ID : **4410098379105**
Option 4 ID : **4410098379106**
Status : **Answered**
Chosen Option : **3**

WEBSANKUL

Downloaded from websankul.com

Q.197 ત્રિ-સ્તરીય (three-tier) પ્રણાલીમાં તૃતીયક સંભાળ (tertiary care) ની પ્રાથમિક ભૂમિકા શું છે?

Ans
✗ 1. વ્યાપક દ્વિતીયક સંભાળ (secondary care) સેવાઓ પૂરી પાડવી
✓ 2. અત્યંત વિશિષ્ટ (highly specialized) અને અદ્યતન તબીબી સેવાઓ પ્રદાન કરવી
✗ 3. સમુદાયોને મૂળભૂત આરોગ્ય સેવાઓ પૂરી પાડવી
✗ 4. ગ્રામીણ વિસ્તારોમાં પ્રાથમિક અને દ્વિતીયક આરોગ્ય સંભાળમાં સુધારો કરવો

Question Type : **MCQ**
Question ID : **4410091272807**
Option 1 ID : **4410095023245**
Option 2 ID : **4410095023246**
Option 3 ID : **4410095023244**
Option 4 ID : **4410095023247**
Status : **Answered**
Chosen Option : **2**

Q.198 ભારતમાં કેન્દ્ર સરકારની યોજના 'એક્સેલરેટેડ રૂરલ વોટર સપ્લાય પ્રોગ્રામ' (ARWSP) ક્યારે શરૂ કરવામાં આવી હતી?

Ans
✗ 1. 1942-43
✗ 2. 1932-33
✗ 3. 1952-53
✓ 4. 1972-73

Question Type : **MCQ**
Question ID : **4410091346557**
Option 1 ID : **4410095318531**
Option 2 ID : **4410095318530**
Option 3 ID : **4410095318532**
Option 4 ID : **4410095318529**
Status : **Answered**
Chosen Option : **4**

Q.199 રોગચાળા વિજ્ઞાન (epidemiology) માં 'રોગોના આઇસબર્ગ ફેનોમેનન' (Iceberg Phenomenon of diseases) દ્વારા શું દર્શાવવામાં આવે છે?

Ans
✓ 1. સમુદાયમાં રોગનો વાસ્તવિક બોજ નોંધાયેલા અથવા નિદાન થયેલા કેસોની સંખ્યા કરતાં ઘણો વધારે છે.
✗ 2. ઠંડી અને ઉત્તરીય આબોહવા ધરાવતા પ્રદેશોમાં રોગો વધુ પ્રવર્તમાન હોય છે.
✗ 3. આબોહવા પરિવર્તનની અસરો સમુદાય અને વિસ્તારમાં રોગો અને ચેપના ફેલાવાને વધારી રહી છે.
✗ 4. એક નવો રોગ ધીમે-ધીમે ઉભરે છે અને જ્યાં સુધી તે ગંભીર સ્તરે ન પહોંચે ત્યાં સુધી તેની ઓળખ થતી નથી.

Question Type : **MCQ**
Question ID : **4410091241952**
Option 1 ID : **4410094901155**
Option 2 ID : **4410094901157**
Option 3 ID : **4410094901154**
Option 4 ID : **4410094901156**
Status : **Answered**
Chosen Option : **1**

WEBSANKUL

Downloaded from websankul.com

Q.200 જન ઔષધિ યોજના (Jan Aushadhi Scheme) નો મુખ્ય હેતુ શું છે?

Ans
✗ 1. બ્રાન્ડેડ દવાઓના ઉપયોગને જેનેરિક દવાઓ કરતાં પ્રોત્સાહન આપવું

✗ 2. મોંઘી અને વિશિષ્ટ દવાઓના ઉપયોગને પ્રોત્સાહન આપવું

✗ 3. ગ્રામીણ વિસ્તારોમાં દવાઓની ઉપલબ્ધતા મર્યાદિત કરવી

✓ 4.
ઉચ્ચ ગુણવત્તાવાળી જેનેરિક દવાઓ પરવડે તેવી કિંમતે ઉપલબ્ધ કરાવવી

Question Type : **MCQ**
Question ID : **4410091245730**
Option 1 ID : **4410094916198**
Option 2 ID : **4410094916201**
Option 3 ID : **4410094916200**
Option 4 ID : **4410094916199**
Status : **Answered**
Chosen Option : **4**

Q.201 નીચેનામાંથી કયા પ્રકારનો હેપેટાઇટિસ (Hepatitis) એ ડેલ્ટા હેપેટાઇટિસ તરીકે પણ ઓળખાય છે?

Ans
✗ 1. હેપેટાઇટિસ C

✓ 2. હેપેટાઇટિસ D

✗ 3. હેપેટાઇટિસ A

✗ 4. હેપેટાઇટિસ B

Question Type : **MCQ**
Question ID : **4410091362682**
Option 1 ID : **4410095382666**
Option 2 ID : **4410095382667**
Option 3 ID : **4410095382664**
Option 4 ID : **4410095382665**
Status : **Not Attempted and Marked For Review**
Chosen Option : **--**

Q.202 1978 માં યોજાયેલી નીચેનામાંથી કઈ મુખ્ય આંતરરાષ્ટ્રીય પરિષદ (કોન્ફરન્સ)એ 'સૌના માટે આરોગ્ય (Health for All)' ના વિચારને પ્રબળ રીતે પ્રભાવિત કર્યો હતો?

Ans
✗ 1. ધ વર્લ્ડ હેલ્થ એસેમ્બલી (જીનીવા)

✗ 2. ધ મિલેનિયમ સમિટ (ન્યૂ યોર્ક)

✓ 3. ધ અલ્મા-આટા ડિક્લેરેશન ઓન પ્રાઈમરી હેલ્થ કેર (કઝાખસ્તાન)

✗ 4. ધ UN કોન્ફરન્સ ઓન ક્લાઈમેટ ચેન્જ (રિયો ડી જાનેરો)

Question Type : **MCQ**
Question ID : **4410091364498**
Option 1 ID : **4410095389603**
Option 2 ID : **4410095389605**
Option 3 ID : **4410095389604**
Option 4 ID : **4410095389602**
Status : **Answered**
Chosen Option : **3**

WEBSANKUL

Downloaded from websankul.com

Q.203 કયો નૈતિક સિદ્ધાંત વ્યાવસાયિક જવાબદારી તરીકે ખાનગી અને સંવેદનશીલ માહિતીનું રક્ષણ કરવા સાથે સંબંધિત છે, જે એ સુનિશ્ચિત કરે છે કે સંમતિ વિના માહિતી જાહેર ન થાય, જેથી પરસ્પર વિશ્વાસનું નિર્માણ અને જાળવણી થઈ શકે?

Ans
✗ 1. વફાદારી કે કર્તવ્યનિષ્ઠા (Fidelity)
✓ 2. ગોપનીયતા (Confidentiality)
✗ 3. પરોપકારિતા કે લોકોપકાર (Beneficence)
✗ 4. અહાનિકારકતા (Non-maleficence)

Question Type : **MCQ**
Question ID : **4410091364442**
Option 1 ID : **4410095389389**
Option 2 ID : **4410095389388**
Option 3 ID : **4410095389386**
Option 4 ID : **4410095389387**
Status : **Answered**
Chosen Option : **2**

Q.204 નીચેનામાંથી કયો સજીવ વેઈલના રોગ (Weil's disease) નો રોગકારક (causative agent) છે?

Ans
✓ 1. લેપ્ટોસ્પાયરા ઇન્ટરોગન્સ (Leptospira interrogans)
✗ 2. પ્લાઝમોડિયમ ફેલ્સિપેરમ (Plasmodium falciparum)
✗ 3. લીશમેનિયા ડોનોવાની (Leishmania donovani)
✗ 4. એસ્ચેરીચિયા કોલાઈ (Escherichia coli)

Question Type : **MCQ**
Question ID : **4410091241877**
Option 1 ID : **4410094900856**
Option 2 ID : **4410094900855**
Option 3 ID : **4410094900857**
Option 4 ID : **4410094900854**
Status : **Answered**
Chosen Option : **1**

Q.205 શ્મશાનગૃહના મશીન (Cremation Machine) માં માનવ શરીરના અગ્નિસંસ્કાર (દાહસંસ્કાર) માટે માટે કેટલા તાપમાનની શ્રેણી જરૂરી છે?

Ans
✗ 1. 2000 થી 2200°C
✗ 2. 340 થી 512°C
✗ 3. 100 થી 146°C
✓ 4. 760 થી 982°C

Question Type : **MCQ**
Question ID : **4410091275055**
Option 1 ID : **4410095032261**
Option 2 ID : **4410095032262**
Option 3 ID : **4410095032260**
Option 4 ID : **4410095032259**
Status : **Answered**
Chosen Option : **1**

WEBSANKUL
Downloaded from websankul.com

Q.206 પંચાયત સમિતિના મુખ્ય વહીવટી અને કારોબારી અધિકારી કોણ હોય છે, જે સામાન્ય રીતે તેના નિર્ણયોના અમલીકરણ (implementation) માટે જવાબદાર હોય છે?

Ans
✗ 1. ગ્રામ પ્રધાન / સરપંચ
✗ 2. સમિતિ પ્રમુખ / પ્રધાન
✓ 3. બ્લોક વિકાસ અધિકારી (Block Development Officer - BDO)
✗ 4. જિલ્લા કલેક્ટર (District Collector)

Question Type : **MCQ**
Question ID : **4410091362597**
Option 1 ID : **4410095382329**
Option 2 ID : **4410095382331**
Option 3 ID : **4410095382328**
Option 4 ID : **4410095382330**
Status : **Answered**
Chosen Option : **3**

Q.207 વ્યવસાયિક આરોગ્ય અને સુરક્ષા (occupational health and safety) પર વૈશ્વિક સંમેલનો અને ભલામણો નક્કી કરતી આંતરરાષ્ટ્રીય સંસ્થા કઈ છે?

Ans
✓ 1. આંતરરાષ્ટ્રીય શ્રમ સંગઠન (International Labour Organization)
✗ 2. વિશ્વ આરોગ્ય સંસ્થા (WHO) (World Health Organization (WHO))
✗ 3. વિશ્વ બેંક (World Bank)
✗ 4. આંતરરાષ્ટ્રીય નાણાં ભંડોળ (International Monetary Fund)

Question Type : **MCQ**
Question ID : **4410091245185**
Option 1 ID : **4410094914022**
Option 2 ID : **4410094914021**
Option 3 ID : **4410094914020**
Option 4 ID : **4410094914023**
Status : **Answered**
Chosen Option : **2**

Q.208 વિવિધ ઔદ્યોગિક અને મ્યુનિસિપલ પ્રક્રિયાઓ, ખાસ કરીને ગંદા પાણીના શુદ્ધિકરણ (વેસ્ટવોટર ટ્રીટમેન્ટ) દરમિયાન આડપેદાશ તરીકે ઉત્પન્ન થતો અર્ધ-ઘન અવશેષ કે રગડો (સ્લરી) કયો છે?

Ans
✗ 1. ગંદુ પાણી (Sewage)
✗ 2. જૈવિક ગેસ (Biogas)
✓ 3. કાદવ (Sludge)
✗ 4. ફીણ અથવા તરતો કચરો (Scum)

Question Type : **MCQ**
Question ID : **4410091245768**
Option 1 ID : **4410094916351**
Option 2 ID : **4410094916353**
Option 3 ID : **4410094916352**
Option 4 ID : **4410094916350**
Status : **Answered**
Chosen Option : **3**

WEBSANKUL
Downloaded from websankul.com

Q.209 વ્યવસાયિક એકમમાં અર્ગોનોમિક જોખમનું ઉદાહરણ નીચેનામાંથી કયું છે?

Ans
✗ 1. ભારે અવાજના સંપર્કમાં આવવું
✗ 2. અત્યંત તીવ્ર તાપમાનમાં કામ કરવું
✗ 3. ઝેરી રસાયણોના સંપર્કમાં આવવું
✓ 4. ભારે વસ્તુઓને વારંવાર ઉઠાવવી

Question Type : **MCQ**
Question ID : **4410091245195**
Option 1 ID : **4410094914060**
Option 2 ID : **4410094914062**
Option 3 ID : **4410094914063**
Option 4 ID : **4410094914061**
Status : **Answered**
Chosen Option : **3**

Q.210 ભારતમાં ઘન કચરા વ્યવસ્થાપન નિયમો (Solid Waste Management Rules) ક્યારે લાગુ કરવામાં આવ્યા હતા?

Ans
✗ 1. 2010
✗ 2. 2005
✓ 3. 2016
✗ 4. 1992

Question Type : **MCQ**
Question ID : **4410091364527**
Option 1 ID : **4410095389720**
Option 2 ID : **4410095389719**
Option 3 ID : **4410095389721**
Option 4 ID : **4410095389718**
Status : **Answered**
Chosen Option : **3**

WEBSANKUL

Downloaded from websankul.com