Q.1 છ મિત્રો — કરણ, લોકેશ, મનીષ, નિતિન, ઓમ અને પિયુષ — એ એક મૂલ્યાંકનમાં અલગ-અલગ ગુણ મેળવ્યા છે. લોકેશે કરણ કરતાં ઓછા ગુણ મેળવ્યા છે. મનીષે કરણ કરતાં વધુ ગુણ મેળવ્યા છે. લોકેશે નિતિન કરતાં વધુ ગુણ મેળવ્યા છે. પિયુષે ઓમ કરતાં ઓછા ગુણ મેળવ્યા છે. પિયુષે મનીષ કરતાં વધુ ગુણ મેળવ્યા છે. નીચે આપેલી ખાલી જગ્યા પૂરો.
મૂલ્યાંકનમાં _____ એ ત્રીજા સૌથી વધુ ગુણ મેળવ્યા છે.

Ans
✗ 1. લોકેશ
✓ 2. મનીષ
✗ 3. કરણ
✗ 4. પિયુષ

Question Type : **MCQ**
Question ID : **4410091982348**
Option 1 ID : **4410097808203**
Option 2 ID : **4410097808202**
Option 3 ID : **4410097808205**
Option 4 ID : **4410097808204**
Status : **Answered**
Chosen Option : **2**

Q.2 છ વ્યક્તિઓ - ગણેશ, નિખિલ, પ્રિતમ, સૂરજ, ટીંકુ અને યોગી પૈકી દરેક એક હરોળમાં ઉત્તર તરફ મુખ રાખીને બેઠા છે. યોગી અને પ્રિતમની વચ્ચે માત્ર ત્રણ જ વ્યક્તિઓ બેઠા છે. યોગી હરોળના જમણા છેડા પર બેઠો છે. ટીંકુ એ પ્રિતમની જમણી બાજુએ ત્રીજા સ્થાને બેઠો છે. પ્રિતમ અને નિખિલની વચ્ચે માત્ર ગણેશ બેઠો છે. ગણેશની ડાબી બાજુએ બીજા સ્થાને _____ બેઠો છે.

Ans
✗ 1. ટીંકુ
✗ 2. નિખિલ
✗ 3. ગણેશ
✓ 4. સૂરજ

Question Type : **MCQ**
Question ID : **4410091982737**
Option 1 ID : **4410097809699**
Option 2 ID : **4410097809700**
Option 3 ID : **4410097809698**
Option 4 ID : **4410097809697**
Status : **Answered**
Chosen Option : **4**

WEBSANKUL
Downloaded from websankul.com

Q.3 એક ચોક્કસ સાંકેતિક ભાષામાં,

A + B નો અર્થ થાય છે કે 'A એ B ના માતા છે'
A – B નો અર્થ થાય છે કે 'A એ B ની બહેન છે'
A × B નો અર્થ થાય છે કે 'A એ B નો પતિ છે'
A ÷ B નો અર્થ થાય છે કે 'A એ B ના પિતા છે'

આપેલી માહિતીના આધારે, જો F × G + H – I ÷ J – K હોય તો F એ K સાથે કેવી રીતે સંબંધિત છે?

Ans
✗ 1. માતાના માતા
✗ 2. પત્નીની બહેન
✗ 3. માતાના ભાઈ
✓ 4. પિતાના પિતા

Question Type : **MCQ**
Question ID : **4410092064421**
Option 1 ID : **4410098127353**
Option 2 ID : **4410098127352**
Option 3 ID : **4410098127350**
Option 4 ID : **4410098127351**
Status : **Answered**
Chosen Option : **4**

WEBSANKUL®

Downloaded from websankul.com

Q.4 જો દર્પણને બતાવ્યા પ્રમાણે MN પર રાખવામા આવે, તો કયો વિકલ્પ એ નીચે આપેલી આકૃતિ (figure) નું સાચું દર્પણ પ્રતિબિંબ હશે?

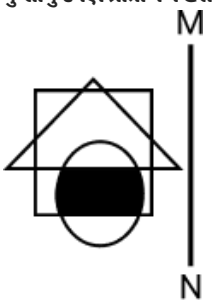

Ans

✔ 1.


✘ 2.
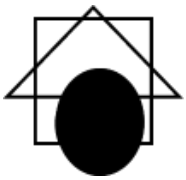

✘ 3.


✘ 4.


Question Type : **MCQ**
Question ID : **4410091981264**
Option 1 ID : **4410097803876**
Option 2 ID : **4410097803879**
Option 3 ID : **4410097803878**
Option 4 ID : **4410097803877**
Status : **Answered**
Chosen Option : **1**

WEBSANKUL ®

Downloaded from websankul.com

Q.5 જો 'A' નો અર્થ '÷' થાય, 'B' નો અર્થ '×' થાય, 'C' નો અર્થ '+' થાય અને 'D' નો અર્થ '−' થાય, તો નીચેના સમીકરણમાં પ્રશ્નચિહ્ન (?) ના સ્થાને શું આવશે?
3 B 46 D 40 C 42 A 14 = ?

Ans
✗ 1. 99
✗ 2. 103
✓ 3. 101
✗ 4. 102

Question Type : **MCQ**
Question ID : **4410091573477**
Option 1 ID : **4410096214691**
Option 2 ID : **4410096214690**
Option 3 ID : **4410096214689**
Option 4 ID : **4410096214692**
Status : **Answered**
Chosen Option : **3**

WEBSANKUL

Downloaded from websankul.com

Q.6 આપેલી આકૃતિનો ધ્યાનપૂર્વક અભ્યાસ કરો અને પ્રશ્નનો જવાબ આપો. વિવિધ વિભાગોમાં દર્શાવેલી સંખ્યાઓ વ્યક્તિઓની સંખ્યા સૂચવે છે. (નોંધ: આપેલ માહિતી સામાન્ય રીતે જાણીતા તથ્યોથી અલગ જણાતી હોય તો પણ તેને સાચી માનવાની રહેશે.)

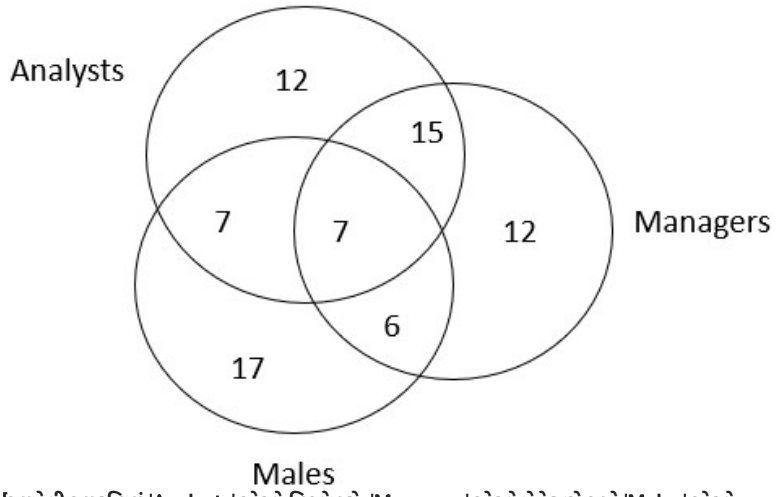

[આપેલી આકૃતિમાં 'Analysts' એટલે વિશ્લેષકો, 'Managers' એટલે મેનેજરો અને 'Males' એટલે પુરુષો છે.]

પુરુષ મેનેજરોની સંખ્યા કેટલી છે?

Ans
- ✔ 1. 13
- ✘ 2. 19
- ✘ 3. 6
- ✘ 4. 18

Question Type : **MCQ**
Question ID : **4410091600516**
Option 1 ID : **4410096321746**
Option 2 ID : **4410096321745**
Option 3 ID : **4410096321744**
Option 4 ID : **4410096321743**
Status : **Answered**
Chosen Option : **1**

WEBSANKUL ®

Downloaded from websankul.com

Q.7 નીચેના સંખ્યા-જોડીઓમાં, પ્રથમ સંખ્યા પર ચોક્કસ ગાણિતિક ક્રિયાઓ (ઓપરેશન) લાગુ કરીને બીજી સંખ્યા મેળવવામાં આવે છે. નીચેના ગણો (સેટ)ની સંખ્યાઓ જે રીતે સંબંધિત છે, તે જ રીતે સંખ્યાઓ જે ગણમાં સંબંધિત હોય તે ગણ પસંદ કરો.

(નોંધ: સંખ્યાઓને તેમના ઘટક અંકોમાં વિભાજીત કર્યા વિના, સંપૂર્ણ સંખ્યાઓ પર કામગીરી (ઓપરેશન) કરવી જોઈએ. દા.ત. 13 - 13 માં સરવાળો/ બાદબાકી/ ગુણાકાર જેવી તમામ કામગીરી (ઓપરેશન) પૂર્ણ 13 પર કરી શકાય છે. 13 ને 1 અને 3 માં વિભાજીત કરવું અને પછી 1 અને 3 પર ગાણિતિક કામગીરી કરવાની મંજૂરી નથી.)

518, 407
593, 482

Ans
✗ 1. 555, 443
✓ 2. 564, 453
✗ 3. 722, 615
✗ 4. 653, 521

Question Type : **MCQ**
Question ID : **44100932516**
Option 1 ID : **441009135342**
Option 2 ID : **441009135345**
Option 3 ID : **441009135344**
Option 4 ID : **441009135343**
Status : **Answered**
Chosen Option : **2**

WEBSANKUL®

Downloaded from websankul.com

Q.8 આપેલો પાઇ ચાર્ટ એક મેનેજમેન્ટ સંસ્થામાં વિદ્યાર્થીઓની તેમની વિશેષજ્ઞતા (HR, IB, IR, Finance, Marketing અને IT) ના આધારે ટકાવારી મુજબ વહેંચણી દર્શાવે છે. વિદ્યાર્થીઓની કુલ સંખ્યા 8,000 છે. આ પાઇ ચાર્ટનો અભ્યાસ કરીને નીચેના પ્રશ્નનો ઉત્તર આપો.

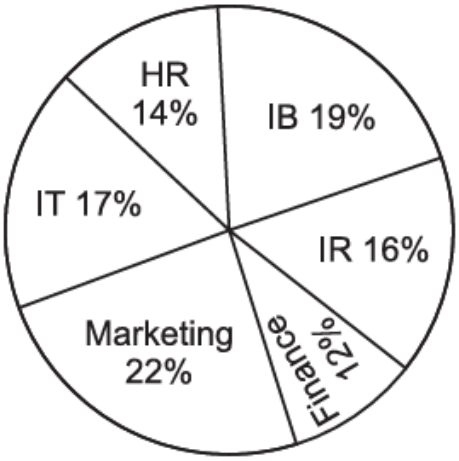

IR, Marketing અને IT માં વિશેષજ્ઞતા ધરાવતા વિદ્યાર્થીઓની કુલ સંખ્યા કેટલી છે?

Ans
✗ 1. 4,370
✗ 2. 4,200
✓ 3. 4,400
✗ 4. 4,280

Question Type : **MCQ**
Question ID : **4410091340329**
Option 1 ID : **4410095293358**
Option 2 ID : **4410095293356**
Option 3 ID : **4410095293355**
Option 4 ID : **4410095293357**
Status : **Answered**
Chosen Option : **3**

Q.9 C, D, S, T, W અને Y, આ દરેકને અલગ-અલગ ગુણ મળ્યા છે. C અને T ની વચ્ચે માત્ર ચાર વ્યક્તિઓએ ગુણ મેળવ્યા છે. W ને C પછી તરત જ આવતા ઓછા ગુણ મળ્યા છે. Y ને S કરતાં ઓછા પરંતુ D કરતાં વધુ ગુણ મળ્યા છે. D કરતાં વધુ ગુણ મેળવનાર વ્યક્તિઓની સંખ્યા કેટલી છે?

Ans
✗ 1. બે
✗ 2. ચાર
✓ 3. ત્રણ
✗ 4. એક

Question Type : **MCQ**
Question ID : **4410091737589**
Option 1 ID : **4410096852080**
Option 2 ID : **4410096852082**
Option 3 ID : **4410096852081**
Option 4 ID : **4410096852079**
Status : **Answered**
Chosen Option : **2**

WEBSANKUL ®

Downloaded from websankul.com

Q.10 નીચેનો રેખા આલેખ 5 દિવસ દરમિયાન એક શહેરનું તાપમાન (°C માં) દર્શાવે છે.

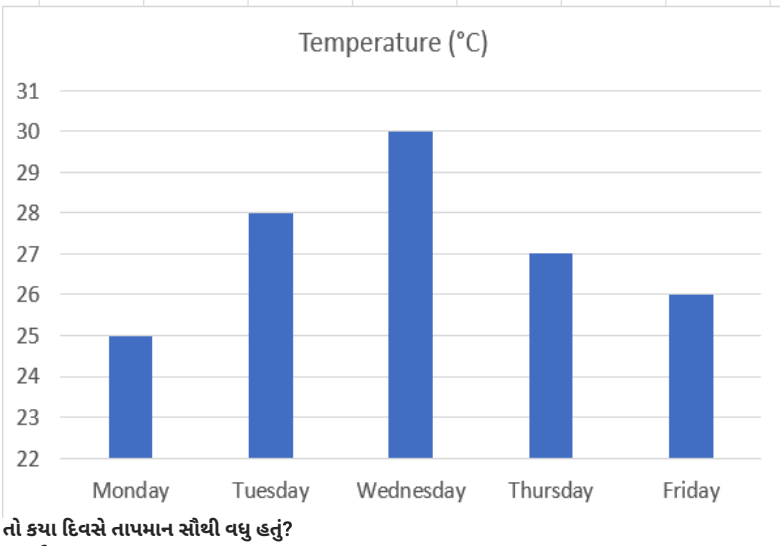

તો કયા દિવસે તાપમાન સૌથી વધુ હતું?
સંદર્ભ:
Temperature: તાપમાન, Monday: સોમવાર, Tuesday: મંગળવાર, Wednesday: બુધવાર, Thursday: ગુરુવાર, Friday: શુક્રવાર

Ans
✗ 1. ગુરુવાર
✓ 2. બુધવાર
✗ 3. શુક્રવાર
✗ 4. સોમવાર

Question Type : **MCQ**
Question ID : **4410091348860**
Option 1 ID : **4410095327664**
Option 2 ID : **4410095327663**
Option 3 ID : **4410095327665**
Option 4 ID : **4410095327662**
Status : **Answered**
Chosen Option : **2**

WEBSANKUL ®

Downloaded from websankul.com

Q.11 નીચે આપેલો સ્તંભાલેખ 5 વિદ્યાર્થીઓ - A, B, C, D અને E દ્વારા એક મહિનામાં વંચાયેલા પુસ્તકોની સંખ્યા દર્શાવે છે.

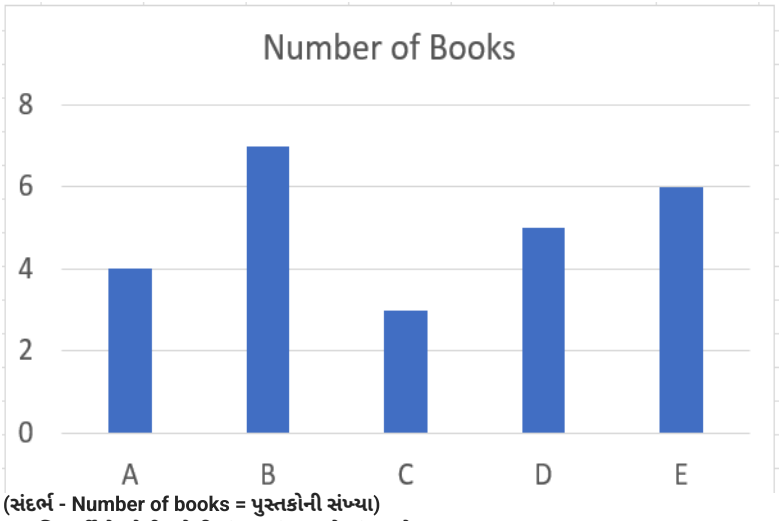

(સંદર્ભ - Number of books = પુસ્તકોની સંખ્યા)
કયા વિદ્યાર્થીએ સૌથી ઓછી સંખ્યામાં પુસ્તકો વાંચ્યા છે?

Ans
✔ 1. C
✘ 2. B
✘ 3. A
✘ 4. D

Question Type : **MCQ**
Question ID : **4410091348851**
Option 1 ID : **4410095327632**
Option 2 ID : **4410095327631**
Option 3 ID : **4410095327630**
Option 4 ID : **4410095327633**
Status : **Answered**
Chosen Option : **1**

WEBSANKUL ®

Downloaded from websankul.com

Q.12 આપેલા વિધાનો અને તારણોને કાળજીપૂર્વક વાંચો. ધારો કે વિધાનોમાં આપેલી માહિતી સાચી છે, ભલે તે સામાન્ય રીતે જાણીતા તથ્યોથી અલગ હોય, તો નક્કી કરો કે આપેલા તારણોમાંથી કયું તારણ/ કયા તારણો વિધાનોને તાર્કિક રીતે અનુસરે છે.

વિધાનો: બધા જ ટાયર, સીટ છે. બધી જ સીટ, વાઇપર છે.
તારણ (I): કેટલાક વાઇપર, ટાયર છે.
તારણ (II): કોઈ પણ વાઇપર, ટાયર નથી.

Ans
✗ 1. ન તો તારણ (I) કે ન તો તારણ (II) અનુસરે છે.
✓ 2. માત્ર તારણ (I) અનુસરે છે.
✗ 3. માત્ર તારણ (II) અનુસરે છે.
✗ 4. બંને તારણ (I) અને (II) અનુસરે છે.

Question Type : **MCQ**
Question ID : **441009995408**
Option 1 ID : **4410093933655**
Option 2 ID : **4410093933653**
Option 3 ID : **4410093933654**
Option 4 ID : **4410093933656**
Status : **Answered**
Chosen Option : **2**

Q.13 નીચે આપેલા વિધાનો અને તારણોને કાળજીપૂર્વક વાંચો. ધારી લો કે વિધાનોમાં આપેલી માહિતી સાચી છે, ભલે તે સામાન્ય રીતે જાણીતા તથ્યોથી અલગ હોય, અને નક્કી કરો કે આપેલા તારણોમાંથી કયું તારણ/ કયા તારણો વિધાનોને તાર્કિક રીતે અનુસરે છે.

વિધાનો :
બધા જ વૃક્ષો છોડ છે.
કેટલાક વૃક્ષો ફળો છે.
બધા જ ફળો ફૂલો છે.

તારણો:
(I) કેટલાક ફૂલો છોડ છે.
(II) કેટલાક ફળો છોડ છે.

Ans
✗ 1. ફક્ત તારણ (II) અનુસરે છે.
✗ 2. ન તો તારણ (I) કે ન તો તારણ (II) અનુસરે છે.
✓ 3. (I) અને (II) બંને તારણો અનુસરે છે.
✗ 4. ફક્ત તારણ (I) અનુસરે છે.

Question Type : **MCQ**
Question ID : **4410091354952**
Option 1 ID : **4410095352050**
Option 2 ID : **4410095352051**
Option 3 ID : **4410095352052**
Option 4 ID : **4410095352049**
Status : **Answered**
Chosen Option : **3**

WEBSANKUL®

Downloaded from websankul.com

Q.14 નીચે આપેલા વિધાનો અને તારણોને કાળજીપૂર્વક વાંચો. ધારી લો કે વિધાનોમાં આપેલી માહિતી સાચી છે, ભલે તે સામાન્ય રીતે જાણીતા તથ્યોથી અલગ હોય, અને નક્કી કરો કે આપેલા તારણોમાંથી કયું તારણ/ કયા તારણો વિધાનોને તાર્કિક રીતે અનુસરે છે.

વિધાનો:
બધા કેમેરા ફોટોગ્રાફ્સ છે.
બધા કેમેરા ચામાચીડિયા છે.

તારણો:
(I) કેટલાક ફોટોગ્રાફ્સ ચામાચીડિયા છે.
(II) બધા ચામાચીડિયા કેમેરા છે.

Ans
✗ 1. (I) અને (II) બંને તારણો અનુસરે છે.
✗ 2. ફક્ત તારણ (II) અનુસરે છે.
✗ 3. ન તો તારણ (I) કે ન તો તારણ (II) અનુસરે છે.
✓ 4. ફક્ત તારણ (I) અનુસરે છે.

Question Type : **MCQ**
Question ID : **4410091147395**
Option 1 ID : **4410094524539**
Option 2 ID : **4410094524537**
Option 3 ID : **4410094524538**
Option 4 ID : **4410094524536**
Status : **Answered**
Chosen Option : **4**

Q.15 નીચે આપેલી શ્રેણીમાં પ્રશ્ન ચિહ્ન (?)ના સ્થાને શું આવવું જોઈએ?

47 64 81 98 115 ?

Ans
✗ 1. 130
✗ 2. 128
✗ 3. 134
✓ 4. 132

Question Type : **MCQ**
Question ID : **4410091456928**
Option 1 ID : **4410095756015**
Option 2 ID : **4410095756017**
Option 3 ID : **4410095756014**
Option 4 ID : **4410095756016**
Status : **Answered**
Chosen Option : **4**

WEBSANKUL®

Downloaded from websankul.com

Q.16 નીચે આપેલી શ્રેણીમાં '?' નાં સ્થાને શું આવવું જોઈએ?

43 59 77 97 119 ?

Ans
✗ 1. 141
✗ 2. 144
✗ 3. 142
✓ 4. 143

Question Type : **MCQ**
Question ID : **4410091982428**
Option 1 ID : **4410097808517**
Option 2 ID : **4410097808520**
Option 3 ID : **4410097808518**
Option 4 ID : **4410097808519**
Status : **Answered**
Chosen Option : **4**

Q.17 A, B, C, D, E, F અને G ની ઊંચાઈ અલગ-અલગ છે. A એ G કરતાં ઊંચો છે પરંતુ F કરતાં નીચો છે. E એ D કરતાં નીચો છે પરંતુ B કરતાં ઊંચો છે. C એ F કરતાં ઊંચો છે પરંતુ B કરતાં નીચો છે. આ બધામાં બીજા ક્રમે સૌથી ઊંચું કોણ છે?

Ans
✗ 1. C
✓ 2. E
✗ 3. F
✗ 4. A

Question Type : **MCQ**
Question ID : **4410091355035**
Option 1 ID : **4410095352391**
Option 2 ID : **4410095352392**
Option 3 ID : **4410095352389**
Option 4 ID : **4410095352390**
Status : **Answered**
Chosen Option : **2**

WEBSANKUL

Downloaded from websankul.com

Q.18 નીચેના વર્ગો વચ્ચેના સંબંધને શ્રેષ્ઠ રીતે દર્શાવતી વેન આકૃતિ (Venn diagram) પસંદ કરો.
પૃથ્વી, જમીન, સમુદ્ર

Ans

✗ 1. 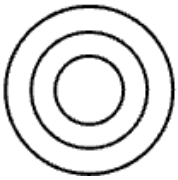

✗ 2. 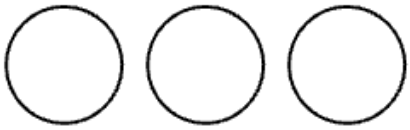

✓ 3. 

✗ 4. 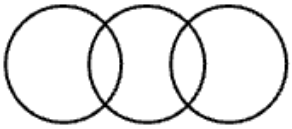

Question Type : **MCQ**
Question ID : **4410091354899**
Option 1 ID : **4410095351823**
Option 2 ID : **4410095351822**
Option 3 ID : **4410095351821**
Option 4 ID : **4410095351824**
Status : **Answered**
Chosen Option : **3**

Q.19 છ વ્યવસાયીઓ V, W, X, Y, Z અને Q પૈકી દરેક એક વર્તુળાકાર ટેબલની ફરતે કેન્દ્ર તરફ મુખ રાખીને બેઠા છે. Z એ Y ની ડાબી બાજુએ ત્રીજા સ્થાને બેઠો છે. Q એ Z અને V બંનેની તરત જ બાજુમાં બેઠો છે. V એ Y ની તરત જ જમણી બાજુએ બેઠો છે. X એ W ની તરત જ ડાબી બાજુએ બેઠો છે. _____ એ Q ની ડાબી બાજુએ ત્રીજા સ્થાને બેઠો છે.

Ans

✗ 1. Z

✗ 2. V

✓ 3. W

✗ 4. X

Question Type : **MCQ**
Question ID : **4410091982358**
Option 1 ID : **4410097808243**
Option 2 ID : **4410097808245**
Option 3 ID : **4410097808242**
Option 4 ID : **4410097808244**
Status : **Answered**
Chosen Option : **3**

WEBSANKUL ®

Downloaded from websankul.com

Q.20 B એ C ની પત્ની છે. C એ M ના પિતા છે. M એ Q ની બહેન છે. Q એ K નો પતિ છે. તો B એ K સાથે કેવી રીતે સંબંધિત છે?

Ans
✔ 1. પતિની માતા
✘ 2. પત્નીની બહેન
✘ 3. પુત્રીની પુત્રી
✘ 4. પતિની બહેન

Question Type : **MCQ**
Question ID : **4410091355104**
Option 1 ID : **4410095352670**
Option 2 ID : **4410095352669**
Option 3 ID : **4410095352671**
Option 4 ID : **4410095352672**
Status : **Answered**
Chosen Option : **1**

WEBSANKUL

Downloaded from websankul.com

Q.21 જ્યારે અરીસાને નીચે દર્શાવ્યા મુજબ MN પર રાખવામાં આવે ત્યારે આપેલી આકૃતિનું સાચું પ્રતિબિંબ પસંદ કરો.

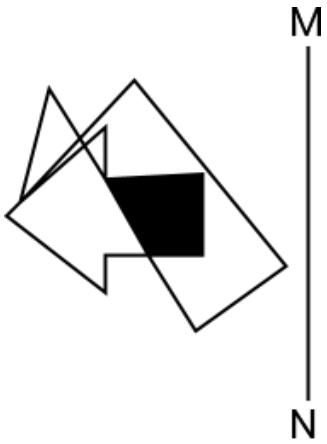

Ans

✔ 1.

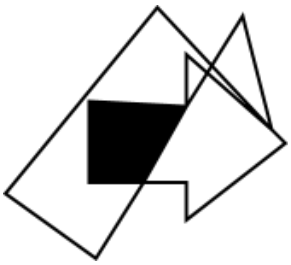

✘ 2.



✘ 3.



WEBSANKUL ®

Downloaded from websankul.com

✗ 4.

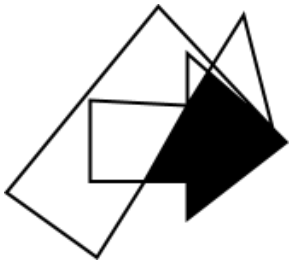

Question Type : **MCQ**
Question ID : **4410091981267**
Option 1 ID : **4410097803885**
Option 2 ID : **4410097803884**
Option 3 ID : **4410097803887**
Option 4 ID : **4410097803886**
Status : **Answered**
Chosen Option : **1**

WEBSANKUL®

Downloaded from **websankul.com**

Q.22 નીચે આપેલા વિકલ્પોમાંથી આકૃતિ શોધો, જે પ્રશ્નાર્થ ચિહ્ન (?) ની જગ્યાએ મૂકવાથી આકૃતિઓની શ્રેણીને તાર્કિક રીતે પૂર્ણ કરશે.

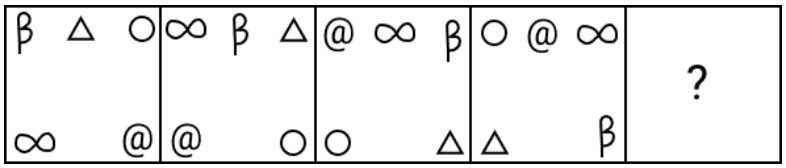

Ans

✗ 1.

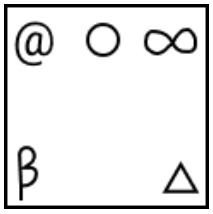

✓ 2.

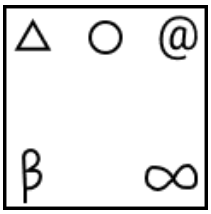

✗ 3.

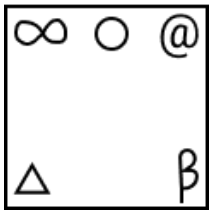

✗ 4.



Question Type : **MCQ**
Question ID : **4410091356054**
Option 1 ID : **4410095356446**
Option 2 ID : **4410095356447**
Option 3 ID : **4410095356448**
Option 4 ID : **4410095356445**
Status : **Answered**
Chosen Option : **2**

WEBSANKUL ®

Downloaded from websankul.com

Q.23 જો '+' અને '-' ની પરસ્પર અદલાબદલી કરવામાં આવે અને 'x' અને '÷' ની પરસ્પર અદલાબદલી કરવામાં આવે, તો નીચેના સમીકરણમાં '?' ના સ્થાને શું આવશે?
55 x 11 - 2 ÷ 8 + 3 =?

Ans
✗ 1. 20
✓ 2. 18
✗ 3. 22
✗ 4. 16

Question Type : **MCQ**
Question ID : **4410091575301**
Option 1 ID : **4410096221874**
Option 2 ID : **4410096221873**
Option 3 ID : **4410096221875**
Option 4 ID : **4410096221872**
Status : **Answered**
Chosen Option : **2**

Q.24 નીચે બે સંખ્યાના સેટ આપેલા છે. દરેક સેટમાં, પ્રથમ સંખ્યા પર અમુક ગાણિતિક ક્રિયાઓ લાગુ કરીને બીજી સંખ્યા મેળવવામાં આવે છે. એજ રીતે, બીજી સંખ્યા પર અમુક ગાણિતિક ક્રિયાઓ લાગુ કરીને ત્રીજી સંખ્યા મેળવવામાં આવે છે અને એજ પ્રમાણે આ ક્રિયાનું અનુસરણ કરાય છે. તો આપેલા વિકલ્પોમાંથી કયો વિકલ્પ એ સમાન ક્રિયાઓને અનુસરે છે જે પ્રશ્નમાં આપેલા સેટ દ્વારા અનુસરવામાં આવી છે?
(નોંધ – કોઈ પણ બે કે ત્રણ અંકની સંખ્યાને પ્રક્રિયાઓ કરવા માટે તેના વ્યક્તિગત અંકોમાં વિભાજીત કરી શકાશે નહીં. ઉદાહરણ તરીકે, જો 37 પછી 10 આપેલા હોય, તો ગાણિતિક ક્રિયા 3+7 હોઈ શકે નહીં, કારણ કે બે અંકની સંખ્યાને વ્યક્તિગત અંકોમાં અલગ કરી શકાતી નથી)

1 - 3 - 5 - 7 ; 3 - 5 - 7 - 9

Ans
✗ 1. 6 - 8 - 10 - 13
✗ 2. 2 - 4 - 6 - 9
✗ 3. 9 - 11 - 12 - 15
✓ 4. 13 - 15 - 17 - 19

Question Type : **MCQ**
Question ID : **4410091337435**
Option 1 ID : **4410095281645**
Option 2 ID : **4410095281644**
Option 3 ID : **4410095281646**
Option 4 ID : **4410095281643**
Status : **Answered**
Chosen Option : **4**

WEBSANKUL

Downloaded from websankul.com

Q.25 **આ પ્રશ્નમાં, એક પ્રશ્ન પછી (I) અને (II) ક્રમાંકિત બે વિધાનો આપવામાં આવ્યા છે. તમારે નક્કી કરવાનું છે કે વિધાનોમાં આપેલી માહિતી એ પ્રશ્નનો જવાબ આપવા માટે પૂરતી છે કે નહીં. બંને વિધાનો વાંચો અને સૌથી યોગ્ય જવાબ પસંદ કરો.**

પ્રશ્ન:
5 વ્યક્તિઓ ગોલુ, હીના, જેકી, મોહન અને રાહુલ પૈકી દરેકની અલગ-અલગ ઊંચાઈ છે, કઈ વ્યક્તિ સૌથી ઊંચી છે?

વિધાનો:
(I) મોહન એ હીના કરતાં ઊંચો છે અને હીના એ રાહુલ કરતાં ઊંચી છે. ગોલુ એ જેકી કરતાં ઊંચો છે.
(II) મોહન એ ગોલુ અને હીના બંને કરતાં ઊંચો છે. મોહન એ જેકી કરતાં ઊંચો છે. રાહુલ સૌથી ઊંચો નથી.

Ans ✗ 1. વિધાન (I) અને (II) માં આપેલી માહિતીને એકસાથે લેતા (અને વિધાન I અથવા વિધાન II ની માહિતીને એકલી રીતે ધ્યાનમાં ન લેતા) તે પ્રશ્નનો જવાબ આપવા માટે પૂરતી છે.

✗ 2. વિધાન (I) અને (II) માં આપેલી માહિતીને એકસાથે લેતા તે પ્રશ્નનો જવાબ આપવા માટે પૂરતી નથી.

✗ 3. વિધાન (I) માં આપેલી માહિતી એકલી જ પ્રશ્નનો જવાબ આપવા માટે પૂરતી છે, જ્યારે કે વિધાન (II) માં આપેલી માહિતી એકલી પ્રશ્નનો જવાબ આપવા માટે પૂરતી નથી.

✓ 4. વિધાન (II) માં આપેલી માહિતી એકલી જ પ્રશ્નનો જવાબ આપવા માટે પૂરતી છે, જ્યારે કે વિધાન (I) માં આપેલી માહિતી એકલી પ્રશ્નનો જવાબ આપવા માટે પૂરતી નથી.

Question Type : **MCQ**
Question ID : **4410091982373**
Option 1 ID : **4410097808304**
Option 2 ID : **4410097808305**
Option 3 ID : **4410097808302**
Option 4 ID : **4410097808303**
Status : **Answered**
Chosen Option : **4**

WEBSANKUL ®

Downloaded from websankul.com

Q.26 આ પ્રશ્નમાં, એક પ્રશ્ન પછી (I) અને (II) ક્રમાંકિત બે વિધાન આપેલા છે. તમારે નક્કી કરવાનું છે કે વિધાનોમાં આપેલી માહિતી પ્રશ્નનો જવાબ આપવા માટે પૂરતી છે કે નહીં. બંને વિધાન વાંચો અને સૌથી યોગ્ય જવાબ પસંદ કરો.

પ્રશ્ન:
પાંચ લોકો – L, M, N, O, અને P – એક સીધી રેખામાં બેઠા છે. મધ્યમાં (વચ્ચે) કોણ બેઠું છે?

વિધાન:
(I) L એ N ની ડાબી બાજુએથી બીજા સ્થાને બેઠો છે. M એ L ની તરત જમણી બાજુએ બેઠો છે.
(II) P એક છેડે બેઠો છે. O એ P ની તરત બાજુમાં બેઠો નથી.

Ans
✗ 1. વિધાન (II) માં આપેલી માહિતી એકલી જ પ્રશ્નનો જવાબ આપવા માટે પૂરતી છે, જ્યારે કે વિધાન (I) માં આપેલી માહિતી પ્રશ્નનો જવાબ આપવા માટે પૂરતી નથી.

✓ 2. વિધાન (I) અને (II) બંનેમાં આપેલી માહિતીને એકસાથે લેતા (અને વિધાન I અથવા વિધાન II ની માહિતીને એકલી રીતે ધ્યાનમાં ન લેતા) તે પ્રશ્નનો જવાબ આપવા માટે પૂરતી છે.

✗ 3. વિધાન (I) અને (II) બંનેમાં આપેલી માહિતીને એકસાથે લેતા તે પ્રશ્નનો જવાબ આપવા માટે પૂરતી નથી.

✗ 4. વિધાન (I) માં આપેલી માહિતી એકલી જ પ્રશ્નનો જવાબ આપવા માટે પૂરતી છે, જ્યારે કે વિધાન (II) માં આપેલી માહિતી પ્રશ્નનો જવાબ આપવા માટે પૂરતી નથી.

Question Type : **MCQ**
Question ID : **4410091025416**
Option 1 ID : **4410094053310**
Option 2 ID : **4410094053307**
Option 3 ID : **4410094053308**
Option 4 ID : **4410094053309**
Status : **Answered**
Chosen Option : **2**

Q.27 જો સંખ્યા 864957 ના દરેક અંકમાંથી 3 બાદ કરવામાં આવે, તો મળતી નવી સંખ્યામાં કેટલા અંક બેકી હશે?

Ans
✗ 1. 4

✗ 2. 2

✓ 3. 3

✗ 4. 5

Question Type : **MCQ**
Question ID : **4410091969923**
Option 1 ID : **4410097759264**
Option 2 ID : **4410097759263**
Option 3 ID : **4410097759261**
Option 4 ID : **4410097759262**
Status : **Answered**
Chosen Option : **3**

WEBSANKUL ®

Downloaded from websankul.com

Q.28 એક ચોક્કસ તર્કને અનુસરીને 11 એ 125 સાથે સંબંધિત છે. સમાન તર્કને અનુસરીને, 4 એ 20 સાથે સંબંધિત છે. તે સમાન તર્કને અનુસરીને, 15 એ આપેલા વિકલ્પોમાંથી કયા વિકલ્પની સાથે સંબંધિત છે?
(નોંધ: સંખ્યાઓને તેમના ઘટક અંકોમાં વિભાજીત કર્યા વિના, પૂર્ણ સંખ્યાઓ પર ક્રિયાઓ (Operations) કરવાની રહેશે. દા.ત. 13 લો – 13 આ સંખ્યા પર ક્રિયાઓ (Operations) જેમ કે 13 માં સરવાળો/ બાદબાકી/ ગુણાકાર વગેરે પૂર્ણ 13 પર કરી શકાય છે. 13 ને 1 અને 3 માં વિભાજિત કરીને ત્યારબાદ 1 અને 3 પર ગાણિતિક ક્રિયાઓ કરવાની છૂટ નથી.)

Ans
✗ 1. 231
✗ 2. 230
✗ 3. 227
✓ 4. 229

Question Type : **MCQ**
Question ID : **4410091982460**
Option 1 ID : **4410097808654**
Option 2 ID : **4410097808656**
Option 3 ID : **4410097808655**
Option 4 ID : **4410097808653**
Status : **Answered**
Chosen Option : **4**

Q.29 છ મિત્રો — આર્યન, ભરત, ચેતન, દિવ્યા, ઈશાની અને ફરહાન — એ એક કસોટીમાં અલગ-અલગ ગુણ મેળવ્યા છે. દિવ્યાએ ભરત કરતાં વધુ ગુણ મેળવ્યા છે. ઈશાનીએ ચેતન કરતાં ઓછા ગુણ મેળવ્યા છે. ચેતને ભરત કરતાં ઓછા ગુણ મેળવ્યા છે. આર્યને દિવ્યા કરતાં વધુ ગુણ મેળવ્યા છે. ફરહાને આર્યન કરતાં વધુ ગુણ મેળવ્યા છે. નીચે આપેલી ખાલી જગ્યા પૂરો.
તો કસોટીમાં _____ એ બીજા ક્રમે સૌથી ઓછા ગુણ મેળવ્યા છે.

Ans
✗ 1. દિવ્યા
✗ 2. ઈશાની
✓ 3. ચેતન
✗ 4. ભરત

Question Type : **MCQ**
Question ID : **4410091982344**
Option 1 ID : **4410097808187**
Option 2 ID : **4410097808188**
Option 3 ID : **4410097808186**
Option 4 ID : **4410097808189**
Status : **Answered**
Chosen Option : **3**

WEBSANKUL®

Downloaded from websankul.com

Q.30 એ વિકલ્પ આકૃતિ પસંદ કરો જેમાં તેના એક ભાગ રૂપે નીચે આપેલી આકૃતિ સમાયેલી (જડેલી) હોય છે.
(આકૃતિને ફેરવવાની છૂટ નથી.)



Ans

✔ 1. 

✘ 2. 

✘ 3. 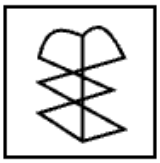

✘ 4. 

Question Type : **MCQ**
Question ID : **4410091711189**
Option 1 ID : **4410096749060**
Option 2 ID : **4410096749061**
Option 3 ID : **4410096749063**
Option 4 ID : **4410096749062**
Status : **Answered**
Chosen Option : **1**

WEBSANKUL ®

Downloaded from websankul.com

Q.31 નીચેનામાંથી કઈ સંખ્યા 9 વડે વિભાજ્ય છે?

Ans
✗ 1. 5232
✓ 2. 7812
✗ 3. 6524
✗ 4. 4371

Question Type : **MCQ**
Question ID : **4410091345515**
Option 1 ID : **4410095314753**
Option 2 ID : **4410095314754**
Option 3 ID : **4410095314755**
Option 4 ID : **4410095314752**
Status : **Answered**
Chosen Option : **2**

Q.32 એક વ્યક્તિની વર્તમાન ઉંમર તેના પુત્રની વર્તમાન ઉંમર કરતાં ચાર ગણી છે. પાંચ વર્ષ પહેલાં, તે વ્યક્તિની ઉંમર તેના પુત્રની તે સમયની ઉંમર કરતાં નવ ગણી હતી. તો તે વ્યક્તિની વર્તમાન ઉંમર શોધો.

Ans
✗ 1. 34 વર્ષ
✓ 2. 32 વર્ષ
✗ 3. 28 વર્ષ
✗ 4. 35 વર્ષ

Question Type : **MCQ**
Question ID : **4410091333760**
Option 1 ID : **4410095266714**
Option 2 ID : **4410095266713**
Option 3 ID : **4410095266715**
Option 4 ID : **4410095266712**
Status : **Answered**
Chosen Option : **2**

Q.33 એક કાર 20 m/s ની ઝડપે ગતિ કરે છે. 6 km નું અંતર કાપવા માટે તેને કેટલો સમય લાગશે?

Ans
✓ 1. 300 સેકન્ડ
✗ 2. 350 સેકન્ડ
✗ 3. 200 સેકન્ડ
✗ 4. 250 સેકન્ડ

Question Type : **MCQ**
Question ID : **4410091348569**
Option 1 ID : **4410095326512**
Option 2 ID : **4410095326513**
Option 3 ID : **4410095326510**
Option 4 ID : **4410095326511**
Status : **Answered**
Chosen Option : **1**

WEBSANKUL

Downloaded from websankul.com

Q.34 A એકલો ₹800 નું કામ 5 દિવસમાં કરી શકે છે. પરંતુ B ની મદદ લઈને, તે આ કામ 4 દિવસમાં પૂરું કરી શકે છે. તો B નો હિસ્સો શોધો.

Ans
✔ 1. ₹160
✘ 2. ₹120
✘ 3. ₹150
✘ 4. ₹200

Question Type : **MCQ**
Question ID : **441009208854**
Option 1 ID : **441009820701**
Option 2 ID : **441009820700**
Option 3 ID : **441009820702**
Option 4 ID : **441009820699**
Status : **Answered**
Chosen Option : **1**

Q.35 એક માણસની માસિક આવક ₹12,000 છે અને તેનો ખર્ચ તેની આવકના 75% છે. તે એક વર્ષમાં કેટલી બચત કરે છે?

Ans
✔ 1. ₹36,000
✘ 2. ₹32,000
✘ 3. ₹42,000
✘ 4. ₹30,000

Question Type : **MCQ**
Question ID : **4410091347800**
Option 1 ID : **4410095323484**
Option 2 ID : **4410095323483**
Option 3 ID : **4410095323485**
Option 4 ID : **4410095323482**
Status : **Answered**
Chosen Option : **1**

Q.36 એક સમાંતર શ્રેણીમાં પ્રથમ પદ 5 અને સામાન્ય તફાવત 3 છે. તો આ શ્રેણીનું 10મું પદ શોધો.

Ans
✘ 1. 37
✘ 2. 30
✘ 3. 35
✔ 4. 32

Question Type : **MCQ**
Question ID : **4410091348665**
Option 1 ID : **4410095326899**
Option 2 ID : **4410095326896**
Option 3 ID : **4410095326898**
Option 4 ID : **4410095326897**
Status : **Answered**
Chosen Option : **4**

WEBSANKUL

Downloaded from websankul.com

Q.37 એક વસ્તુને ₹1920 માં વેચવાથી થતી નફાની ટકાવારી, તે જ વસ્તુને ₹1280 માં વેચવાથી થતી ખોટની ટકાવારી જેટલી જ છે. તો 25% નફો મેળવવા માટે તે વસ્તુ કઈ કિંમતે વેચવી જોઈએ?

Ans
✔ 1. ₹2000
✘ 2. ₹2240
✘ 3. ₹2170
✘ 4. ₹2080

Question Type : **MCQ**
Question ID : **4410091339508**
Option 1 ID : **4410095290183**
Option 2 ID : **4410095290186**
Option 3 ID : **4410095290185**
Option 4 ID : **4410095290184**
Status : **Answered**
Chosen Option : **1**

Q.38 જો 8 kg ચોખાની કિંમત ₹960 હોય, તો 5 kg ચોખાની કિંમત કેટલી થાશે?

Ans
✔ 1. ₹600
✘ 2. ₹540
✘ 3. ₹620
✘ 4. ₹480

Question Type : **MCQ**
Question ID : **4410091323381**
Option 1 ID : **4410095224983**
Option 2 ID : **4410095224985**
Option 3 ID : **4410095224986**
Option 4 ID : **4410095224984**
Status : **Answered**
Chosen Option : **1**

Q.39 અમન એક જૂનું સ્કૂટર ₹6700 માં ખરીદે છે અને તેના સમારકામ પાછળ ₹800 નો ખર્ચ કરે છે. જો તે આ સ્કૂટર ₹8500 માં વેચે, તો તેને કેટલા ટકા નફો થાય? (તમારા જવાબને દશાંશ ચિહ્ન પછી બે અંક સુધી દર્શાવો.)

Ans
✔ 1. 13.33%
✘ 2. 14.82%
✘ 3. 12.12%
✘ 4. 14.12%

Question Type : **MCQ**
Question ID : **4410091339470**
Option 1 ID : **4410095290031**
Option 2 ID : **4410095290033**
Option 3 ID : **4410095290034**
Option 4 ID : **4410095290032**
Status : **Answered**
Chosen Option : **1**

WEBSANKUL

Downloaded from websankul.com

Q.40 ત્રણ સંખ્યાઓ $\frac{1}{2}:\frac{2}{3}:\frac{3}{4}$ ના ગુણોત્તરમાં છે. જો સૌથી મોટી અને સૌથી નાની સંખ્યા વચ્ચેનો તફાવત 36 હોય, તો સૌથી નાની સંખ્યા શોધો.

Ans
✗ 1. 78
✓ 2. 72
✗ 3. 94
✗ 4. 82

Question Type : **MCQ**
Question ID : **4410091338487**
Option 1 ID : **4410095285982**
Option 2 ID : **4410095285980**
Option 3 ID : **4410095285983**
Option 4 ID : **4410095285981**
Status : **Answered**
Chosen Option : **2**

Q.41 એક વસ્તુની છાપેલી કિંમત ₹3,000 છે. દુકાનદાર તે વસ્તુ પર 20% અને 15% ના બે ક્રમિક વળતર (ડિસ્કાઉન્ટ) આપે છે, તો તે વસ્તુની અંતિમ વેચાણ કિંમત શોધો.

Ans
✗ 1. ₹2160
✓ 2. ₹2040
✗ 3. ₹2190
✗ 4. ₹2090

Question Type : **MCQ**
Question ID : **4410091339552**
Option 1 ID : **4410095290460**
Option 2 ID : **4410095290459**
Option 3 ID : **4410095290461**
Option 4 ID : **4410095290462**
Status : **Answered**
Chosen Option : **2**

WEBSANKUL

Downloaded from websankul.com

Q.42 એક ટ્રક 30 km/h ની ઝડપે 330 km નું અંતર કાપે છે. એક કાર તેટલા જ સમયમાં ટ્રક કરતાં 110 km અંતર વધુ કાપે છે, તો કારની સરેરાશ ઝડપ કેટલી હશે?

Ans
1. $38\ km/h$
2. $40\ km/h$
3. $42\ km/h$
4. $36\ km/h$

Question Type : **MCQ**
Question ID : **4410091338518**
Option 1 ID : **4410095286127**
Option 2 ID : **4410095286124**
Option 3 ID : **4410095286125**
Option 4 ID : **4410095286126**
Status : **Answered**
Chosen Option : **2**

Q.43 એક દુકાનદાર ₹40/kg ના ભાવની 10 kg ખાંડ અને ₹50/kg ના ભાવની 15 kg ખાંડને એકસાથે મિશ્ર કરે છે. તો ખાંડનો પ્રતિ kg સરેરાશ ભાવ કેટલો થશે?

Ans
1. ₹35
2. ₹64
3. ₹52
4. ₹46

Question Type : **MCQ**
Question ID : **4410091345493**
Option 1 ID : **4410095314664**
Option 2 ID : **4410095314667**
Option 3 ID : **4410095314666**
Option 4 ID : **4410095314665**
Status : **Answered**
Chosen Option : **4**

Q.44 બે સંખ્યાઓનો ગુ.સા.અ. 29 છે અને તેમના લ.સા.અ. ના અન્ય બે અવયવો 16 અને 19 છે. જો આપેલી બંને સંખ્યાઓ ગુ.સા.અ. કરતાં મોટી હોય, તો તે બે સંખ્યાઓમાંથી મોટી સંખ્યા શોધો.

Ans
1. 553
2. 461
3. 463
4. 551

Question Type : **MCQ**
Question ID : **4410091336516**
Option 1 ID : **4410095277871**
Option 2 ID : **4410095277873**
Option 3 ID : **4410095277872**
Option 4 ID : **4410095277870**
Status : **Answered**
Chosen Option : **4**

WEBSANKUL

Downloaded from websankul.com

Q.45 એક માણસ પ્રવાહની દિશામાં 24 km હોડી ચલાવવા માટે 4 કલાક અને પ્રવાહની વિરુદ્ધ દિશામાં 20 km હોડી ચલાવવા માટે 4 કલાકનો સમય લે છે. તો પ્રવાહની ઝડપ શોધો.

Ans
✗ 1. $0.76\ km/h$
✓ 2. $0.5\ km/h$
✗ 3. $1.2\ km/h$
✗ 4. $1.4\ km/h$

Question Type : **MCQ**
Question ID : **4410091338534**
Option 1 ID : **4410095286205**
Option 2 ID : **4410095286204**
Option 3 ID : **4410095286206**
Option 4 ID : **4410095286207**
Status : **Answered**
Chosen Option : **2**

Q.46 એક ફળ વેચનાર પાસે કેટલાક કેળાં છે. તેમાંથી તે 60% કેળાં વેચે છે અને હજી પણ તેની પાસે 540 કેળાં બાકી રહે છે. શરૂઆતમાં તેની પાસે કુલ કેટલા કેળાં હતા?

Ans
✓ 1. 1,350
✗ 2. 2,025
✗ 3. 900
✗ 4. 1,215

Question Type : **MCQ**
Question ID : **441009153624**
Option 1 ID : **441009609666**
Option 2 ID : **441009609669**
Option 3 ID : **441009609667**
Option 4 ID : **441009609668**
Status : **Answered**
Chosen Option : **1**

Q.47 નીચેનામાંથી કઈ સંખ્યા 11 વડે વિભાજ્ય છે?

Ans
✗ 1. 5831
✗ 2. 6279
✗ 3. 7152
✓ 4. 4620

Question Type : **MCQ**
Question ID : **4410091345521**
Option 1 ID : **4410095314777**
Option 2 ID : **4410095314776**
Option 3 ID : **4410095314778**
Option 4 ID : **4410095314779**
Status : **Answered**
Chosen Option : **4**

WEBSANKUL

Downloaded from websankul.com

Q.48 એક સાયકલની છાપેલી કિંમત ₹5,000 છે. જો દુકાનદાર 12% વળતર આપે, તો સાયકલની વેચાણ કિંમત કેટલી થાય?

Ans
✗ 1. ₹4,200
✓ 2. ₹4,400
✗ 3. ₹4,500
✗ 4. ₹4,300

Question Type : **MCQ**
Question ID : **4410091348490**
Option 1 ID : **4410095326201**
Option 2 ID : **4410095326203**
Option 3 ID : **4410095326204**
Option 4 ID : **4410095326202**
Status : **Answered**
Chosen Option : **2**

Q.49 એક કસોટીમાં પાંચ વિદ્યાર્થીઓએ મેળવેલા ગુણ 12, 15, 18, 20, અને 25 છે. તો વિદ્યાર્થીઓના સરેરાશ ગુણ શોધો.

Ans
✓ 1. 18
✗ 2. 20
✗ 3. 19
✗ 4. 17

Question Type : **MCQ**
Question ID : **4410091345473**
Option 1 ID : **4410095314585**
Option 2 ID : **4410095314587**
Option 3 ID : **4410095314586**
Option 4 ID : **4410095314584**
Status : **Answered**
Chosen Option : **1**

Q.50 એક સમાંતર શ્રેણીનું પ્રથમ પદ 7 છે અને સામાન્ય તફાવત 4 છે. આ શ્રેણીનું 15મું પદ શોધો.

Ans
✗ 1. 68
✗ 2. 65
✗ 3. 66
✓ 4. 63

Question Type : **MCQ**
Question ID : **4410091348759**
Option 1 ID : **4410095327275**
Option 2 ID : **4410095327273**
Option 3 ID : **4410095327274**
Option 4 ID : **4410095327272**
Status : **Answered**
Chosen Option : **4**

WEBSANKUL
Downloaded from websankul.com

Q.51 જો ₹4,800 ને A અને B વચ્ચે 3 : 5 ના ગુણોત્તરમાં વહેંચવામાં આવે, તો B ને કેટલા મળશે?

Ans
✗ 1. ₹1,800
✗ 2. ₹3,600
✓ 3. ₹3,000
✗ 4. ₹2,400

Question Type : **MCQ**
Question ID : **4410091348504**
Option 1 ID : **4410095326257**
Option 2 ID : **4410095326260**
Option 3 ID : **4410095326259**
Option 4 ID : **4410095326258**
Status : **Answered**
Chosen Option : **3**

Q.52 એક વિદ્યાર્થીએ ગણિતમાં 80 ગુણ, વિજ્ઞાનમાં 70 ગુણ, અને અંગ્રેજીમાં 90 ગુણ મેળવ્યા છે. જો આ વિષયોના ભાર અનુક્રમે 3, 2, અને 5 હોય, તો વિદ્યાર્થીના ગુણનો ભારિત સરેરાશ શોધો.

Ans
✗ 1. 81
✗ 2. 82
✗ 3. 84
✓ 4. 83

Question Type : **MCQ**
Question ID : **4410091345486**
Option 1 ID : **4410095314636**
Option 2 ID : **4410095314637**
Option 3 ID : **4410095314639**
Option 4 ID : **4410095314638**
Status : **Answered**
Chosen Option : **4**

Q.53 126 ને બે ભાગમાં એવી રીતે વિભાજિત કરો કે જેથી તેમનો ગુણોત્તર 4 : 3 થાય. તો નાનો ભાગ કેટલો હશે?

Ans
✗ 1. 48
✗ 2. 36
✓ 3. 54
✗ 4. 42

Question Type : **MCQ**
Question ID : **4410091348518**
Option 1 ID : **4410095326315**
Option 2 ID : **4410095326313**
Option 3 ID : **4410095326316**
Option 4 ID : **4410095326314**
Status : **Answered**
Chosen Option : **3**

WEBSANKUL

Downloaded from websankul.com

Q.54 બે પાઇપ A અને B એક ટાંકીને અનુક્રમે 10 કલાક અને 15 કલાકમાં ભરી શકે છે. જો બંને પાઇપ એકસાથે ખોલવામાં આવે, તો પાઇપ B ને કેટલા સમય પછી બંધ કરવી જોઈએ જેથી ટાંકી 9 કલાકમાં પૂરેપૂરી ભરાઈ જાય?

Ans
✗ 1. $1\frac{1}{3}$ કલાક
✗ 2. $\frac{2}{3}$ કલાક
✗ 3. $\frac{3}{5}$ કલાક
✓ 4. $1\frac{1}{2}$ કલાક

Question Type : **MCQ**
Question ID : **4410091338491**
Option 1 ID : **4410095286005**
Option 2 ID : **4410095286007**
Option 3 ID : **4410095286006**
Option 4 ID : **4410095286004**
Status : **Answered**
Chosen Option : **1**

Q.55 સાદું રૂપ આપો: $\left(\frac{2}{5}\right)x^2 + 4x - \frac{3}{5} + \left(\frac{3}{5}\right)x^2 - 6x + \frac{8}{5}$

Ans
✗ 1. $x^2 - 2x - 1$
✗ 2. $x^2 + 2x + 1$
✗ 3. $-x^2 - 2x + 1$
✓ 4. $x^2 - 2x + 1$

Question Type : **MCQ**
Question ID : **441009833137**
Option 1 ID : **4410093285665**
Option 2 ID : **4410093285666**
Option 3 ID : **4410093285667**
Option 4 ID : **4410093285664**
Status : **Answered**
Chosen Option : **4**

WEBSANKUL®

Downloaded from websankul.com

Q.56 25 − [6 ÷ 2 × (3 + 4)] નું સાદું રૂપ આપો.

Ans
✗ 1. 15
✓ 2. 4
✗ 3. 13
✗ 4. 7

Question Type : **MCQ**
Question ID : **4410091346297**
Option 1 ID : **4410095317499**
Option 2 ID : **4410095317496**
Option 3 ID : **4410095317498**
Option 4 ID : **4410095317497**
Status : **Answered**
Chosen Option : **2**

Q.57 $\frac{3}{4} + 0.25$ નું સાદું રૂપ આપો.

Ans
✗ 1. $\frac{5}{4}$
✗ 2. $\frac{7}{4}$
✗ 3. $\frac{3}{2}$
✓ 4. 1

Question Type : **MCQ**
Question ID : **4410091345806**
Option 1 ID : **4410095315561**
Option 2 ID : **4410095315563**
Option 3 ID : **4410095315562**
Option 4 ID : **4410095315560**
Status : **Answered**
Chosen Option : **4**

WEBSANKUL

Downloaded from websankul.com

Q.58 જો $6^{2x+4} = 3^{3x} \times 2^{x+8}$ હોય, તો x નું મૂલ્ય શોધો.

Ans
✗ 1. -4
✓ 2. 4
✗ 3. $-\frac{1}{3}$
✗ 4. $\frac{1}{3}$

Question Type : **MCQ**
Question ID : **4410091336910**
Option 1 ID : **4410095279464**
Option 2 ID : **4410095279463**
Option 3 ID : **4410095279466**
Option 4 ID : **4410095279465**
Status : **Answered**
Chosen Option : **2**

Q.59 એવી મોટામાં મોટી સંખ્યા શોધો જેના વડે 60, 84 અને 108 ને નિ:શેષ ભાગી શકાય.

Ans
✗ 1. 24
✗ 2. 6
✗ 3. 18
✓ 4. 12

Question Type : **MCQ**
Question ID : **4410091346242**
Option 1 ID : **4410095317281**
Option 2 ID : **4410095317278**
Option 3 ID : **4410095317280**
Option 4 ID : **4410095317279**
Status : **Answered**
Chosen Option : **4**

Q.60 નીચે આપેલા સુરેખ સમીકરણોનો ઉકેલ મેળવો
$2x-3y+z=12$, $x+3y-z=18$ અને $-x+3y+z=24$.

Ans
✗ 1. $x=10, y=-7, z=-13$
✗ 2. $x=-10, y=-7, z=13$
✗ 3. $x=-10, y=7, z=13$
✓ 4. $x=10, y=7, z=13$

Question Type : **MCQ**
Question ID : **4410091245364**
Option 1 ID : **4410094914737**
Option 2 ID : **4410094914739**
Option 3 ID : **4410094914736**
Option 4 ID : **4410094914738**
Status : **Answered**
Chosen Option : **4**

WEBSANKUL

Downloaded from websankul.com

Q.61 ભારતીય બંધારણના નીચેનામાંથી કયા સુધારાને "મીની-કોન્સ્ટિટ્યુશન" (Mini Constitution) તરીકે ઓળખવામાં આવે છે?

Ans
✗ 1. 24મો સુધારો
✗ 2. 28મો સુધારો
✓ 3. 42મો સુધારો
✗ 4. 36મો સુધારો

Question Type : **MCQ**
Question ID : **4410091406582**
Option 1 ID : **4410095555474**
Option 2 ID : **4410095555475**
Option 3 ID : **4410095555477**
Option 4 ID : **4410095555476**
Status : **Answered**
Chosen Option : **3**

Q.62 કયા અનુચ્છેદ હેઠળ રાષ્ટ્રપતિ મંત્રીપરિષદ (Council of Ministers)ની સલાહ અનુસાર કાર્ય કરે છે?

Ans
✗ 1. અનુચ્છેદ 78
✗ 2. અનુચ્છેદ 80
✓ 3. અનુચ્છેદ 74
✗ 4. અનુચ્છેદ 52

Question Type : **MCQ**
Question ID : **4410092181555**
Option 1 ID : **4410098584516**
Option 2 ID : **4410098584517**
Option 3 ID : **4410098584515**
Option 4 ID : **4410098584514**
Status : **Answered**
Chosen Option : **3**

Q.63 નીચેનામાંથી કઈ બાબત 73મા બંધારણીય સુધારા અધિનિયમ, 1992 સાથે સંકળાયેલી છે?

Ans
✗ 1. મૂળભૂત અધિકારો (Fundamental Rights)
✗ 2. માલ અને સેવા કર (Goods and Services Tax)
✗ 3. શહેરી સ્થાનિક સરકારો (Urban local governments)
✓ 4. પંચાયતી રાજ સંસ્થાઓ (Panchayati Raj Institutions)

Question Type : **MCQ**
Question ID : **4410091889251**
Option 1 ID : **4410097443375**
Option 2 ID : **4410097443376**
Option 3 ID : **4410097443373**
Option 4 ID : **4410097443374**
Status : **Answered**
Chosen Option : **4**

WEBSANKUL
Downloaded from websankul.com

Q.64 બંધારણનો કયો અનુચ્છેદ રાષ્ટ્રપતિ પદ ખાલી હોવાના કિસ્સામાં ઉપરાષ્ટ્રપતિને રાષ્ટ્રપતિ તરીકે કાર્ય કરવાની મંજૂરી આપે છે?

Ans
✗ 1. અનુચ્છેદ 67
✓ 2. અનુચ્છેદ 65
✗ 3. અનુચ્છેદ 62
✗ 4. અનુચ્છેદ 69

Question Type : **MCQ**
Question ID : **4410091405062**
Option 1 ID : **4410095549430**
Option 2 ID : **4410095549429**
Option 3 ID : **4410095549428**
Option 4 ID : **4410095549431**
Status : **Not Answered**
Chosen Option : **--**

Q.65 કયા બંધારણીય સુધારા દ્વારા ભારતીય બંધારણમાં પક્ષપલટા વિરોધી કાયદો ઉમેરવામાં આવ્યો હતો?

Ans
✗ 1. 61મો સુધારો
✗ 2. 73મો સુધારો
✓ 3. 52મો સુધારો
✗ 4. 86મો સુધારો

Question Type : **MCQ**
Question ID : **4410091516620**
Option 1 ID : **4410095989882**
Option 2 ID : **4410095989883**
Option 3 ID : **4410095989881**
Option 4 ID : **4410095989884**
Status : **Not Answered**
Chosen Option : **--**

Q.66 ભારતીય બંધારણની જોગવાઈઓ મુજબ ન્યાયિક સમીક્ષા (Judicial Review) ની સત્તા ન્યાયતંત્રને શું કરવાની મંજૂરી આપે છે?

Ans
✗ 1. ભારતમાં રાજ્યો વચ્ચેના વિવાદોનો ઉકેલ લાવવાની
✓ 2. બંધારણનું ઉલ્લંઘન કરતા કાયદાઓને રદબાતલ (Strike down) કરવાની
✗ 3. નીચલી અદાલતોમાં ટ્રાયલ્સ ચલાવવાની
✗ 4. અદાલતો માટે ફોજદારી કાયદાઓનું અર્થઘટન કરવાની

Question Type : **MCQ**
Question ID : **4410092075459**
Option 1 ID : **4410098170610**
Option 2 ID : **4410098170613**
Option 3 ID : **4410098170611**
Option 4 ID : **4410098170612**
Status : **Answered**
Chosen Option : **2**

WEBSANKUL

Downloaded from websankul.com

Q.67 ભારતના બંધારણનો કયો અનુચ્છેદ એવી જોગવાઈ કરે છે કે, રાષ્ટ્રપતિને તેમના કાર્યોમાં સહાય અને સલાહ (aid and advise) આપવા માટે વડા પ્રધાનના વડાપણ હેઠળ એક મંત્રીપરિષદ (Council of Ministers) રહશે?

Ans
✗ 1. અનુચ્છેદ 75
✓ 2. અનુચ્છેદ 74
✗ 3. અનુચ્છેદ 52
✗ 4. અનુચ્છેદ 53

Question Type : **MCQ**
Question ID : **4410092358885**
Option 1 ID : **4410099276593**
Option 2 ID : **4410099276592**
Option 3 ID : **4410099276590**
Option 4 ID : **4410099276591**
Status : **Answered**
Chosen Option : **2**

Q.68 કઈ સત્તા સર્વોચ્ચ અદાલતને બંધારણનું ઉલ્લંઘન કરતા કાયદાઓને રદ કરવાની મંજૂરી આપે છે?

Ans
✓ 1. ન્યાયિક સમીક્ષા (Judicial Review)
✗ 2. રીટ અધિકારક્ષેત્ર (Writ Jurisdiction)
✗ 3. ન્યાયિક સક્રિયતા (Judicial Activism)
✗ 4. સલાહકારી સત્તા (Advisory Power)

Question Type : **MCQ**
Question ID : **4410091418113**
Option 1 ID : **4410095601373**
Option 2 ID : **4410095601375**
Option 3 ID : **4410095601374**
Option 4 ID : **4410095601376**
Status : **Answered**
Chosen Option : **1**

Q.69 બંધારણના માર્ગદર્શક સિદ્ધાંતોનો કયો અનુચ્છેદ ગ્રામ પંચાયતોના ગઠનને પ્રોત્સાહન આપે છે?

Ans
✗ 1. અનુચ્છેદ 45
✗ 2. અનુચ્છેદ 38
✓ 3. અનુચ્છેદ 40
✗ 4. અનુચ્છેદ 42

Question Type : **MCQ**
Question ID : **4410091416192**
Option 1 ID : **4410095593472**
Option 2 ID : **4410095593469**
Option 3 ID : **4410095593470**
Option 4 ID : **4410095593471**
Status : **Answered**
Chosen Option : **3**

WEBSANKUL®

Downloaded from websankul.com

Q.70 મૂળભૂત અધિકારોના અમલ માટે રીટ (આજ્ઞાપત્ર) બહાર પાડવાની સત્તા સર્વોચ્ચ અદાલતને કયો અનુચ્છેદ આપે છે?

Ans
✗ 1. અનુચ્છેદ 356
✗ 2. અનુચ્છેદ 226
✓ 3. અનુચ્છેદ 32
✗ 4. અનુચ્છેદ 370

Question Type : **MCQ**
Question ID : **4410091418120**
Option 1 ID : **4410095601404**
Option 2 ID : **4410095601402**
Option 3 ID : **4410095601401**
Option 4 ID : **4410095601403**
Status : **Answered**
Chosen Option : **3**

Q.71 કેન્દ્રીય બજેટ 2026-27 મુજબ, ભારતની રાજકોષીય ખાધ (Fiscal Deficit) GDP ના કેટલા ટકા અંદાજવામાં આવી છે?

Ans
✓ 1. 4.3%
✗ 2. 8.2%
✗ 3. 7.0%
✗ 4. 6.5%

Question Type : **MCQ**
Question ID : **4410092075388**
Option 1 ID : **4410098170328**
Option 2 ID : **4410098170329**
Option 3 ID : **4410098170327**
Option 4 ID : **4410098170326**
Status : **Not Answered**
Chosen Option : **--**

Q.72 ઓગસ્ટ 2026 ના અપડેટ મુજબ, ગુણવત્તાયુક્ત માળખાગત સુવિધાઓ સાથે ઔદ્યોગિક ઉદ્યાનો વિકસાવવા માટે ફેઝ-1 ના પ્રથમ રાઉન્ડમાં કઈ યોજનાને ગુજરાત તરફથી છ દરખાસ્તો મળી હતી?

Ans
✗ 1. પીએમ ગતિશક્તિ નેશનલ માસ્ટર પ્લાન (PM GatiShakti National Master Plan)
✗ 2. મેક ઈન ઈન્ડિયા પ્રોગ્રામ (Make in India Programme)
✓ 3. ભારત ઔદ્યોગિક વિકાસ યોજના (BHAVYA) (Bharat Audyogik Vikas Yojana (BHAVYA))
✗ 4. રાષ્ટ્રીય ઔદ્યોગિક કોરિડોર ડેવલપમેન્ટ પ્રોગ્રામ (National Industrial Corridor Development Programme)

Question Type : **MCQ**
Question ID : **4410092570221**
Option 1 ID : **44100910103912**
Option 2 ID : **44100910103913**
Option 3 ID : **44100910103914**
Option 4 ID : **44100910103911**
Status : **Answered**
Chosen Option : **3**

WEBSANKUL

Downloaded from websankul.com

Q.73 સસ્ટેનેબલ ડેવલપમેન્ટ ગોલ્સ – નેશનલ ઇન્ડિકેટર ફ્રેમવર્ક પ્રોગ્રેસ રિપોર્ટ, 2026 મુજબ, વર્ષ 2022-24 દરમિયાન ભારતનો માતૃ મૃત્યુ દર (Maternal Mortality Ratio) ઘટીને ક્યા સ્તરે આવ્યો છે?

Ans
✗ 1. દર 1,00,000 જીવંત જન્મો દીઠ 103
✗ 2. દર 1,00,000 જીવંત જન્મો દીઠ 72
✗ 3. દર 1,00,000 જીવંત જન્મો દીઠ 97
✓ 4. દર 1,00,000 જીવંત જન્મો દીઠ 87

Question Type : **MCQ**
Question ID : **4410092577702**
Option 1 ID : **44100910133563**
Option 2 ID : **44100910133560**
Option 3 ID : **44100910133561**
Option 4 ID : **44100910133562**
Status : **Answered**
Chosen Option : **2**

Q.74 2026 માં ઈન્ડિયા એરક્રાફ્ટ લીઝિંગ એન્ડ ફાઇનાન્સિંગ સમિટ 2.0 ક્યાં યોજાઈ હતી?

Ans
✗ 1. સુરત
✓ 2. ગાંધીનગર
✗ 3. વડોદરા
✗ 4. અમદાવાદ

Question Type : **MCQ**
Question ID : **4410092075393**
Option 1 ID : **4410098170347**
Option 2 ID : **4410098170349**
Option 3 ID : **4410098170346**
Option 4 ID : **4410098170348**
Status : **Answered**
Chosen Option : **3**

Q.75 ઓગસ્ટ 2026 માં આયોજિત ત્રણ દિવસીય રાષ્ટ્રીય રમતગમત દિવસની ઝુંબેશનો વિષય (થીમ) શું હતો?

Ans
✗ 1. ખેલેગા યુવા, બઢેગા ભારત (Khelega Yuva, Badhega Bharat)
✓ 2. ખેલેગા ભારત, જીતેગા ભારત (Khelega Bharat, Jeetega Bharat)
✗ 3. સ્પોર્ટ્સ ફોર ઓલ, ફિટનેસ ફોર ઓલ (Sports for All, Fitness for All)
✗ 4. ખેલ સે વિકાસ, ભારત કા પ્રયાસ (Khel Se Vikas, Bharat Ka Prayas)

Question Type : **MCQ**
Question ID : **4410092572528**
Option 1 ID : **44100910113065**
Option 2 ID : **44100910113063**
Option 3 ID : **44100910113062**
Option 4 ID : **44100910113064**
Status : **Answered**
Chosen Option : **4**

WEBSANKUL

Downloaded from websankul.com

Q.76 મિલાનો–કોર્ટિના વિન્ટર ઓલિમ્પિક્સ 2026 માં કઈ નવી રમતનું પ્રથમ વખત પ્રદર્શન થયું હતું?

Ans
✗ 1. ચેસ

✓ 2. સ્કી માઉન્ટેનિયરિંગ

✗ 3. કબડ્ડી

✗ 4. ક્રિકેટ

Question Type : **MCQ**
Question ID : **4410092572331**
Option 1 ID : **44100910112277**
Option 2 ID : **44100910112276**
Option 3 ID : **44100910112275**
Option 4 ID : **44100910112274**
Status : **Answered**
Chosen Option : **2**

Q.77 વર્ષ 2026માં ગુજરાતમાં શરૂ કરવામાં આવેલી 'અટલવાડી યોજના' નો મુખ્ય ઉદ્દેશ્ય શું છે?

Ans
✗ 1. શહેરી વિકાસને પ્રોત્સાહન આપવા માટે

✗ 2.
શહેરોમાં પ્રવાસનને વેગ આપવા માટે

✓ 3. ગ્રામવાસીઓની સુખાકારીમાં સુધારો કરવા માટે

✗ 4.
ઔદ્યોગિક વિકાસ વધારવા માટે

Question Type : **MCQ**
Question ID : **4410092075395**
Option 1 ID : **4410098170356**
Option 2 ID : **4410098170357**
Option 3 ID : **4410098170354**
Option 4 ID : **4410098170355**
Status : **Answered**
Chosen Option : **3**

Q.78 વર્લ્ડ ઈન્ટેલેક્ચ્યુઅલ ફાઉન્ડેશન (WIF) દ્વારા જાહેર કરાયેલા રિસ્પોન્સિબલ નેશન્સ ઈન્ડેક્સ (RNI) 2026 મુજબ, 154 દેશોમાંથી કયો દેશ પ્રથમ ક્રમે આવ્યો છે?

Ans
✓ 1. સિંગાપોર

✗ 2. ઓસ્ટ્રેલિયા

✗ 3. કેનેડા

✗ 4. જર્મની

Question Type : **MCQ**
Question ID : **4410092075386**
Option 1 ID : **4410098170320**
Option 2 ID : **4410098170318**
Option 3 ID : **4410098170321**
Option 4 ID : **4410098170319**
Status : **Answered**
Chosen Option : **1**

WEBSANKUL

Downloaded from websankul.com

Q.79 વિશ્વ વ્યાપાર સંગઠન (WTO) ની 14મી મંત્રીસ્તરીય પરિષદ (MC14) વર્ષ 2026 માં યોજાઈ હતી. આ પરિષદ કયા શહેરમાં આયોજિત કરવામાં આવી હતી?

Ans
✗ 1. નૈરોબી, કેન્યા
✓ 2. યાઉન્ડે, કેમરૂન
✗ 3. અબુ ધાબી, સંયુક્ત આરબ અમીરાત
✗ 4. જીનીવા, સ્વિટ્ઝર્લેન્ડ

Question Type : **MCQ**
Question ID : **4410092572325**
Option 1 ID : **44100910112253**
Option 2 ID : **44100910112251**
Option 3 ID : **44100910112252**
Option 4 ID : **44100910112250**
Status : **Answered**
Chosen Option : **3**

Q.80 SDG - નેશનલ ઇન્ડિકેટર ફ્રેમવર્ક પ્રોગ્રેસ રિપોર્ટ, 2026 મુજબ, 2022-24 દરમિયાન ભારતનો જન્મ સમયનો લિંગ ગુણોત્તર (દર 1,000 જીવિત પુરુષ જન્મો દીઠ મહિલાઓ) કેટલો હતો?

Ans
✗ 1. 924
✗ 2. 896
✗ 3. 907
✓ 4. 918

Question Type : **MCQ**
Question ID : **4410092577703**
Option 1 ID : **44100910133567**
Option 2 ID : **44100910133565**
Option 3 ID : **44100910133566**
Option 4 ID : **44100910133564**
Status : **Answered**
Chosen Option : **4**

WEBSANKUL

Downloaded from websankul.com

Comprehension:

નીચે આપેલા ગદ્યઅંશ વાંચી નીચે આપેલા પ્રશ્નોના જવાબ આપો.

માનવ જીવનમાં આરોગ્ય અને ચિકિત્સા (Health and Medicine)નું સ્થાન સર્વોપરી છે. પ્રાચીન સમયથી લઈને આધુનિક યુગ સુધી, તંદુરસ્ત શરીર અને મન એ જ માનવીની સાચી મૂડી રહ્યા છે. આજના ઝડપી અને તણાવપૂર્ણ વાતાવરણમાં શારીરિક સ્વાસ્થ્યની સાથેસાથે માનસિક શાંતિ જાળવવી પણ એટલી જ આવશ્યક બની ગઈ છે. આહાર, નિદ્રા અને વ્યાયામ એ તંદુરસ્ત જીવનના મુખ્ય પાયા છે. જો આપણે વિશ્વ આરોગ્ય સંસ્થા (WHO)ની વાત માનીએ, તો માત્ર રોગ કે માંદગીનો અભાવ એટલે આરોગ્ય નહીં, પરંતુ સંપૂર્ણ શારીરિક, માનસિક અને સામાજિક રીતે સ્વસ્થ હોવું એ જ સાચું સ્વાસ્થ્ય છે. આરોગ્યની જાળવણીમાં વ્યક્તિની જીવનશૈલી જેટલી મહત્ત્વની છે, તેટલી જ સમયસર મળતી તબીબી સારવાર પણ જરૂરી છે. બીજી તરફ, ચિકિત્સા વિજ્ઞાન (Medical Science) એ માનવજાત માટે એક વરદાન સાબિત થયું છે. અદ્યતન ટેકનોલોજી, રોબોટિક સર્જરી, જીવલેણ રોગોની રસીઓ અને નવા સંશોધનોના કારણે સરેરાશ આયુષ્ય મર્યાદામાં નોંધપાત્ર વધારો થયો છે. ચિકિત્સા ક્ષેત્રે થયેલી પ્રગતિને લીધે આજે અસાધ્ય ગણાતા રોગો પર પણ નિયંત્રણ મેળવી શકાયું છે. આરોગ્ય અને ચિકિત્સાનો મૂળ ઉદ્દેશ્ય માત્ર રોગોની સારવાર કરવાનો નથી, પરંતુ માનવ જીવનની ગુણવત્તા (Quality of Life) સુધારવાનો છે. નિયમિત મેડિકલ ચેકઅપ અને જાગૃતિ દ્વારા આપણે ગંભીર બીમારીઓથી બચી શકીએ છીએ. "પહેલું સુખ તે જાતે નર્યા"ની ઉક્તિને સાર્થક કરવા માટે, આપણે સૌએ સ્વસ્થ જીવનશૈલી અપનાવીને ચિકિત્સા ક્ષેત્રની સુવિધાઓનો યોગ્ય ઉપયોગ કરવો જોઈએ, જેથી એક સમૃદ્ધ અને તંદુરસ્ત સમાજનું નિર્માણ થઈ શકે.

SubQuestion No : 81

Q.81 આપેલા શબ્દનો વિરુદ્ધાર્થી શબ્દ આપો: 'પ્રાચીન'

Ans

✗ 1. જૂનું

✓ 2. આધુનિક

✗ 3. પૌરાણિક

✗ 4. પુરાતન

Question Type : **MCQ**
Question ID : **4410092344540**
Option 1 ID : **4410099219973**
Option 2 ID : **4410099219971**
Option 3 ID : **4410099219970**
Option 4 ID : **4410099219972**
Status : **Answered**
Chosen Option : **2**

WEBSANKUL ®

Downloaded from websankul.com

Comprehension:

નીચે આપેલા ગદ્યઅંશ વાંચી નીચે આપેલા પ્રશ્નોના જવાબ આપો.

માનવ જીવનમાં આરોગ્ય અને ચિકિત્સા (Health and Medicine)નું સ્થાન સર્વોપરી છે. પ્રાચીન સમયથી લઈને આધુનિક યુગ સુધી, તંદુરસ્ત શરીર અને મન એ જ માનવીની સાચી મૂડી રહ્યા છે. આજના ઝડપી અને તણાવપૂર્ણ વાતાવરણમાં શારીરિક સ્વાસ્થ્યની સાથેસાથે માનસિક શાંતિ જાળવવી પણ એટલી જ આવશ્યક બની ગઈ છે. આહાર, નિદ્રા અને વ્યાયામ એ તંદુરસ્ત જીવનના મુખ્ય પાયા છે. જો આપણે વિશ્વ આરોગ્ય સંસ્થા (WHO)ની વાત માનીએ, તો માત્ર રોગ કે માંદગીનો અભાવ એટલે આરોગ્ય નહીં, પરંતુ સંપૂર્ણ શારીરિક, માનસિક અને સામાજિક રીતે સ્વસ્થ હોવું એ જ સાચું સ્વાસ્થ્ય છે. આરોગ્યની જાળવણીમાં વ્યક્તિની જીવનશૈલી જેટલી મહત્ત્વની છે, તેટલી જ સમયસર મળતી તબીબી સારવાર પણ જરૂરી છે. બીજી તરફ, ચિકિત્સા વિજ્ઞાન (Medical Science) એ માનવજાત માટે એક વરદાન સાબિત થયું છે. અદ્યતન ટેકનોલોજી, રોબોટિક સર્જરી, જીવલેણ રોગોની રસીઓ અને નવા સંશોધનોના કારણે સરેરાશ આયુષ્ય મર્યાદામાં નોંધપાત્ર વધારો થયો છે. ચિકિત્સા ક્ષેત્રે થયેલી પ્રગતિને લીધે આજે અસાધ્ય ગણાતા રોગો પર પણ નિયંત્રણ મેળવી શકાયું છે. આરોગ્ય અને ચિકિત્સાનો મૂળ ઉદ્દેશ્ય માત્ર રોગોની સારવાર કરવાનો નથી, પરંતુ માનવ જીવનની ગુણવત્તા (Quality of Life) સુધારવાનો છે. નિયમિત મેડિકલ ચેકઅપ અને જાગૃતિ દ્વારા આપણે ગંભીર બીમારીઓથી બચી શકીએ છીએ. "પહેલું સુખ તે જાતે નર્યા"ની ઉક્તિને સાર્થક કરવા માટે, આપણે સૌએ સ્વસ્થ જીવનશૈલી અપનાવીને ચિકિત્સા ક્ષેત્રની સુવિધાઓનો યોગ્ય ઉપયોગ કરવો જોઈએ, જેથી એક સમૃદ્ધ અને તંદુરસ્ત સમાજનું નિર્માણ થઈ શકે.

SubQuestion No : 82

Q.82 વિશ્વ આરોગ્ય સંસ્થા (WHO) અનુસાર સાચું સ્વાસ્થ્ય એટલે શું?

Ans

✔ 1. સંપૂર્ણ શારીરિક, માનસિક અને સામાજિક સ્વસ્થતા મેળવવી.

✘ 2. નિયમિત સારવાર ન કરાવવી અને રોગોથી મુક્તિ મેળવવી.

✘ 3. ઊંચું શિક્ષણ, સામાજિક, આર્થિક અને રાજકીય સમૃદ્ધિ મેળવવી.

✘ 4. લાંબું આયુષ્ય અને સુખી જીવન મેળવવા પ્રયત્નો ન કરવા.

Question Type : **MCQ**
Question ID : **4410092344542**
Option 1 ID : **4410099219981**
Option 2 ID : **4410099219980**
Option 3 ID : **4410099219978**
Option 4 ID : **4410099219979**
Status : **Answered**
Chosen Option : **1**

WEBSANKUL ®

Downloaded from websankul.com

Comprehension:

નીચે આપેલા ગદ્યઅંશ વાંચી નીચે આપેલા પ્રશ્નોના જવાબ આપો.

માનવ જીવનમાં આરોગ્ય અને ચિકિત્સા (Health and Medicine)નું સ્થાન સર્વોપરી છે. પ્રાચીન સમયથી લઈને આધુનિક યુગ સુધી, તંદુરસ્ત શરીર અને મન એ જ માનવીની સાચી મૂડી રહ્યા છે. આજના ઝડપી અને તણાવપૂર્ણ વાતાવરણમાં શારીરિક સ્વાસ્થ્યની સાથેસાથે માનસિક શાંતિ જાળવવી પણ એટલી જ આવશ્યક બની ગઈ છે. આહાર, નિદ્રા અને વ્યાયામ એ તંદુરસ્ત જીવનના મુખ્ય પાયા છે. જો આપણે વિશ્વ આરોગ્ય સંસ્થા (WHO)ની વાત માનીએ, તો માત્ર રોગ કે માંદગીનો અભાવ એટલે આરોગ્ય નહીં, પરંતુ સંપૂર્ણ શારીરિક, માનસિક અને સામાજિક રીતે સ્વસ્થ હોવું એ જ સાચું સ્વાસ્થ્ય છે. આરોગ્યની જાળવણીમાં વ્યક્તિની જીવનશૈલી જેટલી મહત્ત્વની છે, તેટલી જ સમયસર મળતી તબીબી સારવાર પણ જરૂરી છે. બીજી તરફ, ચિકિત્સા વિજ્ઞાન (Medical Science) એ માનવજાત માટે એક વરદાન સાબિત થયું છે. અદ્યતન ટેકનોલોજી, રોબોટિક સર્જરી, જીવલેણ રોગોની રસીઓ અને નવા સંશોધનોના કારણે સરેરાશ આયુષ્ય મર્યાદામાં નોંધપાત્ર વધારો થયો છે. ચિકિત્સા ક્ષેત્રે થયેલી પ્રગતિને લીધે આજે અસાધ્ય ગણાતા રોગો પર પણ નિયંત્રણ મેળવી શકાયું છે. આરોગ્ય અને ચિકિત્સાનો મૂળ ઉદ્દેશ્ય માત્ર રોગોની સારવાર કરવાનો નથી, પરંતુ માનવ જીવનની ગુણવત્તા (Quality of Life) સુધારવાનો છે. નિયમિત મેડિકલ ચેકઅપ અને જાગૃતિ દ્વારા આપણે ગંભીર બીમારીઓથી બચી શકીએ છીએ. "પહેલું સુખ તે જાતે નર્યા"ની ઉક્તિને સાર્થક કરવા માટે, આપણે સૌએ સ્વસ્થ જીવનશૈલી અપનાવીને ચિકિત્સા ક્ષેત્રની સુવિધાઓનો યોગ્ય ઉપયોગ કરવો જોઈએ, જેથી એક સમૃદ્ધ અને તંદુરસ્ત સમાજનું નિર્માણ થઈ શકે.

SubQuestion No : 83

Q.83 આપેલા ગદ્યઅંશ માટે યોગ્ય શીર્ષક પસંદ કરો.

Ans

✗ 1. પ્રાચીન સંસ્કૃતિનો ઈતિહાસ : જીવનનો ઈતિહાસ

✓ 2. આરોગ્ય અને ચિકિત્સા : જીવનની સાચી મૂડી

✗ 3. આધુનિક ટેકનોલોજી અને કોમ્પ્યુટર : જીવનની મૂડી

✗ 4. વ્યાયામ અને રમતગમતનું મહત્વ : જીવનની મૂડી

Question Type : **MCQ**
Question ID : **4410092344543**
Option 1 ID : **4410099219985**
Option 2 ID : **4410099219984**
Option 3 ID : **4410099219982**
Option 4 ID : **4410099219983**
Status : **Answered**
Chosen Option : **2**

WEBSANKUL ®

Downloaded from websankul.com

Comprehension:

નીચે આપેલા ગદ્યઅંશ વાંચી નીચે આપેલા પ્રશ્નોના જવાબ આપો.

માનવ જીવનમાં આરોગ્ય અને ચિકિત્સા (Health and Medicine)નું સ્થાન સર્વોપરી છે. પ્રાચીન સમયથી લઈને આધુનિક યુગ સુધી, તંદુરસ્ત શરીર અને મન એ જ માનવીની સાચી મૂડી રહ્યા છે. આજના ઝડપી અને તણાવપૂર્ણ વાતાવરણમાં શારીરિક સ્વાસ્થ્યની સાથેસાથે માનસિક શાંતિ જાળવવી પણ એટલી જ આવશ્યક બની ગઈ છે. આહાર, નિદ્રા અને વ્યાયામ એ તંદુરસ્ત જીવનના મુખ્ય પાયા છે. જો આપણે વિશ્વ આરોગ્ય સંસ્થા (WHO)ની વાત માનીએ, તો માત્ર રોગ કે માંદગીનો અભાવ એટલે આરોગ્ય નહીં, પરંતુ સંપૂર્ણ શારીરિક, માનસિક અને સામાજિક રીતે સ્વસ્થ હોવું એ જ સાચું સ્વાસ્થ્ય છે. આરોગ્યની જાળવણીમાં વ્યક્તિની જીવનશૈલી જેટલી મહત્ત્વની છે, તેટલી જ સમયસર મળતી તબીબી સારવાર પણ જરૂરી છે. બીજી તરફ, ચિકિત્સા વિજ્ઞાન (Medical Science) એ માનવજાત માટે એક વરદાન સાબિત થયું છે. અદ્યતન ટેકનોલોજી, રોબોટિક સર્જરી, જીવલેણ રોગોની રસીઓ અને નવા સંશોધનોના કારણે સરેરાશ આયુષ્ય મર્યાદામાં નોંધપાત્ર વધારો થયો છે. ચિકિત્સા ક્ષેત્રે થયેલી પ્રગતિને લીધે આજે અસાધ્ય ગણાતા રોગો પર પણ નિયંત્રણ મેળવી શકાયું છે. આરોગ્ય અને ચિકિત્સાનો મૂળ ઉદ્દેશ્ય માત્ર રોગોની સારવાર કરવાનો નથી, પરંતુ માનવ જીવનની ગુણવત્તા (Quality of Life) સુધારવાનો છે. નિયમિત મેડિકલ ચેકઅપ અને જાગૃતિ દ્વારા આપણે ગંભીર બીમારીઓથી બચી શકીએ છીએ. "પહેલું સુખ તે જાતે નર્યા"ની ઉક્તિને સાર્થક કરવા માટે, આપણે સૌએ સ્વસ્થ જીવનશૈલી અપનાવીને ચિકિત્સા ક્ષેત્રની સુવિધાઓનો યોગ્ય ઉપયોગ કરવો જોઈએ, જેથી એક સમૃદ્ધ અને તંદુરસ્ત સમાજનું નિર્માણ થઈ શકે.

SubQuestion No : 84

Q.84 આપેલા શબ્દનો સમાનાર્થી શબ્દ આપો: 'આહાર'

Ans

✗ 1. ઉપવાસ

✓ 2. ખોરાક

✗ 3. આકાશ

✗ 4. આરામ

Question Type : **MCQ**
Question ID : **4410092344539**
Option 1 ID : **4410099219969**
Option 2 ID : **4410099219966**
Option 3 ID : **4410099219967**
Option 4 ID : **4410099219968**
Status : **Answered**
Chosen Option : **2**

WEBSANKUL ®

Downloaded from websankul.com

Comprehension:

નીચે આપેલા ગદ્યઅંશ વાંચી નીચે આપેલા પ્રશ્નોના જવાબ આપો.

માનવ જીવનમાં આરોગ્ય અને ચિકિત્સા (Health and Medicine)નું સ્થાન સર્વોપરી છે. પ્રાચીન સમયથી લઈને આધુનિક યુગ સુધી, તંદુરસ્ત શરીર અને મન એ જ માનવીની સાચી મૂડી રહ્યા છે. આજના ઝડપી અને તણાવપૂર્ણ વાતાવરણમાં શારીરિક સ્વાસ્થ્યની સાથેસાથે માનસિક શાંતિ જાળવવી પણ એટલી જ આવશ્યક બની ગઈ છે. આહાર, નિદ્રા અને વ્યાયામ એ તંદુરસ્ત જીવનના મુખ્ય પાયા છે. જો આપણે વિશ્વ આરોગ્ય સંસ્થા (WHO)ની વાત માનીએ, તો માત્ર રોગ કે માંદગીનો અભાવ એટલે આરોગ્ય નહીં, પરંતુ સંપૂર્ણ શારીરિક, માનસિક અને સામાજિક રીતે સ્વસ્થ હોવું એ જ સાચું સ્વાસ્થ્ય છે. આરોગ્યની જાળવણીમાં વ્યક્તિની જીવનશૈલી જેટલી મહત્ત્વની છે, તેટલી જ સમયસર મળતી તબીબી સારવાર પણ જરૂરી છે. બીજી તરફ, ચિકિત્સા વિજ્ઞાન (Medical Science) એ માનવજાત માટે એક વરદાન સાબિત થયું છે. અદ્યતન ટેકનોલોજી, રોબોટિક સર્જરી, જીવલેણ રોગોની રસીઓ અને નવા સંશોધનોના કારણે સરેરાશ આયુષ્ય મર્યાદામાં નોંધપાત્ર વધારો થયો છે. ચિકિત્સા ક્ષેત્રે થયેલી પ્રગતિને લીધે આજે અસાધ્ય ગણાતા રોગો પર પણ નિયંત્રણ મેળવી શકાયું છે. આરોગ્ય અને ચિકિત્સાનો મૂળ ઉદ્દેશ્ય માત્ર રોગોની સારવાર કરવાનો નથી, પરંતુ માનવ જીવનની ગુણવત્તા (Quality of Life) સુધારવાનો છે. નિયમિત મેડિકલ ચેકઅપ અને જાગૃતિ દ્વારા આપણે ગંભીર બીમારીઓથી બચી શકીએ છીએ. "પહેલું સુખ તે જાતે નર્યા"ની ઉક્તિને સાર્થક કરવા માટે, આપણે સૌએ સ્વસ્થ જીવનશૈલી અપનાવીને ચિકિત્સા ક્ષેત્રની સુવિધાઓનો યોગ્ય ઉપયોગ કરવો જોઈએ, જેથી એક સમૃદ્ધ અને તંદુરસ્ત સમાજનું નિર્માણ થઈ શકે.

SubQuestion No : 85

Q.85 ગદ્યઅંશ મુજબ માનવીની સાચી મૂડી શી છે?

Ans

✗ 1. ઉચ્ચ શિક્ષણ અને પદ

✓ 2. તંદુરસ્ત શરીર અને મન

✗ 3. ધન અને સંપત્તિ

✗ 4. સુખ-સગવડ અને વૈભવ

Question Type : **MCQ**
Question ID : **4410092344541**
Option 1 ID : **4410099219976**
Option 2 ID : **4410099219975**
Option 3 ID : **4410099219974**
Option 4 ID : **4410099219977**
Status : **Answered**
Chosen Option : **2**

WEBSANKUL ®

Downloaded from websankul.com

Comprehension:

Read the passage and choose the correct answer to the questions based on it.

Organic farming is a holistic agricultural system that prioritizes ecological balance over high-intensity yields. Unlike conventional farming, which relies heavily on synthetic fertilizers and chemical pesticides, organic methods utilize natural processes to maintain soil fertility. Farmers employ techniques such as crop rotation, green manure, and biological pest control to cultivate crops. This approach views farm as a living ecosystem where the health of the soil, plants, and humans is inextricably linked.
While organic produce often commands a higher price due to labor-intensive practices and lower initial yields, proponents argue that the long-term benefits are invaluable. By avoiding toxic runoff, organic farming preserves local biodiversity and prevents the degradation of groundwater. However, as the global population surges, a fierce debate continues regarding whether organic agriculture can achieve the scale necessary to ensure global food security. Despite this, it remains a vital alternative for those seeking a sustainable harmony between technology and the environment.

SubQuestion No : 86

Q.86 What can be inferred about the "fierce debate" mentioned in the passage?

Ans

✔ 1. Organic farming is less efficient at mass-producing food than usual methods.

✘ 2. Everyone agrees that organic farming is the only way to feed the world.

✘ 3. Conventional farming has no negative impact on groundwater at all.

✘ 4. Global food security is no longer a concern for modern agriculture scientists.

Question Type : **MCQ**
Question ID : **4410091699022**
Option 1 ID : **4410096701690**
Option 2 ID : **4410096701692**
Option 3 ID : **4410096701689**
Option 4 ID : **4410096701691**
Status : **Answered**
Chosen Option : **2**

WEBSANKUL ®

Downloaded from websankul.com

Comprehension:

Read the passage and choose the correct answer to the questions based on it.

Organic farming is a holistic agricultural system that prioritizes ecological balance over high-intensity yields. Unlike conventional farming, which relies heavily on synthetic fertilizers and chemical pesticides, organic methods utilize natural processes to maintain soil fertility. Farmers employ techniques such as crop rotation, green manure, and biological pest control to cultivate crops. This approach views farm as a living ecosystem where the health of the soil, plants, and humans is inextricably linked.
While organic produce often commands a higher price due to labor-intensive practices and lower initial yields, proponents argue that the long-term benefits are invaluable. By avoiding toxic runoff, organic farming preserves local biodiversity and prevents the degradation of groundwater. However, as the global population surges, a fierce debate continues regarding whether organic agriculture can achieve the scale necessary to ensure global food security. Despite this, it remains a vital alternative for those seeking a sustainable harmony between technology and the environment.

SubQuestion No : 87

Q.87 Which word is the antonym of "Inextricable"?

Ans

✔ 1. Separable

✘ 2. Holistic

✘ 3. Intensive

✘ 4. Invaluable

Question Type : **MCQ**
Question ID : **4410091699023**
Option 1 ID : **4410096701695**
Option 2 ID : **4410096701694**
Option 3 ID : **4410096701696**
Option 4 ID : **4410096701693**
Status : **Not Answered**
Chosen Option : **--**

WEBSANKUL ®

Downloaded from websankul.com

Comprehension:

Read the passage and choose the correct answer to the questions based on it.

Organic farming is a holistic agricultural system that prioritizes ecological balance over high-intensity yields. Unlike conventional farming, which relies heavily on synthetic fertilizers and chemical pesticides, organic methods utilize natural processes to maintain soil fertility. Farmers employ techniques such as crop rotation, green manure, and biological pest control to cultivate crops. This approach views farm as a living ecosystem where the health of the soil, plants, and humans is inextricably linked.
While organic produce often commands a higher price due to labor-intensive practices and lower initial yields, proponents argue that the long-term benefits are invaluable. By avoiding toxic runoff, organic farming preserves local biodiversity and prevents the degradation of groundwater. However, as the global population surges, a fierce debate continues regarding whether organic agriculture can achieve the scale necessary to ensure global food security. Despite this, it remains a vital alternative for those seeking a sustainable harmony between technology and the environment.

SubQuestion No : 88

Q.88 Choose the correct synonym of "synthetic".

Ans

✗ 1. Refined

✓ 2. Artificial

✗ 3. Natural

✗ 4. Real

Question Type : **MCQ**
Question ID : **4410091699020**
Option 1 ID : **4410096701683**
Option 2 ID : **4410096701682**
Option 3 ID : **4410096701684**
Option 4 ID : **4410096701681**
Status : **Answered**
Chosen Option : **2**

WEBSANKUL ®

Downloaded from **websankul.com**

Comprehension:

Read the passage and choose the correct answer to the questions based on it.

Organic farming is a holistic agricultural system that prioritizes ecological balance over high-intensity yields. Unlike conventional farming, which relies heavily on synthetic fertilizers and chemical pesticides, organic methods utilize natural processes to maintain soil fertility. Farmers employ techniques such as crop rotation, green manure, and biological pest control to cultivate crops. This approach views farm as a living ecosystem where the health of the soil, plants, and humans is inextricably linked.
While organic produce often commands a higher price due to labor-intensive practices and lower initial yields, proponents argue that the long-term benefits are invaluable. By avoiding toxic runoff, organic farming preserves local biodiversity and prevents the degradation of groundwater. However, as the global population surges, a fierce debate continues regarding whether organic agriculture can achieve the scale necessary to ensure global food security. Despite this, it remains a vital alternative for those seeking a sustainable harmony between technology and the environment.

SubQuestion No : 89

Q.89 Which title best encapsulates the author's primary discussion?

Ans

✗ 1. The Economic Superiority of Synthetic Fertilizers

✓ 2. Ecological Equilibrium: The Principles of Organic Agriculture

✗ 3. A History of Chemical Pesticides in Modern Industry

✗ 4. Scaling Up: Solving Global Hunger through Technology

Question Type : **MCQ**
Question ID : **4410091699019**
Option 1 ID : **4410096701677**
Option 2 ID : **4410096701679**
Option 3 ID : **4410096701680**
Option 4 ID : **4410096701678**
Status : **Answered**
Chosen Option : **2**

WEBSANKUL ®

Downloaded from **websankul.com**

Comprehension:

Read the passage and choose the correct answer to the questions based on it.

Organic farming is a holistic agricultural system that prioritizes ecological balance over high-intensity yields. Unlike conventional farming, which relies heavily on synthetic fertilizers and chemical pesticides, organic methods utilize natural processes to maintain soil fertility. Farmers employ techniques such as crop rotation, green manure, and biological pest control to cultivate crops. This approach views farm as a living ecosystem where the health of the soil, plants, and humans is inextricably linked.
While organic produce often commands a higher price due to labor-intensive practices and lower initial yields, proponents argue that the long-term benefits are invaluable. By avoiding toxic runoff, organic farming preserves local biodiversity and prevents the degradation of groundwater. However, as the global population surges, a fierce debate continues regarding whether organic agriculture can achieve the scale necessary to ensure global food security. Despite this, it remains a vital alternative for those seeking a sustainable harmony between technology and the environment.

SubQuestion No : 90

Q.90 According to the passage, how does organic farming maintain soil health without chemicals?

Ans

✗ 1. By relying on high-intensity irrigation systems for farming

✓ 2. By increasing the use of green manure and crop rotation

✗ 3. Through the total elimination of all harmful biological pests

✗ 4. By increasing the price of produce to discourage over-farming

Question Type : **MCQ**
Question ID : **4410091699021**
Option 1 ID : **4410096701685**
Option 2 ID : **4410096701686**
Option 3 ID : **4410096701688**
Option 4 ID : **4410096701687**
Status : **Answered**
Chosen Option : **3**

Section : **Part B Technical Qualification**

Q.91 એક વ્યાપક અને વિવિધ પ્રકારના પ્રેક્ષકો સુધી સરળ અને સુસંગત (consistent) માહિતી ઝડપથી પહોંચાડવા તેમજ તેની પહોંચ (reach) અને જાગૃતિને મહત્તમ બનાવવા માટે કઈ પદ્ધતિ સૌથી વધુ કાર્યક્ષમ (efficient) છે?

Ans

✓ 1. માસ મીડિયા અભિયાનો (Mass media campaigns)

✗ 2. સામુદાયિક આધારિત રસોઈના ક્લાસેસ (Community-based cooking classes)

✗ 3. ખાદ્ય પદાર્થોનું પ્રદર્શન (Food demonstration)

✗ 4. વ્યક્તિગત પરામર્શ (Individual counselling)

Question Type : **MCQ**
Question ID : **4410091346142**
Option 1 ID : **4410095316881**
Option 2 ID : **4410095316880**
Option 3 ID : **4410095316882**
Option 4 ID : **4410095316883**
Status : **Answered**
Chosen Option : **1**

WEBSANKUL ®

Downloaded from websankul.com

Q.92 આપત્તિ વ્યવસ્થાપન ચક્ર (Disaster Management Cycle)નો કયો તબક્કો મુખ્યત્વે શોધ અને બચાવ (search and rescue), ઈમરજન્સી ઓપરેશન સેન્ટર્સને સક્રિય કરવા અને તાત્કાલિક રાહત સામગ્રી પહોંચાડવા જેવી પ્રવૃત્તિઓ પર ધ્યાન કેન્દ્રિત કરે છે?

Ans
✔ 1. પ્રતિભાવ/ રિસ્પોન્સ (Response)
✘ 2. સજ્જતા (Preparedness)
✘ 3. રિકવરી (Recovery)
✘ 4. શમન/ મિટીગેશન (Mitigation)

Question Type : **MCQ**
Question ID : **4410091364462**
Option 1 ID : **4410095389468**
Option 2 ID : **4410095389466**
Option 3 ID : **4410095389467**
Option 4 ID : **4410095389469**
Status : **Answered**
Chosen Option : **1**

Q.93 "ઈન્ડિયા હેલ્થ 2030" વિઝન સમાનતા અને ટકાઉપણું (equity and sustainability) માટે આરોગ્ય પ્રણાલીઓને મજબૂત કરવા પર કેવી રીતે ધ્યાન કેન્દ્રિત કરે છે?

Ans
✘ 1. જિનેટિક એન્જિનિયરિંગ પર સરકારી ખર્ચમાં ઘટાડો કરવો
✔ 2. આરોગ્ય સેવાઓ પૂરી પાડવાની પદ્ધતિમાં સુધારો કરવા માટે ઉભરતી ટેકનોલોજીનો ઉપયોગ કરવો
✘ 3. તમામ જાહેર-ખાનગી ભાગીદારીને દૂર કરવી
✘ 4. ફક્ત ચેપી રોગો પર ધ્યાન કેન્દ્રિત કરવું

Question Type : **MCQ**
Question ID : **4410091275206**
Option 1 ID : **4410095032855**
Option 2 ID : **4410095032856**
Option 3 ID : **4410095032857**
Option 4 ID : **4410095032858**
Status : **Answered**
Chosen Option : **2**

Q.94 કાચા અને સીધા ખાવા લાયક (ready-to-eat) ખોરાક વચ્ચે આંતર-પ્રદૂષણ (cross-contamination) અટકાવવા માટે સૌથી મહત્ત્વપૂર્ણ પગલાં શું છે?

Ans
✘ 1. બંને માટે એક જ કટીંગ બોર્ડનો ઉપયોગ કરવો, પરંતુ વચ્ચે તેને ધોઈ લેવું
✘ 2. ઉપયોગ કરતા પહેલા અને પછી સપાટીને સૂકા કાપડથી લૂછવી
✔ 3. દરેક પ્રકારના ખોરાક માટે અલગ કટીંગ બોર્ડ, છરી અને તૈયારીના વિસ્તારનો ઉપયોગ કરવો
✘ 4. કાચા માંસને રેફ્રિજરેટરના સૌથી ઉપરના ખાનામાં રાખવું

Question Type : **MCQ**
Question ID : **4410091245000**
Option 1 ID : **4410094913277**
Option 2 ID : **4410094913278**
Option 3 ID : **4410094913279**
Option 4 ID : **4410094913280**
Status : **Answered**
Chosen Option : **3**

WEBSANKUL®

Downloaded from websankul.com

Q.95 જ્યારે કોઈ વ્યક્તિ બેભાન થઈ જાય, ત્યારે તાત્કાલિક કઈ પ્રાથમિક સારવાર (First Aid) આપવી જોઈએ?

Ans
✗ 1. વધુ જટિલતાઓને રોકવા માટે તેમને ઊભા (Standing) રાખવા

✗ 2.
તેમને અવગણવા અને તેઓ જાતે જ સાજા થાય તેની રાહ જોવી

✓ 3.
તેમને તેમની પીઠ પર સ્થિત કરવું, તેમના માથાને એક બાજુ તરફ ફેરવવું અને તેમના પગને ઊંચા (Elevate) કરવા

✗ 4.
તેમના મોંમાં પાણી રેડવું.

Question Type : **MCQ**
Question ID : **441009670075**
Option 1 ID : **4410092634280**
Option 2 ID : **4410092634279**
Option 3 ID : **4410092634278**
Option 4 ID : **4410092634277**
Status : **Answered**
Chosen Option : **3**

Q.96 દર્દીને માર્ગદર્શન આપતી વખતે, તમારે એ બાબત પર ભાર મૂકવો જોઈએ કે સ્કર્વી (Scurvy) ની સૌથી અસરકારક સારવાર કઈ છે?

Ans
✗ 1. આયર્ન અને ફોલિક એસિડ ધરાવતી વસ્તુઓનું સેવન વધારવું

✗ 2. વિટામિન K થી સમૃદ્ધ ખોરાક લેવો

✗ 3. એન્ટિબાયોટિક્સ અને દર્દનિવારક દવાઓ લેવી

✓ 4. દૈનિક વિટામિન C સપ્લિમેન્ટ લેવો અને આહારમાં ફેરફાર કરવો

Question Type : **MCQ**
Question ID : **4410091245058**
Option 1 ID : **4410094913511**
Option 2 ID : **4410094913509**
Option 3 ID : **4410094913510**
Option 4 ID : **4410094913512**
Status : **Answered**
Chosen Option : **4**

WEBSANKUL

Downloaded from websankul.com

Q.97 નીચેનામાંથી કયો ખાદ્ય પદાર્થ પ્રોટીનનો સારો સ્રોત છે?

Ans
✔ 1. કઠોળ
✘ 2. ખાંડ
✘ 3. ચોખા
✘ 4. માખણ

Question Type : **MCQ**
Question ID : **4410091273465**
Option 1 ID : **4410095025886**
Option 2 ID : **4410095025887**
Option 3 ID : **4410095025884**
Option 4 ID : **4410095025885**
Status : **Answered**
Chosen Option : **1**

Q.98 વિટામિન B3 નું વૈકલ્પિક નામ શું છે?

Ans
✘ 1. રિબોફ્લેવિન (Riboflavin)
✔ 2. નિઆસિન (Niacin)
✘ 3. પાયરિડોક્સિન (Pyridoxine)
✘ 4. થિયામાઈન (Thiamine)

Question Type : **MCQ**
Question ID : **4410091245015**
Option 1 ID : **4410094913338**
Option 2 ID : **4410094913337**
Option 3 ID : **4410094913339**
Option 4 ID : **4410094913340**
Status : **Answered**
Chosen Option : **2**

Q.99 પરિવાર કલ્યાણ કાર્યક્રમની સફળતા અને વસ્તી નિયંત્રણ પર તેની અસર માપવા માટે કયા પ્રાથમિક સૂચકાંકનો ઉપયોગ કરવામાં આવે છે?

Ans
✘ 1. જન્મ સમયે અપેક્ષિત આયુષ્ય
✔ 2. કુલ પ્રજનન દર
✘ 3. માથાદીઠ કુલ ઘરેલું ઉત્પાદન
✘ 4. સાક્ષરતા દર

Question Type : **MCQ**
Question ID : **4410091343367**
Option 1 ID : **4410095305952**
Option 2 ID : **4410095305950**
Option 3 ID : **4410095305951**
Option 4 ID : **4410095305949**
Status : **Answered**
Chosen Option : **2**

WEBSANKUL
Downloaded from websankul.com

Q.100 હોસ્પિટલમાં બાયોમેડિકલ અપશિષ્ટ ટ્રીટમેન્ટ (biomedical waste treatment) માટે નીચેનામાંથી કઈ પદ્ધતિ સૌથી વધુ અસરકારક છે?

Ans
✗ 1. હોસ્પિટલ પરિસરમાં છીછરા ખાડા (shallow pits) માં અપશિષ્ટ દાટવું

✗ 2. મ્યુનિસિપલ ઓપન ડમ્પ (municipal open dumps) માં નિકાલ કરવો

✓ 3. ઉચ્ચ તાપમાને ભસ્મીભરણ (incineration)

✗ 4. હોસ્પિટલના પરિસરમાં ખુલ્લામાં અપશિષ્ટ સળગાવવો (open burning)

Question Type : **MCQ**
Question ID : **4410091288629**
Option 1 ID : **4410095086386**
Option 2 ID : **4410095086389**
Option 3 ID : **4410095086387**
Option 4 ID : **4410095086388**
Status : **Answered**
Chosen Option : **3**

Q.101 નીચેનામાંથી કયું મેદસ્વિતા (obesity)નું મૂલ્યાંકન કરવા માટે સૂચક છે?

Ans
✓ 1. ઉચ્ચત્તર બોડી માસ ઇન્ડેક્સ

✗ 2. ઉચ્ચત્તર કોલેસ્ટ્રોલ સ્તર

✗ 3. વધેલું રક્ત ચાપ

✗ 4. ગ્લુકોઝનું વધેલું સ્તર

Question Type : **MCQ**
Question ID : **4410091458456**
Option 1 ID : **4410095762098**
Option 2 ID : **4410095762099**
Option 3 ID : **4410095762097**
Option 4 ID : **4410095762096**
Status : **Answered**
Chosen Option : **1**

Q.102 નીચેનામાંથી કઈ વ્યૂહરચના એ અંતિમ તબક્કાના મૂત્રપિંડના રોગ (end-stage renal disease) ધરાવતા દર્દી માટે તૃતીયક નિવારણ (Tertiary Prevention) હસ્તક્ષેપનું ઉદાહરણ છે?

Ans
✗ 1. કિડની રોગ સાથે સંકળાયેલા આનુવંશિક (જિનેટિક) માર્ક માટે તમામ પરિવારના સભ્યોનું પરીક્ષણ કરવું

✗ 2. તંદુરસ્ત વ્યક્તિઓમાં હાયપરટેન્શન અટકાવવા માટે ઓછા સોડિયમવાળા આહારને પ્રોત્સાહન આપવું

✗ 3. કિડનીને નુકસાન અટકાવવા માટે નિયમિત બ્લડ પ્રેશર તપાસવું

✓ 4. નકામા પદાર્થો અને પ્રવાહીના સંતુલનને વ્યવસ્થિત કરવા માટે નિરંતર ડાયાલિસીસ (ongoing dialysis) સારવાર જાળવી રાખવી

Question Type : **MCQ**
Question ID : **4410091345914**
Option 1 ID : **4410095315976**
Option 2 ID : **4410095315977**
Option 3 ID : **4410095315979**
Option 4 ID : **4410095315978**
Status : **Answered**
Chosen Option : **4**

WEBSANKUL

Downloaded from websankul.com

Q.103 બાયોમેડિકલ અપશિષ્ટ (વેસ્ટ) ના વ્યવસ્થાપનમાં પ્રથમ અને સૌથી મહત્ત્વપૂર્ણ પગલું કયું છે?

Ans ✔ 1. કચરો ઉત્પન્ન થવાના સ્થાને જ તેનું અલગીકરણ (Segregation)

✗ 2. પરિવહન

✗ 3. કોઈપણ તબક્કે નિકાલ

✗ 4. એકત્રીકરણના અંતે ભસ્મીકરણ (Incineration)

Question Type : **MCQ**
Question ID : **4410091256727**
Option 1 ID : **4410094959789**
Option 2 ID : **4410094959792**
Option 3 ID : **4410094959791**
Option 4 ID : **4410094959790**
Status : **Answered**
Chosen Option : **1**

Q.104 જાહેર સ્થળોએ નબળી સ્વચ્છતાનું સીધું પરિણામ કયું છે?

Ans ✗ 1. આર્થિક ઉત્પાદકતા

✗ 2. ખર્ચ બચત

✔ 3. રોગચાળો ફાટી નીકળવો

✗ 4. વધુ સારી સામાજિક આંતરક્રિયા

Question Type : **MCQ**
Question ID : **441009631128**
Option 1 ID : **4410092478659**
Option 2 ID : **4410092478661**
Option 3 ID : **4410092478660**
Option 4 ID : **4410092478662**
Status : **Answered**
Chosen Option : **3**

WEBSANKUL

Downloaded from websankul.com

Q.105 ગ્રીનહાઉસ અસર (Greenhouse effect) અંગેના નીચેના વિધાનો વાંચો.

1. આ એક એવી પ્રક્રિયા છે જેમાં ગ્રીનહાઉસ વાયુઓ ગરમી રોકે છે, જે પૃથ્વીની સપાટીને ગરમ કરવામાં ફાળો આપે છે.
2. ઓક્સિજન, કાર્બન ડાયોક્સાઇડ અને CH_4 (મિથેન)ને ગ્રીનહાઉસ વાયુઓ કહેવામાં આવે છે.
3. CO_2 સામાન્ય રીતે અશ્મિભૂત બળતણ (fossil fuels)ના દહનથી ઉત્પન્ન થાય છે.

ઉપર આપેલા વિધાનોમાંથી કયા વિધાનો સાચાં છે?

Ans
✗ 1. 1, 2 અને 3 સાચાં છે.

✗ 2. માત્ર 1 અને 2 સાચાં છે.

✓ 3. માત્ર 1 અને 3 સાચાં છે.

✗ 4. માત્ર 2 અને 3 સાચાં છે.

Question Type : **MCQ**
Question ID : **4410091318095**
Option 1 ID : **4410095203930**
Option 2 ID : **4410095203932**
Option 3 ID : **4410095203931**
Option 4 ID : **4410095203933**
Status : **Answered**
Chosen Option : **3**

Q.106 જોખમ નિયંત્રણ (Hazard Control) નો સાચો પદાનુક્રમ કયો છે?

Ans
✗ 1. વહીવટી નિયંત્રણો (Administrative controls) → નાબૂદીકરણ (Elimination) → PPE → ઈજનેરી નિયંત્રણો (Engineering controls)

✗ 2. PPE → ઈજનેરી નિયંત્રણો (Engineering controls) → નાબૂદીકરણ (Elimination) → અવેજીકરણ (Substitution)

✗ 3. નાબૂદીકરણ (Elimination) → અવેજીકરણ (Substitution) → ઈજનેરી નિયંત્રણો (Engineering controls) → વહીવટી નિયંત્રણો (Administrative controls) → PPE

✓ 4. PPE → અવેજીકરણ (Substitution) → નાબૂદીકરણ (Elimination) → વહીવટી નિયંત્રણો (Administrative controls) → ઈજનેરી નિયંત્રણો (Engineering controls)

Question Type : **MCQ**
Question ID : **4410091277383**
Option 1 ID : **4410095041453**
Option 2 ID : **4410095041451**
Option 3 ID : **4410095041452**
Option 4 ID : **4410095041454**
Status : **Answered**
Chosen Option : **3**

WEBSANKUL®

Downloaded from websankul.com

Q.107 નેશનલ વોટર સપ્લાય એન્ડ સેનિટેશન પ્રોગ્રામને પાછળથી કયા મિશનમાં સંકલિત કરવામાં આવ્યો હતો?

Ans
✗ 1. નેશનલ રૂરલ હેલ્થ મિશન
✓ 2. જલ જીવન મિશન
✗ 3. ટોટલ સેનિટેશન પ્રોગ્રામ
✗ 4. નેશનલ અર્બન હેલ્થ મિશન

Question Type : **MCQ**
Question ID : **4410091288446**
Option 1 ID : **4410095085653**
Option 2 ID : **4410095085652**
Option 3 ID : **4410095085655**
Option 4 ID : **4410095085654**
Status : **Answered**
Chosen Option : **2**

Q.108 સાપ્તાહિક આયર્ન અને ફોલિક એસિડ સપ્લિમેન્ટેશન (Weekly Iron and Folic Acid Supplementation -WIFS) કાર્યક્રમ એ નીચેનામાંથી કોના પર લક્ષિત છે?

Ans
✗ 1. સગર્ભા સ્ત્રીઓ
✗ 2. 5 વર્ષથી ઓછી ઉંમરના બાળકો
✗ 3. વૃદ્ધો (Elderly)
✓ 4. કિશોરો (Adolescents)

Question Type : **MCQ**
Question ID : **4410091278248**
Option 1 ID : **4410095044931**
Option 2 ID : **4410095044932**
Option 3 ID : **4410095044934**
Option 4 ID : **4410095044933**
Status : **Answered**
Chosen Option : **4**

Q.109 આપત્તિના સ્થળે (ડિઝાસ્ટર સાઇટ પર) અચેતન (બેભાન) દર્દી જોવા મળે ત્યારે નર્સનું પ્રથમ કાર્ય શું હોવું જોઈએ?

Ans
✗ 1. તાત્કાલિક CPR શરૂ કરવું
✓ 2. શ્વસન માર્ગ (એરવે) ખોલવો
✗ 3. નાડીના ધબકારા (પલ્સ) તપાસવા
✗ 4. રક્તસ્રાવની તપાસ કરવી

Question Type : **MCQ**
Question ID : **4410091278344**
Option 1 ID : **4410095045325**
Option 2 ID : **4410095045326**
Option 3 ID : **4410095045324**
Option 4 ID : **4410095045323**
Status : **Answered**
Chosen Option : **2**

WEBSANKUL
Downloaded from websankul.com

Q.110 ભારતમાં ખાદ્ય પદાર્થો સંબંધિત વિવિધ કાયદાઓને એકત્રિત કરવા માટે 2006 ના ફૂડ સેફ્ટી એન્ડ સ્ટાન્ડર્ડ્સ એક્ટ (Food Safety and Standards Act) દ્વારા કયા એક્ટને બદલવામાં/ રિપ્લેસ કરવામાં આવ્યો હતો?

Ans
✔ 1. ધ પ્રિવેન્શન ઓફ ફૂડ અડલ્ટરેશન (PFA) એક્ટ, 1954 (The Prevention of Food Adulteration (PFA) Act, 1954)

✘ 2. ધ મીટ ફૂડ પ્રોડક્ટ્સ ઓર્ડર, 1973 (The Meat Food Products Order, 1973)

✘ 3. ધ એસેન્શિયલ કોમોડિટીઝ એક્ટ, 1955 (The Essential Commodities Act, 1955)

✘ 4. ધ ફૂડ પ્રોડક્ટ્સ ઓર્ડર, 1955 (The Food Products Order, 1955)

Question Type : **MCQ**
Question ID : **4410091364639**
Option 1 ID : **4410095390168**
Option 2 ID : **4410095390169**
Option 3 ID : **4410095390167**
Option 4 ID : **4410095390166**
Status : **Answered**
Chosen Option : **1**

Q.111 નીચેનામાંથી કઈ રસીને −15°C થી −25°C તાપમાને ફ્રીઝરમાં સંગ્રહિત કરવામાં આવે છે?

Ans
✘ 1. DPT રસી

✘ 2. પેન્ટાવેલેન્ટ રસી

✘ 3. હેપેટાઇટિસ રસી

✔ 4. ઓરલ પોલિયો રસી

Question Type : **MCQ**
Question ID : **4410091238189**
Option 1 ID : **4410094886285**
Option 2 ID : **4410094886284**
Option 3 ID : **4410094886282**
Option 4 ID : **4410094886283**
Status : **Answered**
Chosen Option : **4**

Q.112 વેન્ટિલેટેડ ઇમ્પ્રુવ્ડ પિટ્સ અને ROCE શૌચાલયની ડિઝાઇન કયા હેતુ માટે તૈયાર કરવામાં આવી છે?

Ans
✘ 1. સરળ વોટર સીલનો ઉપયોગ કરવા

✘ 2. શૌચાલયના બાંધકામનો ખર્ચ ઘટાડવા

✔ 3. દુર્ગંધ દૂર કરવા તેમજ માખીઓની ઉત્પત્તિ અને ફેલાવો અટકાવવા

✘ 4. ફ્લશ સિસ્ટમનો ઉપયોગ કરવા

Question Type : **MCQ**
Question ID : **441009749791**
Option 1 ID : **4410092953020**
Option 2 ID : **4410092953019**
Option 3 ID : **4410092953018**
Option 4 ID : **4410092953021**
Status : **Answered**
Chosen Option : **3**

WEBSANKUL

Downloaded from websankul.com

Q.113 નીચેનામાંથી કયો પરોપજીવી પ્રજીવ (parasitic protozoa) મેલેરિયા થવા માટે જવાબદાર છે?

Ans
✗ 1. લિશમેનિયા (Leishmania)
✓ 2. પ્લાઝમોડિયમ (Plasmodium)
✗ 3. શિસ્ટોસોમા (Schistosoma)
✗ 4. ટ્રાયપેનોસોમા (Trypanosoma)

Question Type : **MCQ**
Question ID : **4410091361531**
Option 1 ID : **4410095378177**
Option 2 ID : **4410095378180**
Option 3 ID : **4410095378179**
Option 4 ID : **4410095378178**
Status : **Answered**
Chosen Option : **2**

Q.114 દિવસના અંતે ફૂડ હેન્ડલિંગ એસ્ટાબ્લિશમેન્ટમાં વધેલા ખોરાકનું શું કરવું જોઈએ?

Ans
✗ 1. વધેલા ખોરાકનો ફરીથી ઉપયોગ કરવા માટે તેને તાજા ખોરાક સાથે ભેળવો
✗ 2. જરૂર ન પડે ત્યાં સુધી વધેલા ખોરાકને ઓરડાના તાપમાને રાખો
✓ 3. રેફ્રિજરેશન હેઠળ યોગ્ય કન્ટેનરમાં તાત્કાલિક સ્ટોર કરો
✗ 4. ખોરાકને રાતભર કાઉન્ટર પર ખુલ્લો મૂકી રાખો

Question Type : **MCQ**
Question ID : **4410092128416**
Option 1 ID : **4410098379112**
Option 2 ID : **4410098379114**
Option 3 ID : **4410098379113**
Option 4 ID : **4410098379115**
Status : **Answered**
Chosen Option : **3**

Q.115 નીચેનામાંથી કયો નૈતિક સિદ્ધાંત મુખ્યત્વે સત્ય બોલવા અને પ્રમાણિકતા સાથે સંબંધિત છે, જે વ્યક્તિઓને સચોટ માહિતી આપવા અને કપટ કે છેતરપિંડીથી દૂર રહેવાની ફરજ પાડે છે?

Ans
✗ 1. નોન-મેલેફિસન્સ (Nonmaleficence)
✓ 2. વેરાસિટી (Veracity)
✗ 3. બેનિફિસન્સ (Beneficence)
✗ 4. ફિડેલિટી (Fidelity)

Question Type : **MCQ**
Question ID : **4410091346685**
Option 1 ID : **4410095319010**
Option 2 ID : **4410095319011**
Option 3 ID : **4410095319009**
Option 4 ID : **4410095319012**
Status : **Answered**
Chosen Option : **1**

WEBSANKUL

Downloaded from websankul.com

Q.116 ધૂળવાળા વાતાવરણમાં ભીની પદ્ધતિઓ (જેમ કે પાણીનો છંટકાવ) નો ઉપયોગ કરવાનો પ્રાથમિક હેતુ શું છે?

Ans
✔ 1. હવામાં ઉડતા ધૂળના રજકણોને બેસાડી દેવું (suppress કરવું)
✘ 2. ફ્લોર્સનો દેખાવ સુધારવો
✘ 3. ઔદ્યોગિક સાધનોને સાફ કરવું
✘ 4. મશીનરીને કાટ લાગતી અટકાવવી

Question Type : **MCQ**
Question ID : **4410091277325**
Option 1 ID : **4410095041218**
Option 2 ID : **4410095041216**
Option 3 ID : **4410095041219**
Option 4 ID : **4410095041217**
Status : **Answered**
Chosen Option : **1**

Q.117 હાથથી વાસણ ધોવા (manual dishwashing) માટેની 'થ્રી-કમ્પાર્ટમેન્ટ સિંક પદ્ધતિ' નો સાચો ક્રમ અથવા પગલાં કયા છે?

Ans
✘ 1. જંતુમુક્ત કરવું (sanitize), ધોવું (wash), સાફ પાણીથી ધોવું (rinse)
✘ 2. સાફ પાણીથી ધોવું (rinse), ધોવું (wash), જંતુમુક્ત કરવું (sanitize)
✘ 3. ધોવું (wash), જંતુમુક્ત કરવું (sanitize), સુકવવું (air-dry)
✔ 4. ધોવું (wash), સાફ પાણીથી ધોવું (rinse), જંતુમુક્ત કરવું (sanitize)

Question Type : **MCQ**
Question ID : **4410091245005**
Option 1 ID : **4410094913298**
Option 2 ID : **4410094913299**
Option 3 ID : **4410094913300**
Option 4 ID : **4410094913297**
Status : **Answered**
Chosen Option : **3**

Q.118 વિટામિન K ની ઉણપ ધરાવતો એક દર્દી પૂછે છે, "મારા માટે આ વિટામિનનું મહત્ત્વ શું છે?" તો આ દર્દી માટે સૌથી સચોટ અને શ્રેષ્ઠ સમજૂતી કઈ છે?

Ans
✔ 1. તે લોહી ગંઠાવવાની પ્રક્રિયામાં મદદ કરતાં પ્રોટીનના ઉત્પાદન માટે અને રક્તસ્રાવ અટકાવવા માટે આવશ્યક છે.
✘ 2. તે એક એન્ટીઓક્સિડન્ટ છે જે તમારા કોષોને નુકસાનથી બચાવે છે.
✘ 3. તે મજબૂત હાડકાં અને દાંતના નિર્માણમાં મદદ કરે છે અને ઓસ્ટિયોપોરોસિસ થતો અટકાવે છે.
✘ 4. તે તમારા શરીરને ખોરાકમાંથી આયર્ન શોષવામાં મદદ કરવા માટે જરૂરી છે.

Question Type : **MCQ**
Question ID : **4410091245046**
Option 1 ID : **4410094913464**
Option 2 ID : **4410094913462**
Option 3 ID : **4410094913463**
Option 4 ID : **4410094913461**
Status : **Answered**
Chosen Option : **1**

WEBSANKUL®

Downloaded from websankul.com

Q.119 વર્કશોપ અથવા પ્રયોગશાળાના વાતાવરણમાં રોગકારક જીવાણુઓ અને જોખમી સામગ્રીથી અરસપરસ-પ્રદૂષણ (cross-contamination) ને રોકવા માટે કઈ પ્રથાને સૌથી અસરકારક વ્યક્તિગત સ્વચ્છતાની આદત ગણવામાં આવે છે?

Ans
✗ 1. હાથની સપાટી પરની ધૂળને હટાવવા માટે 5 થી 10 સેકન્ડ સુધી ગરમ પાણી અને સામાન્ય સાબુથી હાથ ધોવા

✗ 2. પાણીથી હાથ ધોવા અને પછી એમને કોરા કરતાં પહેલા એન્ટિબેક્ટેરિયલ હેન્ડ લોશન લગાવવું

✗ 3. દુકાનના ફ્લોર પર ભારે તેલ અથવા ગ્રીસને સ્પર્શ કર્યા પછી તરત જ આલ્કોહોલ આધારિત હેન્ડ સેનિટાઇઝરનો ઉપયોગ કરવો

✓ 4. સાદા સાબુ અને વહેતા પાણીથી ઓછામાં ઓછી 20 સેકન્ડ સુધી હાથને સારી રીતે ધોવા

Question Type : **MCQ**
Question ID : **4410092667586**
Option 1 ID : **44100910490515**
Option 2 ID : **44100910490518**
Option 3 ID : **44100910490517**
Option 4 ID : **44100910490516**
Status : **Answered**
Chosen Option : **2**

Q.120 પલ્સ પોલિયો રસીકરણ (Pulse Polio Immunization) મુખ્યત્વે કઈ ઉંમરથી નીચેના બાળકોને લક્ષ્ય બનાવે છે?

Ans
✓ 1. 5 વર્ષ

✗ 2. 10 વર્ષ

✗ 3. 3 વર્ષ

✗ 4. 15 વર્ષ

Question Type : **MCQ**
Question ID : **4410091238197**
Option 1 ID : **4410094886315**
Option 2 ID : **4410094886316**
Option 3 ID : **4410094886314**
Option 4 ID : **4410094886317**
Status : **Answered**
Chosen Option : **1**

Q.121 દૂષિત ગટરના પાણી દ્વારા બેક્ટેરિયાથી કયો જલજન્ય રોગ (water-borne disease) થાય છે?

Ans
✗ 1. મલેરિયા

✓ 2. કોલેરા

✗ 3. ઈન્ફ્લ્યુએન્ઝા (Influenza)

✗ 4. ટ્યુબરક્યુલોસિસ (Tuberculosis)

Question Type : **MCQ**
Question ID : **4410091346387**
Option 1 ID : **4410095317854**
Option 2 ID : **4410095317853**
Option 3 ID : **4410095317852**
Option 4 ID : **4410095317855**
Status : **Answered**
Chosen Option : **2**

WEBSANKUL

Downloaded from websankul.com

Q.122 નીચે આપેલા વિકલ્પોમાંથી કઈ વ્યૂહરચના (strategy) હેલ્થકેર સેટિંગ્સમાં કચરો ઘટાડવા માટેનો એક ભાગ માનવામાં આવે છે?

Ans
✗ 1. સરળ નિકાલ માટે તમામ કચરાને એકસાથે મિશ્રિત કરવો
✗ 2. તમામ સર્જિકલ પ્રક્રિયા માટે સિંગલ-યુઝ (એકવાર વાપરી શકાય તેવી) વસ્તુઓનો ઉપયોગ કરવો
✗ 3. હોસ્પિટલમાંથી નીકળતા તમામ કચરાનો લેન્ડફિલ્સમાં નિકાલ કરવો
✓ 4. તમામ સુરક્ષિત સામગ્રીનું રિસાયક્લિંગ અને પુનઃઉપયોગ કરવો

Question Type : **MCQ**
Question ID : **4410091289566**
Option 1 ID : **4410095090191**
Option 2 ID : **4410095090188**
Option 3 ID : **4410095090190**
Option 4 ID : **4410095090189**
Status : **Answered**
Chosen Option : **4**

Q.123 રોગના કારણની માનક સાંકળમાં નિકાસ દ્વાર (portal of exit) પછીનું તાર્કિક પગલું કયું છે?

Ans
✗ 1. રોગકારકનું સંગ્રહસ્થાન (Reservoir of agent)
✓ 2. સંક્રમણનું માધ્યમ (Mode of transmission)
✗ 3. પ્રવેશદ્વાર (Portal of entry)
✗ 4. સંવેદનશીલ યજમાન (Susceptible host)

Question Type : **MCQ**
Question ID : **4410092667581**
Option 1 ID : **44100910490497**
Option 2 ID : **44100910490498**
Option 3 ID : **44100910490496**
Option 4 ID : **44100910490495**
Status : **Not Answered**
Chosen Option : **--**

Q.124 નીચેનામાંથી કઈ પ્રેક્ટિસ ઘરની ઉત્તમ સ્વચ્છતા (good home sanitation) ને સૌથી સારી રીતે દર્શાવે છે?

Ans
✗ 1. શુદ્ધ કર્યા વગરનું સપાટી પરનું પાણી (surface water) પીવું
✗ 2. રસોડું અને શૌચાલય એકબીજા સાથે સીધા જોડાયેલા હોવા
✗ 3. રાંધેલો અને કાચો ખોરાક એક જ જગ્યાએ ખુલ્લો (uncovered) સ્ટોર કરવો
✓ 4. વાસણો વાપર્યા પછી તરત જ ધોઈ નાખવા અને સૂકવવા

Question Type : **MCQ**
Question ID : **4410091288613**
Option 1 ID : **4410095086322**
Option 2 ID : **4410095086324**
Option 3 ID : **4410095086325**
Option 4 ID : **4410095086323**
Status : **Answered**
Chosen Option : **4**

WEBSANKUL
Downloaded from websankul.com

Q.125 ભારતમાં સૌપ્રથમ શાળા આરોગ્ય કાર્યક્રમ (સ્કૂલ હેલ્થ પ્રોગ્રામ) કયા વર્ષમાં શરૂ કરવામાં આવ્યો હતો?

Ans
✗ 1. 1951
✗ 2. 1963
✓ 3. 1909
✗ 4. 1950

Question Type : **MCQ**
Question ID : **4410091288457**
Option 1 ID : **4410095085703**
Option 2 ID : **4410095085702**
Option 3 ID : **4410095085700**
Option 4 ID : **4410095085701**
Status : **Not Answered**
Chosen Option : **--**

Q.126 નીચેનામાંથી કયો સંક્રમણનો પ્રકાર લેપ્ટોસ્પાયરોસિસ (leptospirosis) સાથે સંબંધિત છે?

Ans
✗ 1. સંપર્ક સંક્રમણ (Contact transmission)
✗ 2. શ્વસન સંબંધી ટીપાં (Respiratory droplets)
✗ 3. વર્ટિકલ અને જાતીય સંક્રમણ
✓ 4. દૂષિત પાણી અને જમીન

Question Type : **MCQ**
Question ID : **4410091349235**
Option 1 ID : **4410095329150**
Option 2 ID : **4410095329148**
Option 3 ID : **4410095329149**
Option 4 ID : **4410095329147**
Status : **Answered**
Chosen Option : **4**

Q.127 ફૂડ હેન્ડલિંગ સંસ્થામાં ખોરાકના સંપર્કમાં આવતી સપાટીઓને કેટલી વાર સેનિટાઇઝ કરવી જોઈએ?

Ans
✗ 1. ફક્ત દરેક કામકાજના દિવસના અંતે
✗ 2. દર મહિને ઊંડી સફાઈ કરવી
✗ 3. અઠવાડિયામાં એક વાર સંપૂર્ણ સફાઈ
✓ 4. દૂષણ અટકાવવા માટે દરેક વપરાશ પછી

Question Type : **MCQ**
Question ID : **4410092128418**
Option 1 ID : **4410098379123**
Option 2 ID : **4410098379121**
Option 3 ID : **4410098379120**
Option 4 ID : **4410098379122**
Status : **Answered**
Chosen Option : **4**

WEBSANKUL
Downloaded from websankul.com

Q.128 હોસ્પિટલના આઇસોલેશન વોર્ડ (Isolation ward) માં હવામાંથી ફેલાતા ક્રોસ-ઇન્ફેક્શન (Airborne cross-infection) ને અટકાવવા માટે નીચેનામાંથી કયા યોગ્ય પ્રકારના વેન્ટિલેશનનો ઉપયોગ કરવામાં આવે છે?

Ans
✗ 1. માત્ર સપ્લાય એર સાથે પોઝિટિવ પ્રેશર મિકેનિકલ વેન્ટિલેશન
✓ 2. HEPA-ફિલ્ટરયુક્ત એક્ઝોસ્ટ સિસ્ટમ સાથેનું નેગેટિવ પ્રેશર વેન્ટિલેશન
✗ 3. HEPA ફિલ્ટર સાથેનું પોઝિટિવ પ્રેશર વેન્ટિલેશન
✗ 4. એક્ઝોસ્ટ વિનાનું રિસર્ક્યુલેટિંગ એર કંડિશન

Question Type : **MCQ**
Question ID : **4410091288575**
Option 1 ID : **4410095086168**
Option 2 ID : **4410095086169**
Option 3 ID : **4410095086170**
Option 4 ID : **4410095086171**
Status : **Answered**
Chosen Option : **3**

Q.129 રોગના વિસ્તૃત ક્રમમાં એવો તબક્કો કે જ્યાં ચેપ હાજર હોય પરંતુ લક્ષણો હજી દેખાતા ન હોય, તેને શું કહેવાય છે?

Ans
✓ 1. સબક્લિનિકલ તબક્કો (Subclinical stage)
✗ 2. ક્લિનિકલ તબક્કો (Clinical Stage)
✗ 3. રિકવરી તબક્કો (Recovery stage)
✗ 4. અક્ષમતા તબક્કો (Disability stage)

Question Type : **MCQ**
Question ID : **4410091238171**
Option 1 ID : **4410094886210**
Option 2 ID : **4410094886213**
Option 3 ID : **4410094886212**
Option 4 ID : **4410094886211**
Status : **Answered**
Chosen Option : **1**

Q.130 ઘરના રસોડામાં બેક્ટેરિયાની વૃદ્ધિ માટે નીચેનામાંથી કઈ તાપમાન રેન્જ 'ડેન્જર ઝોન (Danger zone)' છે?

Ans
✗ 1. માઇનસ 0°C
✓ 2. 5-60° C
✗ 3. 0-4°C
✗ 4. માઇનસ 10°C

Question Type : **MCQ**
Question ID : **4410091288596**
Option 1 ID : **4410095086254**
Option 2 ID : **4410095086253**
Option 3 ID : **4410095086252**
Option 4 ID : **4410095086255**
Status : **Answered**
Chosen Option : **2**

WEBSANKUL®

Downloaded from websankul.com

Q.131 ટ્વેન્ટી પોઇન્ટ પ્રોગ્રામ (TPP) નો તાજેતરનો વ્યાપક સુધારો (comprehensive revision) ક્યારે અમલમાં મૂકવામાં આવ્યો હતો?

Ans
✗ 1. 2002
✗ 2. 1998
✓ 3. 2006
✗ 4. 2020

Question Type : **MCQ**
Question ID : **4410091343395**
Option 1 ID : **4410095306063**
Option 2 ID : **4410095306064**
Option 3 ID : **4410095306062**
Option 4 ID : **4410095306061**
Status : **Not Answered**
Chosen Option : **--**

Q.132 ગ્રામીણ વિસ્તારોમાં પ્રવાહી કચરાના નિકાલની સૌથી સામાન્ય પદ્ધતિ કઈ છે?

Ans
✓ 1. શોષખાડો (Soaked pit)
✗ 2. માનવસર્જિત પ્રકૃતિ-આધારિત ભેજવાળી ભૂમિ (Constructed wet lands)
✗ 3. જળાશયોમાં સીધો નિકાલ (Direct Discharge to Water Bodies)
✗ 4. ઓક્સિડેશન પોન્ડ (Oxidation pond)

Question Type : **MCQ**
Question ID : **4410091237558**
Option 1 ID : **4410094883765**
Option 2 ID : **4410094883767**
Option 3 ID : **4410094883766**
Option 4 ID : **4410094883764**
Status : **Answered**
Chosen Option : **1**

Q.133 FSSA, 2006 નો પ્રાથમિક ઉદ્દેશ્ય શું છે?

Ans
✗ 1. ખાદ્ય જાહેરાતોનું નિયમન કરવું
✗ 2. માત્ર ખાદ્ય વ્યવસાયો (food businesses)નું લાઇસન્સિંગ કરવું
✓ 3. સુરક્ષિત અને આરોગ્યપ્રદ ખાદ્યપદાર્થોની ઉપલબ્ધતા સુનિશ્ચિત કરવી
✗ 4. પાણીના પુરવઠા (water supply) પર નિયંત્રણ રાખવું

Question Type : **MCQ**
Question ID : **4410091364635**
Option 1 ID : **4410095390152**
Option 2 ID : **4410095390150**
Option 3 ID : **4410095390151**
Option 4 ID : **4410095390153**
Status : **Answered**
Chosen Option : **3**

WEBSANKUL
Downloaded from websankul.com

Q.134 સામાન્ય રીતે કયા પ્રકારનો બાયોમેડિકલ કચરો બાળી નાખવા (incinerate) માં આવે છે?

Ans
✗ 1. ઓફિસનો કચરો (Office waste)
✗ 2. પ્લાસ્ટિક પેકેજિંગ (Plastic packaging)
✗ 3. ખોરાકનો કચરો (Food waste)
✓ 4. શરીર રચના સંબંધી કચરો (Anatomical waste)

Question Type : **MCQ**
Question ID : **4410091101451**
Option 1 ID : **4410094343163**
Option 2 ID : **4410094343165**
Option 3 ID : **4410094343164**
Option 4 ID : **4410094343162**
Status : **Answered**
Chosen Option : **4**

Q.135 બાયોમેડિકલ વેસ્ટ મેનેજમેન્ટમાં ભસ્મીકરણ (incineration)નો મુખ્ય ઉદ્દેશ્ય શું છે?

Ans
✗ 1. તે હોસ્પિટલના ખર્ચમાં ઘટાડો કરે છે.
✓ 2. તે તમામ પ્રકારના પેથોજેન્સ (pathogens)નો નાશ કરે છે.
✗ 3. દર્દીના સંતોષ (patient satisfaction)ની તકો વધારે છે.
✗ 4. તે કચરાને પુનઃઉપયોગમાં લઈ શકાય તેવી સામગ્રીમાં રૂપાંતરિત કરે છે.

Question Type : **MCQ**
Question ID : **4410091289563**
Option 1 ID : **4410095090177**
Option 2 ID : **4410095090176**
Option 3 ID : **4410095090179**
Option 4 ID : **4410095090178**
Status : **Answered**
Chosen Option : **2**

Q.136 ભારતમાં ખાદ્ય પદાર્થોનું નિયમન કરતી સર્વોચ્ચ સંસ્થા FSSAI નું પૂરું નામ (Full Form) શું છે?

Ans
✗ 1. ફૂડ એન્ડ સ્પાઇસ સ્ટાન્ડર્ડ્સ ઓથોરિટી ઓફ ઈન્ડિયા (Food and Spice Standards Authority of India)
✗ 2. ફૂડ સપ્લાય એન્ડ સ્ટાન્ડર્ડ એસોસિએશન ઓફ ઈન્ડિયા (Food Supply and Standard Association of India)
✓ 3. ફૂડ સેફ્ટી એન્ડ સ્ટાન્ડર્ડ્સ ઓથોરિટી ઓફ ઈન્ડિયા (Food Safety and Standards Authority of India)
✗ 4. ફૂડ સેફ્ટી એન્ડ સિક્યોર એસોસિએશન ઓફ ઈન્ડિયા (Food Safety and Secure Association of India)

Question Type : **MCQ**
Question ID : **4410091364641**
Option 1 ID : **4410095390175**
Option 2 ID : **4410095390177**
Option 3 ID : **4410095390176**
Option 4 ID : **4410095390174**
Status : **Answered**
Chosen Option : **3**

WEBSANKUL

Downloaded from websankul.com

Q.137 એર પ્યુરિફિકેશનમાં HEPA ફિલ્ટરનો ઉપયોગ કરવામાં આવે છે, કારણ કે તેઓ _____

Ans
✗ 1. બેક્ટેરિયાનો સીધો નાશ કરે છે.

✗ 2. ઓઝોન ઉત્પન્ન કરે છે.

✓ 3. 0.3 માઇક્રોન જેટલા સૂક્ષ્મ કણોને ટ્રેપ કરે છે.

✗ 4. CO_2 નું પ્રમાણ વધારે છે.

Question Type : **MCQ**
Question ID : **4410091306135**
Option 1 ID : **4410095156333**
Option 2 ID : **4410095156335**
Option 3 ID : **4410095156334**
Option 4 ID : **4410095156336**
Status : **Answered**
Chosen Option : **3**

Q.138 NITI આયોગનું પૂરું નામ શું છે?

Ans
✗ 1. નેશનલ ઇનિશિયેટિવ ફોર ટેકનિકલ ઇનોવેશન એન્ડ એકાઉન્ટિંગ (National Initiative for Technical Innovation and Accounting)

✗ 2. ન્યુ ઇન્ડિયા ટાસ્કફોર્સ ફોર ઇન્ફ્રાસ્ટ્રક્ચર એન્ડ ટ્રાન્સપોર્ટ (New India Taskforce for Infrastructure and Transport)

✗ 3. નેશનલ ઇન્સ્ટિટ્યુટ ઓફ ટેક્નોલોજીકલ ઇન્ટિગ્રેશન એન્ડ રિસર્ચ (National Institute of Technological Integration and Research)

✓ 4. નેશનલ ઇન્સ્ટિટ્યુશન ફોર ટ્રાન્સફોર્મિંગ ઇન્ડિયા (National Institution for Transforming India)

Question Type : **MCQ**
Question ID : **4410091362591**
Option 1 ID : **4410095382307**
Option 2 ID : **4410095382306**
Option 3 ID : **4410095382305**
Option 4 ID : **4410095382304**
Status : **Answered**
Chosen Option : **4**

WEBSANKUL

Downloaded from websankul.com

Q.139 નીચે બે વિધાનો આપેલા છે. આપેલા કોડનો ઉપયોગ કરીને સાચો વિકલ્પ પસંદ કરો.

વિધાન I: અછબડા (Chickenpox)ને અત્યંત ચેપી રોગ માનવામાં આવે છે.
વિધાન II: તેનું સંક્રમણ સામાન્ય રીતે શ્વાસોચ્છ્વાસના ટીપાં (respiratory droplets) અને ફોલ્લાના પ્રવાહી (vesicular fluid) સાથેના સીધા સંપર્ક મારફત થાય છે.

Ans
✔ 1. I અને II બંને સાચા છે, અને II એ I ને સમજાવે છે.
✘ 2. I સાચું છે, પરંતુ II ખોટું છે.
✘ 3. I ખોટું છે, પરંતુ II સાચું છે.
✘ 4. I અને II બંને સાચા છે, પરંતુ II એ I ને સમજાવતું નથી.

Question Type : **MCQ**
Question ID : **4410091349245**
Option 1 ID : **4410095329187**
Option 2 ID : **4410095329189**
Option 3 ID : **4410095329190**
Option 4 ID : **4410095329188**
Status : **Answered**
Chosen Option : **1**

Q.140 ભારતમાં મેદાની વિસ્તાર (plain area) માં કોમ્યુનિટી હેલ્થ સેન્ટર (CHC) કેટલી આદર્શ વસ્તીને આવરી લેવા માટે બનાવવામાં આવ્યું છે?

Ans
✔ 1. 80,000 થી 1,20,000
✘ 2. 10,000 થી 15,000
✘ 3. 30,000 થી 50,000
✘ 4. 3,000 થી 5,000

Question Type : **MCQ**
Question ID : **4410091364504**
Option 1 ID : **4410095389629**
Option 2 ID : **4410095389627**
Option 3 ID : **4410095389628**
Option 4 ID : **4410095389626**
Status : **Answered**
Chosen Option : **1**

WEBSANKUL
Downloaded from websankul.com

Q.141 ખાદ્ય પદાર્થોના વ્યવહાર સાથે સંકળાયેલા એકમમાં હેઝાર્ડ એનાલિસિસ એન્ડ ક્રિટિકલ કંટ્રોલ પોઈન્ટ્સ (HACCP) પ્રણાલીનો મુખ્ય ઉપયોગ શું છે?

Ans
✔ 1. ખાદ્ય સુરક્ષા જોખમોને ઓળખવા અને નિયંત્રિત કરવા
✘ 2. રસોડાની કાર્યક્ષમતા સુધારવા માટે
✘ 3. એકમમાં કર્મચારીઓના કામના કલાકોનો હિસાબ રાખવા માટે
✘ 4. ખોરાકનો બગાડ ઘટાડવા અને તેનું યોગ્ય રીતે વર્ગીકરણ કરવા માટે

Question Type : **MCQ**
Question ID : **4410091244995**
Option 1 ID : **4410094913259**
Option 2 ID : **4410094913258**
Option 3 ID : **4410094913257**
Option 4 ID : **4410094913260**
Status : **Answered**
Chosen Option : **1**

Q.142 ભારતમાં જન ઔષધિ યોજના (Jan Aushadhi scheme) કયા મંત્રાલય દ્વારા અમલમાં મૂકવામાં આવે છે?

Ans
✘ 1. આરોગ્ય અને પરિવાર કલ્યાણ મંત્રાલય (Ministry of Health and Family Welfare)
✔ 2. રાસાયણિક અને ખાતર મંત્રાલય (Ministry of Chemicals and Fertilizers)
✘ 3. ફાર્માસ્યુટિકલ્સ મંત્રાલય (Ministry of Pharmaceuticals)
✘ 4. NITI આયોગ (NITI Aayog)

Question Type : **MCQ**
Question ID : **4410091474344**
Option 1 ID : **4410095824990**
Option 2 ID : **4410095824989**
Option 3 ID : **4410095824991**
Option 4 ID : **4410095824992**
Status : **Answered**
Chosen Option : **1**

Q.143 પંચાયતી રાજ વ્યવસ્થા હેઠળ સામુદાયિક સ્તરે આરોગ્ય આયોજનમાં કઈ સંસ્થા મુખ્ય ભૂમિકા ભજવે છે?

Ans
✘ 1. જિલ્લા પરિષદ
✘ 2. પંચાયત સમિતિ
✔ 3. ગ્રામ પંચાયત
✘ 4. ગ્રામ સભા

Question Type : **MCQ**
Question ID : **4410091474327**
Option 1 ID : **4410095824926**
Option 2 ID : **4410095824927**
Option 3 ID : **4410095824925**
Option 4 ID : **4410095824928**
Status : **Answered**
Chosen Option : **1**

WEBSANKUL

Downloaded from websankul.com

Q.144 સંભવિત સુનામી હોનારતની પૂર્વચેતવણી પ્રણાલી અને પૂર્વતૈયારી માટે નીચેનામાંથી કઈ ટેકનોલોજી અસરકારક સાબિત થશે?

Ans
✔ 1. દરિયાકાંઠાના ભરતી માપકો અને જમીન સાથે જોડાયેલા સબમરીન કેબલ
✘ 2. હવાનું દબાણ માપવા માટે હવામાન ઉપગ્રહ
✘ 3. ભૂગર્ભીય પ્રવૃત્તિઓ શોધવા માટે ગ્રાઉન્ડ-પેનિટ્રેટિંગ રડાર
✘ 4. તરંગોની આગાહી કરવા માટે સિસ્મોગ્રાફ

Question Type : **MCQ**
Question ID : **4410091346725**
Option 1 ID : **4410095319178**
Option 2 ID : **4410095319179**
Option 3 ID : **4410095319180**
Option 4 ID : **4410095319177**
Status : **Answered**
Chosen Option : **3**

Q.145 નીચેનામાંથી કયો વિકલ્પ આરોગ્ય સંભાળના પરિણામો સુધારવામાં સમુદાયની ભૂમિકાને શ્રેષ્ઠ રીતે દર્શાવે છે?

Ans
✘ 1. નાની આરોગ્ય સમસ્યાઓ ગંભીર ન થાય ત્યાં સુધી અવગણવી
✘ 2. તબીબી સંભાળ માટે ફક્ત હોસ્પિટલો પર આધાર રાખવો
✔ 3. આરોગ્ય સમસ્યાઓની ઓળખ કરવી અને ઉકેલો શોધવા માટે સાથે મળીને કામ કરવું
✘ 4. બધી સમસ્યાઓનો ઉકેલ લાવવા માટે આરોગ્ય સંભાળ વ્યાવસાયિકોની રાહ જોવી

Question Type : **MCQ**
Question ID : **441009656049**
Option 1 ID : **4410092578500**
Option 2 ID : **4410092578499**
Option 3 ID : **4410092578497**
Option 4 ID : **4410092578498**
Status : **Answered**
Chosen Option : **3**

Q.146 નીચેનામાંથી કયા પ્રકારના કચરાનો ઉપયોગ સેન્દ્રિય ખાતર (કમ્પોસ્ટ) બનાવવા માટે કરી શકાય છે?

Ans
✘ 1. કાચના ટુકડાઓ
✘ 2. પ્લાસ્ટિકની થેલીઓ
✔ 3. શાકભાજીના છોતરાં/છાલ
✘ 4. ધાતુનો ભંગાર

Question Type : **MCQ**
Question ID : **4410091361489**
Option 1 ID : **4410095378011**
Option 2 ID : **4410095378009**
Option 3 ID : **4410095378010**
Option 4 ID : **4410095378012**
Status : **Answered**
Chosen Option : **3**

WEBSANKUL
Downloaded from websankul.com

Q.147 ગ્રાહક જ્યારે કોઈ વાંધો ઉઠાવે ત્યારે સૌથી શ્રેષ્ઠ પ્રારંભિક પગલું કયું છે?

Ans
✗ 1. ગ્રાહકને તેનો વાંધો ફરીથી દોહરાવવા માટે કહેવું.

✗ 2. નવા મુદ્દાઓ તરત જ વાંધાનો પ્રતિકાર કરવો.

✓ 3. વાંધાનું મૂળ કારણ સમજવા માટે ધ્યાનપૂર્વક સાંભળવું.

✗ 4. ગ્રાહક જે કહે તે બધી બાબતો સાથે સંમત થવું.

Question Type : **MCQ**
Question ID : **4410091346694**
Option 1 ID : **4410095319056**
Option 2 ID : **4410095319053**
Option 3 ID : **4410095319055**
Option 4 ID : **4410095319054**
Status : **Answered**
Chosen Option : **3**

Q.148 પ્રાથમિક સારવાર (first aid)નો પ્રાથમિક હેતુ શું છે?

Ans
✓ 1. જીવંત રાખવું અને રિકવરીને સપોર્ટ કરવું

✗ 2.
તબીબી પરિસ્થિતિઓનું નિદાન કરવું

✗ 3.
શસ્ત્રક્રિયાની પ્રોસિજર્સ કરવી

✗ 4.
વ્યવસાયિક તબીબી સંભાળનનું સ્થાન લેવું

Question Type : **MCQ**
Question ID : **441009639899**
Option 1 ID : **4410092513742**
Option 2 ID : **4410092513743**
Option 3 ID : **4410092513744**
Option 4 ID : **4410092513741**
Status : **Answered**
Chosen Option : **1**

Q.149 કેથેટર-સંબંધિત યુરિનરી ટ્રેક્ટ ઈન્ફેક્શનને અટકાવવા માટે, કેથેટર કલેક્શન સિસ્ટમના યોગ્ય ગ્રેવિટી ડ્રેનેજ (ગુરુત્વાકર્ષણ ડ્રેનેજ)ને સુનિશ્ચિત કરવા માટેનો પ્રાથમિક સિદ્ધાંત કયો છે?

Ans
✓ 1. ડ્રેનેજ બેગ હંમેશા બ્લેડર (મૂત્રાશય)ના સ્તર કરતા નીચે રાખવામાં આવે તે સુનિશ્ચિત કરવું

✗ 2. બેગને ખાલી કરતા પહેલા તેને પૂરેપૂરી ભરી દેવી, જેથી તેને વારંવાર અડવાનું (હેન્ડલ કરવાનું) ટાળી શકાય

✗ 3. ટ્યુબિંગને દર્દીના પલંગ પર ચુસ્તપણે ગૂંચળું વાળીને રાખવી અને ડ્રેનેજ બેગને દર્દીના પલંગની ઉપર રાખવી

✗ 4. બ્લેડર (મૂત્રાશય)ની એક્સરસાઇઝ માટે દરેક શિફ્ટમાં બે કલાક માટે ડ્રેનેજ ટ્યુબિંગને ક્લેમ્પ (બંધ) કરવી

Question Type : **MCQ**
Question ID : **4410091361580**
Option 1 ID : **4410095378372**
Option 2 ID : **4410095378371**
Option 3 ID : **4410095378370**
Option 4 ID : **4410095378369**
Status : **Answered**
Chosen Option : **1**

WEBSANKUL

Downloaded from websankul.com

Q.150 બાયોમેડિકલ વેસ્ટ મેનેજમેન્ટ (BMWM) નિયમો, 2016 અનુસાર, નીચેનામાંથી કયા કચરાને પીળી (Yellow) કેટેગરી હેઠળ વર્ગીકૃત કરવામાં આવ્યો છે?

Ans
✗ 1. કાચની વસ્તુઓ અને ધાતુના ઇમ્પ્લાન્ટ્સ
✗ 2. ફેંકી દેવાયેલી પ્લાસ્ટિક અને રબરની વસ્તુઓ
✗ 3. ધાતુના બોડી ઇમ્પ્લાન્ટ્સ સહિતનો તીક્ષ્ણ કચરો (Waste sharps)
✓ 4. માનવ શરીરરચના સંબંધી કચરો (anatomical waste), જેમ કે પેશીઓ અને અંગો

Question Type : **MCQ**
Question ID : **4410091346344**
Option 1 ID : **4410095317687**
Option 2 ID : **4410095317685**
Option 3 ID : **4410095317684**
Option 4 ID : **4410095317686**
Status : **Answered**
Chosen Option : **4**

Q.151 ગર્ભાવસ્થાના ક્યા સમયગાળા દરમિયાન તબીબી ગર્ભપાત (Medical Termination of Pregnancy - MTP) સામાન્ય રીતે વધુ સુરક્ષિત માનવામાં આવે છે અને તે સલાહભર્યો છે?

Ans
✗ 1. ગર્ભાવસ્થાનો કોઈપણ તબક્કો
✓ 2. પહેલું ત્રિમાસિક (12 અઠવાડિયા સુધી)
✗ 3. ત્રીજું ત્રિમાસિક (21-40 અઠવાડિયા)
✗ 4. બીજું ત્રિમાસિક (13-20 અઠવાડિયા)

Question Type : **MCQ**
Question ID : **4410091272777**
Option 1 ID : **4410095023127**
Option 2 ID : **4410095023124**
Option 3 ID : **4410095023126**
Option 4 ID : **4410095023125**
Status : **Answered**
Chosen Option : **2**

Q.152 વાહનોની એક્ઝોસ્ટ સિસ્ટમમાં ઉત્સર્જન પહેલાં કાર્બન મોનોક્સાઇડ અને નાઇટ્રોજન ઓક્સાઇડ જેવા હાનિકારક વાયુઓને નુકસાન ન પહોંચાડે તેવા વાયુઓમાં રૂપાંતરિત કરવા માટે વપરાતી પ્રક્રિયાને _____ કહેવાય છે.

Ans
✓ 1. કેટેલિટિક કન્વર્ઝન (Catalytic conversion)
✗ 2. થર્મલ ઇન્સીનરેશન (Thermal incineration)
✗ 3. ફ્લુ ગેસ ડિસલ્ફરાઇઝેશન (Flue gas desulphurization)
✗ 4. ગેસ શોષણ (Gas absorption)

Question Type : **MCQ**
Question ID : **4410091275562**
Option 1 ID : **4410095034252**
Option 2 ID : **4410095034253**
Option 3 ID : **4410095034251**
Option 4 ID : **4410095034254**
Status : **Answered**
Chosen Option : **3**

WEBSANKUL®

Downloaded from websankul.com

Q.153 રસોડામાં કાચા અને રાંધેલા ખોરાકને અલગ રાખવાનું મુખ્ય કારણ શું છે?

Ans
✗ 1. ખોરાકનો કુદરતી રંગ જાળવી રાખવા માટે

✓ 2. પરસ્પર દૂષણ (cross-contamination) રોકવા માટે

✗ 3. રસોઈનો સમય ઘટાડવા માટે

✗ 4. ખોરાકનો સ્વાદ સુધારવા માટે

Question Type : **MCQ**
Question ID : **4410092128420**
Option 1 ID : **4410098379131**
Option 2 ID : **4410098379128**
Option 3 ID : **4410098379129**
Option 4 ID : **4410098379130**
Status : **Answered**
Chosen Option : **2**

Q.154 જો કોઈ કારખાનામાં 150 કામદારો કામ કરતા હોય, તો પ્રાથમિક સારવાર (First-aid) સુવિધાઓ અંગે કઈ વિશિષ્ટ જોગવાઈ સુનિશ્ચિત કરવી આવશ્યક છે?

Ans
✗ 1. પૂર્ણ-સમયના તબીબી અધિકારી (full-time medical officer) સાથેનો એમ્બ્યુલન્સ રૂમ

✗ 2. આરામ ખંડ (રેસ્ટરૂમ) અને ભોજન ખંડ (લંચરૂમ) ફરજિયાત છે.

✓ 3. દરેક 150 કામદારો દીઠ એક તાલીમબદ્ધ ફર્સ્ટ-એઇડર (પ્રાથમિક સારવાર આપનાર વ્યક્તિ) અને ફર્સ્ટ-એઇડ રૂમ (first-aid room)

✗ 4. સાબુ અને ટુવાલ સહિત હાથ-પગ ધોવા માટેની સુવિધાઓ (વોશિંગ ફેસિલીટીઝ) ફરજિયાત છે.

Question Type : **MCQ**
Question ID : **4410091364520**
Option 1 ID : **4410095389690**
Option 2 ID : **4410095389691**
Option 3 ID : **4410095389692**
Option 4 ID : **4410095389693**
Status : **Answered**
Chosen Option : **3**

Q.155 પ્લમ્બિંગ ટ્રેપમાં વોટર સીલ (water seal)નું પ્રાથમિક કાર્ય શું છે?

Ans
✗ 1. પાઇપમાં પાણીનું દબાણ વધારવું

✗ 2. વધારાના ગંદા પાણીનો સંગ્રહ કરવો

✗ 3. પીવાનું પાણી ગાળવું

✓ 4. માખીઓને પ્રવેશતી અટકાવવી અને દુર્ગંધને નિયંત્રિત કરવી

Question Type : **MCQ**
Question ID : **441009665880**
Option 1 ID : **4410092617503**
Option 2 ID : **4410092617506**
Option 3 ID : **4410092617505**
Option 4 ID : **4410092617504**
Status : **Answered**
Chosen Option : **4**

WEBSANKUL

Downloaded from websankul.com

Q.156 શૌચાલયની તાલીમ (Toilet training) સામાન્ય રીતે _____ દરમિયાન આપવામાં આવે છે.

Ans
✗ 1. પ્રારંભિક શાળાકીય અવસ્થા (5-6 વર્ષ)
✓ 2. ઉત્તર બાલ્યાવસ્થા (2-4 વર્ષ)
✗ 3. શરૂઆતની બાલ્યાવસ્થા (1-2 વર્ષ)
✗ 4. શિશુ અવસ્થા (0-1 વર્ષ)

Question Type : **MCQ**
Question ID : **441009631105**
Option 1 ID : **4410092478570**
Option 2 ID : **4410092478569**
Option 3 ID : **4410092478568**
Option 4 ID : **4410092478567**
Status : **Answered**
Chosen Option : **2**

Q.157 કયા વિટામિનની ઉણપ એન્ગ્યુલર સ્ટોમેટાઇટિસ (angular stomatitis) (મોંના ખૂણા ફાટવા), ચિલોસિસ (cheilosis) (હોઠ ફાટવા) અને ગ્લોસાઇટિસ (glossitis) (જીભ પર સોજો આવવો) ના ત્રિપુટી લક્ષણો સાથે જોડાયેલી છે?

Ans
✗ 1. રેટિનોલ (Retinol)
✓ 2. રીબોફ્લેવિન (Riboflavin)
✗ 3. કોબાલામિન (Cobalamin)
✗ 4. થાયમિન (Thiamine)

Question Type : **MCQ**
Question ID : **4410091364651**
Option 1 ID : **4410095390213**
Option 2 ID : **4410095390212**
Option 3 ID : **4410095390211**
Option 4 ID : **4410095390210**
Status : **Answered**
Chosen Option : **2**

Q.158 60 kg વજન અને 180 cm ઊંચાઈ ધરાવતી વ્યક્તિનો અંદાજિત બોડી માસ ઈન્ડેક્સ (BMI) કેટલો થાય?

Ans
✗ 1. 17.8 kg/m^2
✗ 2. 22.2 kg/m^2
✗ 3. 20.4 kg/m^2
✓ 4. 18.5 kg/m^2

Question Type : **MCQ**
Question ID : **4410091364630**
Option 1 ID : **4410095390131**
Option 2 ID : **4410095390133**
Option 3 ID : **4410095390130**
Option 4 ID : **4410095390132**
Status : **Answered**
Chosen Option : **3**

WEBSANKUL

Downloaded from websankul.com

Q.159 નીચેનામાંથી કયા માધ્યમથી જાપાનીઝ એન્સેફાલીટીસનું સંક્રમણ/ ફેલાવ (transmission) થાય છે?

Ans
✗ 1. લોહી અને તેના પ્રોડક્ટ્સ દ્વારા

✗ 2.
ખોરાક અને પાણી દ્વારા

✓ 3. ચેપવાહકો (vectors) દ્વારા

✗ 4. પ્રત્યક્ષ સંપર્ક દ્વારા

Question Type : **MCQ**
Question ID : **4410091458429**
Option 1 ID : **4410095761994**
Option 2 ID : **4410095761993**
Option 3 ID : **4410095761992**
Option 4 ID : **4410095761995**
Status : **Answered**
Chosen Option : **3**

Q.160 રસોડામાં રાંધેલા ખોરાકથી કાચા ખોરાકને અલગ રાખવો શા માટે મહત્વપૂર્ણ છે?

Ans
✓ 1. કાચી અને રાંધેલી વસ્તુઓ વચ્ચે ક્રોસ-પ્રદુષણ (ચેપનો ફેલાવો) રોકવા માટે

✗ 2. વારંવાર સ્ટોકની ચકાસણી કરવાની જરૂરિયાત ઘટાડવા માટે

✗ 3. સંગ્રહમાં ખોરાકની એકંદર વિવિધતા વધારવા માટે

✗ 4.
તૈયારી દરમિયાન રાંધેલા ભોજનનો સ્વાદ વધારવા માટે

Question Type : **MCQ**
Question ID : **4410092128417**
Option 1 ID : **4410098379118**
Option 2 ID : **4410098379116**
Option 3 ID : **4410098379119**
Option 4 ID : **4410098379117**
Status : **Answered**
Chosen Option : **1**

Q.161 નીચેનામાંથી કઈ બાબત ક્લિનિકલ સેટિંગ્સ (તબીબી કે નિદાનાત્મક પરિસરો) માં કમ્પ્યુટરનો ઉપયોગ કરવાની પ્રાથમિક લાક્ષણિકતા છે?

Ans
✗ 1. તબીબી ડોકટરો દ્વારા કરવામાં આવતી શારીરિક તપાસનું સ્થાન લેવું

✗ 2. હોસ્પિટલોમાં વહીવટી સ્ટાફની જરૂરિયાત નાબૂદ કરવી

✗ 3. માનવ નિયંત્રણ વિના જટિલ સર્જિકલ કામગીરી કરવી

✓ 4. દર્દીના આરોગ્ય રેકોર્ડ્સને ઇલેક્ટ્રોનિક રીતે સંગ્રહિત અને વ્યવસ્થિત કરવા

Question Type : **MCQ**
Question ID : **4410092667596**
Option 1 ID : **44100910490556**
Option 2 ID : **44100910490558**
Option 3 ID : **44100910490557**
Option 4 ID : **44100910490555**
Status : **Answered**
Chosen Option : **4**

WEBSANKUL

Downloaded from websankul.com

Q.162 પંચાયતી રાજની ત્રિ-સ્તરીય પ્રણાલીમાં નીચેનામાંથી કોનો સમાવેશ થતો નથી?

Ans
✗ 1. ગ્રામ પંચાયત

✗ 2. જિલ્લા પરિષદ

✗ 3. પંચાયત સમિતિ

✓ 4. રાજ્યસભા

Question Type : **MCQ**
Question ID : **4410091362569**
Option 1 ID : **4410095382216**
Option 2 ID : **4410095382218**
Option 3 ID : **4410095382217**
Option 4 ID : **4410095382219**
Status : **Answered**
Chosen Option : **4**

Q.163 ઉચ્ચ-તણાવયુક્ત (high-stress) આપત્તિની સ્થિતિમાં વ્યક્તિ અત્યંત સંસાધનયુક્ત (resourceful) બને તે માટે કયું જ્ઞાનાત્મક લક્ષણ (cognitive trait) સૌથી વધુ આવશ્યક છે?

Ans
✗ 1. કટોકટીની પરિસ્થિતિમાંથી સંપૂર્ણ ભાવનાત્મક અલિપ્તતા (emotional detachment)

✗ 2. પ્રારંભિક ધારણાઓ અથવા ઉત્કલ્પનાઓ પ્રત્યે જડ વલણ (rigid adherence) રાખવું

✗ 3. તમામ પ્રક્રિયાગત દસ્તાવેજો અથવા હસ્તક્ષેપો (interventions)ને સંપૂર્ણપણે યાદ રાખવા

✓ 4. પરિવર્તનશીલ કે લવચીક (Flexible) વિચારસરણી અને પરિસ્થિતિનું ઝડપથી પુનઃમૂલ્યાંકન કરવાની ક્ષમતા

Question Type : **MCQ**
Question ID : **4410091364466**
Option 1 ID : **4410095389484**
Option 2 ID : **4410095389485**
Option 3 ID : **4410095389482**
Option 4 ID : **4410095389483**
Status : **Answered**
Chosen Option : **4**

Q.164 કુદરતી વેન્ટિલેશનની સ્ટેક ઇફેક્ટ કે ચિમની ઇફેક્ટનો આધારભૂત અને સંચાલન સિદ્ધાંત નીચેનામાંથી કઈ ઘટના છે?

Ans
✓ 1. મકાનની અંદર અને બહારના તાપમાનના તફાવતને કારણે હવાની ઘનતામાં થતો તફાવત.

✗ 2. મિકેનિકલ પંખાઓ એટિકના ભાગમાં થોડું પોઝિટિવ પ્રેશર ઊભું કરે છે.

✗ 3. પવન ઘરની પવનમુખી (પવન આવતો હોય તે બાજુ) અને પવનવિમુખ (પવનની વિરુદ્ધ) બાજુઓ પર દબાણનો તફાવત સર્જે છે.

✗ 4. આંતરિક દિવાલો પર ભેજનું ઘનીકરણ અટકાવવા માટે ભેજ અવરોધકો (moisture barriers) નો ઉપયોગ.

Question Type : **MCQ**
Question ID : **4410091346600**
Option 1 ID : **4410095318706**
Option 2 ID : **4410095318705**
Option 3 ID : **4410095318707**
Option 4 ID : **4410095318708**
Status : **Not Answered**
Chosen Option : **--**

WEBSANKUL

Downloaded from websankul.com

Q.165 નીચેનામાંથી કયું વ્યવસાયિક સ્વાસ્થ્ય કાયદા (occupational health legislation) નું કાર્ય નથી?

Ans
✗ 1. જોખમી કામની પરિસ્થિતિઓનું નિયમન કરવું
✗ 2. રક્ષણાત્મક સાધનોની આવશ્યકતા રાખવી
✗ 3. જોખમી પદાર્થોના સંપર્કમાં આવવાની મર્યાદા નક્કી કરવી
✓ 4. પર્યાવરણીય કર (ટેક્સ) નો અમલ કરાવવો

Question Type : **MCQ**
Question ID : **4410091277372**
Option 1 ID : **4410095041399**
Option 2 ID : **4410095041402**
Option 3 ID : **4410095041401**
Option 4 ID : **4410095041400**
Status : **Answered**
Chosen Option : **4**

Q.166 હોસ્પિટલોમાં ધારદાર કચરો (Sharps Waste) ઘટાડવા માટે નીચેનામાંથી કઈ શ્રેષ્ઠ પદ્ધતિ છે?

Ans
✗ 1. સામાન્ય ઘન કચરા સાથે સળગાવી દેવો
✗ 2. સીધો જ ડસ્ટબિનમાં નિકાલ કરવો
✓ 3. નીડલ ડિસ્ટ્રોયર અને પંચર-પ્રૂફ કન્ટેનરનો ઉપયોગ કરવો
✗ 4. નિકાલજોગ (ડિસ્પોઝેબલ) સિરીંજનો ફરીથી ઉપયોગ કરવો

Question Type : **MCQ**
Question ID : **4410091256748**
Option 1 ID : **4410094959865**
Option 2 ID : **4410094959868**
Option 3 ID : **4410094959867**
Option 4 ID : **4410094959866**
Status : **Answered**
Chosen Option : **3**

Q.167 રસીકરણ એ નિવારણના કયા સ્તરનું ઉદાહરણ છે?

Ans
✗ 1. તૃતીયક
✗ 2. આદિકાળનું
✗ 3. દ્વિતીયક
✓ 4. પ્રાથમિક

Question Type : **MCQ**
Question ID : **4410091238166**
Option 1 ID : **4410094886193**
Option 2 ID : **4410094886190**
Option 3 ID : **4410094886192**
Option 4 ID : **4410094886191**
Status : **Answered**
Chosen Option : **4**

WEBSANKUL
Downloaded from websankul.com

Q.168 ભારતમાં નેશનલ ડિઝાસ્ટર મેનેજમેન્ટ ઓથોરિટી (NDMA) ની ઔપચારિક રચના ક્યારે કરવામાં આવી હતી?

Ans
✗ 1. 12 ડિસેમ્બર, 2016
✗ 2. 27 નવેમ્બર, 2020
✓ 3. 27 સપ્ટેમ્બર, 2006
✗ 4. 17 ઓક્ટોબર, 2000

Question Type : **MCQ**
Question ID : **4410091361478**
Option 1 ID : **4410095377966**
Option 2 ID : **4410095377967**
Option 3 ID : **4410095377965**
Option 4 ID : **4410095377968**
Status : **Answered**
Chosen Option : **3**

Q.169 સ્ફીયર (Sphere) ધોરણો અનુસાર, પૂરતી પહોંચ સુનિશ્ચિત કરવા અને પ્રદૂષણ (contamination) અટકાવવા માટે ઇમર્જન્સી કેમ્પ (emergency camp) ના પ્રારંભિક તબક્કામાં પ્રતિ શૌચાલય દીઠ મહત્તમ કેટલા લોકોની ભલામણ કરવામાં આવી છે?

Ans
✗ 1. શૌચાલય દીઠ 75 લોકો
✓ 2. શૌચાલય દીઠ 50 લોકો
✗ 3. શૌચાલય દીઠ 100 લોકો
✗ 4. શૌચાલય દીઠ 120 લોકો

Question Type : **MCQ**
Question ID : **4410091346605**
Option 1 ID : **4410095318727**
Option 2 ID : **4410095318726**
Option 3 ID : **4410095318728**
Option 4 ID : **4410095318725**
Status : **Answered**
Chosen Option : **2**

Q.170 નીચેનામાંથી કયું હડકવા (rabies) માટે પોસ્ટ-એક્સપોઝર પ્રોફીલેક્સિસ (PEP)માં પ્રથમ અને સૌથી મહત્વનું પગલું છે?

Ans
✓ 1. સાબુ અને વહેતા પાણીથી ઘાને સારી રીતે ધોવું
✗ 2. ધનુર (Tetanus) પ્રોફીલેક્સીસ આપવી
✗ 3. ઘા સાફ કરવા માટે ટોપિકલ એન્ટિબાયોટિક્સનો ઉપયોગ કરવો
✗ 4. ઇમ્યુનોગ્લોબ્યુલિન (immunoglobulin) ઇન્જેક્શન આપવું

Question Type : **MCQ**
Question ID : **4410091349241**
Option 1 ID : **4410095329172**
Option 2 ID : **4410095329174**
Option 3 ID : **4410095329171**
Option 4 ID : **4410095329173**
Status : **Answered**
Chosen Option : **1**

WEBSANKUL
Downloaded from websankul.com

Q.171 ત્વચાની યોગ્ય સ્વચ્છતા જાળવવાનું તાત્કાલિક પ્રાથમિક પરિણામ નીચેનામાંથી કયું છે?

Ans
✔ 1. ક્ષણિક સૂક્ષ્મજીવાણુઓ અને ગંદકી દૂર કરવી
✘ 2. ત્વચાની સપાટીનું સંપૂર્ણ સ્ટેરિલાઇઝેશન
✘ 3. વ્યવસ્થિત આનુવંશિક વિકૃતિઓનું નિવારણ
✘ 4. ઊંડા સ્થાયી માઇક્રોફ્લોરા (resident microflora)નો નાશ કરવો

Question Type : **MCQ**
Question ID : **4410092667587**
Option 1 ID : **44100910490521**
Option 2 ID : **44100910490520**
Option 3 ID : **44100910490519**
Option 4 ID : **44100910490522**
Status : **Answered**
Chosen Option : **1**

Q.172 હેલ્થકેર-એસોસિએટેડ ઇન્ફેક્શન (HAI) એટલે શું?

Ans
✔ 1. હેલ્થકેર આપતી વખતે અથવા તે પછી લાગતો ચેપ
✘ 2. સમુદાય દ્વારા મેળવેલો ચેપ
✘ 3. માત્ર એન્ટિબાયોટિકના વધુ પડતા ઉપયોગથી થતો ચેપ
✘ 4. દાખલ થતી વખતે હાજર હોય તેવો ચેપ

Question Type : **MCQ**
Question ID : **4410091278328**
Option 1 ID : **4410095045260**
Option 2 ID : **4410095045262**
Option 3 ID : **4410095045261**
Option 4 ID : **4410095045259**
Status : **Answered**
Chosen Option : **1**

Q.173 સ્ત્રીને જ્યારે પ્રથમ વખત માસિક સ્ત્રાવ (જેમાં ગર્ભાશયનું અસ્તર ખરી પડે છે અને રક્તસ્ત્રાવ થાય છે) આવે છે, ત્યારે તે ઘટના માટે કયો ચોક્કસ શબ્દ વપરાય છે?

Ans
✘ 1. મેનોરેજિયા (Menorrhagia)
✘ 2. મેનોપોઝ (Menopause)
✔ 3. મેનાર્ચ (Menarche)
✘ 4. મેટ્રોરેજિયા (Metrorrhagia)

Question Type : **MCQ**
Question ID : **441009643693**
Option 1 ID : **4410092528966**
Option 2 ID : **4410092528969**
Option 3 ID : **4410092528967**
Option 4 ID : **4410092528968**
Status : **Answered**
Chosen Option : **1**

WEBSANKUL

Downloaded from websankul.com

Q.174 આરોગ્ય તંત્રમાં જિલ્લા પરિષદનું કાર્ય શું છે?

Ans
✗ 1. રાષ્ટ્રીય આરોગ્ય આયોજન

✓ 2. PHCs અને CHCs ની દેખરેખ રાખવી

✗ 3. આંતરરાષ્ટ્રીય તબીબી સેવાઓ

✗ 4. મેડીકલ લાઇસન્સ આપવા

Question Type : **MCQ**
Question ID : **4410091278263**
Option 1 ID : **4410095044991**
Option 2 ID : **4410095044992**
Option 3 ID : **4410095044993**
Option 4 ID : **4410095044994**
Status : **Answered**
Chosen Option : **2**

Q.175 રસોડાના ગંદા પાણીમાંથી ફેટ્સ (fats), ઓઇલ (oils) અને ગ્રીસ (grease) ને અલગ કરવા અને તેને મુખ્ય ગટર લાઇનમાં પ્રવેશતા રોકવા માટે કયા વિશિષ્ટ પ્રકારના ટ્રેપ (trap) ની રચના કરવામાં આવે છે?

Ans
✗ 1. ઇન્ટરસેપ્શન ટ્રેપ (Interception Trap)

✗ 2. Q-ટ્રેપ (Q-trap)

✗ 3. ફ્લોર ટ્રેપ (Floor Trap)

✓ 4. ગ્રીસ ટ્રેપ (Grease Trap)

Question Type : **MCQ**
Question ID : **4410091364795**
Option 1 ID : **4410095390784**
Option 2 ID : **4410095390783**
Option 3 ID : **4410095390785**
Option 4 ID : **4410095390782**
Status : **Answered**
Chosen Option : **4**

Q.176 આપત્તિ વ્યવસ્થાપનમાં નાગરિક સંરક્ષણ (Civil Defence)ની મુખ્ય ભૂમિકા શું છે?

Ans
✗ 1. આપત્તિ દરમિયાન સરકારી નીતિ વિષયક નિર્ણયોનું નેતૃત્વ કરવું.

✓ 2.
વિવિધ કાર્યો માટે સ્વયંસેવકો પૂરા પાડીને કટોકટી સેવાઓને ટેકો આપવો.

✗ 3. કડક નિયમો લાગુ કરીને આપત્તિઓને થતી અટકાવવી

✗ 4. આપત્તિ પછીના પુનઃનિર્માણ કાર્યોનું વિશેષરૂપે સંચાલન કરવું

Question Type : **MCQ**
Question ID : **4410091303078**
Option 1 ID : **4410095144277**
Option 2 ID : **4410095144278**
Option 3 ID : **4410095144280**
Option 4 ID : **4410095144279**
Status : **Answered**
Chosen Option : **2**

WEBSANKUL

Downloaded from websankul.com

Q.177 હોસ્પિટલની અંદર બાયોમેડિકલ કચરાના પરિવહન દરમિયાન કઈ પદ્ધતિ સાચી છે?

Ans
✗ 1. બાયોમેડિકલ કચરાને મ્યુનિસિપલ કચરા સાથે ભેગો રાખવો અને પરિવહન કરવો

✗ 2. કચરાને ઉત્પત્તિના સ્થળથી પરિવહન સ્થળ સુધી ખુલ્લી રીતે લઈ જવો

✓ 3. દર્દીના બેડ પાસેથી પરિવહન સ્થળ સુધી કચરાને બંધ કન્ટેનરમાં લઈ જવો

✗ 4. તમામ બાયોમેડિકલ કચરાને એક ખાસ વિસ્તારમાં એક મહિના માટે સંગ્રહિત કરવો

Question Type : **MCQ**
Question ID : **4410091289556**
Option 1 ID : **4410095090154**
Option 2 ID : **4410095090152**
Option 3 ID : **4410095090153**
Option 4 ID : **4410095090155**
Status : **Answered**
Chosen Option : **3**

Q.178 નીચેનામાંથી કયો બાયોમેડિકલ કચરાનો એક સ્રોત નથી?

Ans
✓ 1. કૃષિનો કચરો

✗ 2.
સંશોધન પ્રયોગશાળાનો કચરો

✗ 3.
બ્લડ બેંકનો કચરો

✗ 4.
હોસ્પિટલનો કચરો

Question Type : **MCQ**
Question ID : **441009619381**
Option 1 ID : **4410092431673**
Option 2 ID : **4410092431672**
Option 3 ID : **4410092431674**
Option 4 ID : **4410092431671**
Status : **Answered**
Chosen Option : **1**

Q.179 BVM (બેગ-વાલ્વ-માસ્ક) વેન્ટિલેશન દરમિયાન બચાવકર્તાએ દર્દીની શ્વાસનળી (airway) અને શ્વાસોચ્છવાસ (breathing) નું પુનઃમૂલ્યાંકન કેટલી વારે કરવું જોઈએ?

Ans
✗ 1. દર 5 મિનિટે

✓ 2. વેન્ટિલેશન દરમિયાન સતત

✗ 3. માત્ર જો દર્દી ફરીથી ભાનમાં આવે ત્યારે જ

✗ 4. માત્ર 15 મિનિટ પછી

Question Type : **MCQ**
Question ID : **4410091277083**
Option 1 ID : **4410095040522**
Option 2 ID : **4410095040523**
Option 3 ID : **4410095040525**
Option 4 ID : **4410095040524**
Status : **Answered**
Chosen Option : **4**

WEBSANKUL

Downloaded from websankul.com

Q.180 જો ભારતમાં કોઈ જન્મ કે મરણની ઘટના બન્યાના એક વર્ષ પછી તેની નોંધણી માટે જાણ કરવામાં આવે, તો રજિસ્ટ્રાર માટે તેની નોંધણી કરવા માટે કોના હૂકમની જરૂર પડે છે?

Ans
✗ 1. ફર્સ્ટ-ક્લાસ મેજિસ્ટ્રેટ અથવા પ્રેસિડેન્સી મેજિસ્ટ્રેટ તરફથી હૂકમ

✗ 2. રાજ્યના મુખ્ય રજિસ્ટ્રાર તરફથી હૂકમ

✗ 3. પરિવારના વડા તરફથી એક સાદું સોગંદનામું

✓ 4. સબ-ડિવિઝનલ મેજિસ્ટ્રેટ તરફથી હૂકમ

Question Type : **MCQ**
Question ID : **4410091343384**
Option 1 ID : **4410095306018**
Option 2 ID : **4410095306020**
Option 3 ID : **4410095306017**
Option 4 ID : **4410095306019**
Status : **Answered**
Chosen Option : **1**

Q.181 તૈયાર ખાદ્યપદાર્થોને સંભાળતી વખતે મોજાં (ગ્લોવ્સ) પહેરવાનો મુખ્ય ઉદ્દેશ્ય શું છે?

Ans
✓ 1. ખોરાકને સંભાળનાર વ્યક્તિના હાથમાંથી રોગકારક સૂક્ષ્મજીવાણુઓનું ખોરાક પર થતું સ્થળાંતર ઘટાડવા માટે

✗ 2. રાસાયણિક ઓક્સિડેશનને અટકાવીને ખાદ્ય ઉત્પાદનની શેલ્ફ-લાઇફ વધારવા માટે

✗ 3. ખોરાકના સંપર્કમાં આવતી આસપાસની તમામ સપાટીઓ પર જંતુમુક્ત વાતાવરણ જાળવી રાખવા માટે

✗ 4. ખોરાક તૈયાર કરનાર વ્યક્તિની ત્વચાને, ખોરાકમાં રહેલા એસિડિક ઘટકોથી થતી બળતરાથી બચાવવા માટે

Question Type : **MCQ**
Question ID : **4410092128419**
Option 1 ID : **4410098379125**
Option 2 ID : **4410098379127**
Option 3 ID : **4410098379126**
Option 4 ID : **4410098379124**
Status : **Answered**
Chosen Option : **1**

Q.182 જાહેર આરોગ્ય નીતિ હેઠળ જન ઔષધિ યોજનાનો પ્રાથમિક ઉદ્દેશ્ય નીચેનામાંથી કયો છે?

Ans
✗ 1. તમામ સરકારી હોસ્પિટલોમાં મોંઘી બ્રાન્ડેડ દવાઓના ઉપયોગને પ્રોત્સાહન આપવું

✗ 2.
આવશ્યક દવાઓ (essential drugs) પૂરી પાડવા માટે ખાનગી ફાર્મસીઓને પ્રોત્સાહન આપવું

✓ 3. તમામ લોકોને નીચા ભાવે ગુણવત્તાયુક્ત જેનરિક દવાઓ (generic medicines) પૂરી પાડવી

✗ 4. ગરીબી રેખા નીચે જીવતા તમામ પરિવારોને મફત દવાઓ પૂરી પાડવી

Question Type : **MCQ**
Question ID : **4410091292101**
Option 1 ID : **4410095100486**
Option 2 ID : **4410095100487**
Option 3 ID : **4410095100484**
Option 4 ID : **4410095100485**
Status : **Answered**
Chosen Option : **3**

WEBSANKUL

Downloaded from websankul.com

Q.183 કયો આરોગ્ય સૂચક (health indicator) મોર્બિડિટી (બીમારીનું પ્રમાણ) અને મોર્ટાલિટી (મૃત્યુદર) બંને દર્શાવે છે?

Ans
✗ 1. ઇન્ફન્ટ મોર્ટાલિટી રેટ
✓ 2. ડિસેબિલિટી-એડજસ્ટેડ લાઇફ યર્સ
✗ 3. કેસ ફેટાલિટી રેટ
✗ 4. ક્રૂડ ડેથ રેટ

Question Type : **MCQ**
Question ID : **4410091292110**
Option 1 ID : **4410095100520**
Option 2 ID : **4410095100521**
Option 3 ID : **4410095100523**
Option 4 ID : **4410095100522**
Status : **Answered**
Chosen Option : **3**

Q.184 પ્રકાર 1 આંકડાકીય ત્રુટિ (ટાઈપ I સ્ટેટિસ્ટિકલ એરર) ક્યારે થાય છે?

Ans
✓ 1. નલ ઉત્કલ્પના (null hypothesis) સાચી છે, પરંતુ તે નકારી કાઢવામાં આવે છે ત્યારે
✗ 2. નલ ઉત્કલ્પના (null hypothesis) સાચી છે, અને તે સ્વીકારવામાં આવે છે ત્યારે
✗ 3. નલ ઉત્કલ્પના (null hypothesis) ખોટી છે, અને તે નકારી કાઢવામાં આવે છે ત્યારે
✗ 4. નલ ઉત્કલ્પના (null hypothesis) ખોટી છે, પરંતુ તે સ્વીકારવામાં આવે છે ત્યારે

Question Type : **MCQ**
Question ID : **4410091275273**
Option 1 ID : **4410095033108**
Option 2 ID : **4410095033110**
Option 3 ID : **4410095033109**
Option 4 ID : **4410095033107**
Status : **Answered**
Chosen Option : **4**

Q.185 સંસ્થામાં જલ્દી બગડી જાય તેવા (પેરિશેબલ) ખાદ્યપદાર્થોનો સંગ્રહ કરવાની ભલામણ કરેલી રીત કઈ છે?

Ans
✗ 1. જલ્દી બગડી જાય તેવા ખાદ્યપદાર્થોને ગરમીના સ્ત્રોતોની નજીક રાખવા
✗ 2. જલ્દી બગડી જાય તેવા ખાદ્યપદાર્થોને ખુલ્લા વાસણોમાં સંગ્રહિત કરવા
✓ 3. જલ્દી બગડી જાય તેવા ખાદ્યપદાર્થોને રેફ્રિજરેટરમાં રાખવા
✗ 4. જલ્દી બગડી જાય તેવા ખાદ્યપદાર્થોને ઓરડાના તાપમાને છોડી દેવા

Question Type : **MCQ**
Question ID : **4410092128415**
Option 1 ID : **4410098379108**
Option 2 ID : **4410098379110**
Option 3 ID : **4410098379109**
Option 4 ID : **4410098379111**
Status : **Answered**
Chosen Option : **3**

WEBSANKUL
Downloaded from websankul.com

Q.186 વસ્તીગણતરી (Census) આરોગ્ય સેવાઓ પૂરી પાડવામાં સામાજિક ન્યાય અને સમાનતાના સિદ્ધાંતમાં કેવી રીતે યોગદાન આપી શકે છે?

Ans
✗ 1. વ્યક્તિઓની સામાજિક-આર્થિક સ્થિતિ અનુસાર વિવિધ આવક જૂથો માટે અલગ આરોગ્ય સંભાળ પ્રણાલીઓ બનાવીને.

✗ 2. ગ્રામીણ વિસ્તારો કરતાં વધુ વસ્તી ધરાવતા શહેરોની સેવાઓને પ્રાથમિકતા આપીને.

✓ 3. નીતિ-નિર્માણમાં સંવેદનશીલ અને વંચિત સમુદાયોની જરૂરિયાતો ઓળખવામાં આવે અને તેનું નિવારણ થાય તેની ખાતરી કરીને.

✗ 4. માત્ર ઉચ્ચ શૈક્ષણિક સ્તર ધરાવતા લોકો સુધી જ આરોગ્ય સેવાઓની પહોંચ મર્યાદિત કરીને.

Question Type : **MCQ**
Question ID : **4410091345966**
Option 1 ID : **4410095316180**
Option 2 ID : **4410095316182**
Option 3 ID : **4410095316181**
Option 4 ID : **4410095316183**
Status : **Answered**
Chosen Option : **3**

Q.187 પુખ્ત વયની વ્યક્તિના ફેફસાંનું સામાન્ય અવશેષી કદ (residual volume) કેટલું હોય છે?

Ans
✓ 1. 1000-1200 ml

✗ 2. 100-150 ml

✗ 3. 200-500 ml

✗ 4. 500-700 ml

Question Type : **MCQ**
Question ID : **441009643702**
Option 1 ID : **4410092529005**
Option 2 ID : **4410092529002**
Option 3 ID : **4410092529003**
Option 4 ID : **4410092529004**
Status : **Not Answered**
Chosen Option : **--**

Q.188 એક નર્સ કામદારોને માસ્ક પહેર્યા વિના રાસાયણિક ધુમાડાના સંપર્કમાં આવતા જુએ છે. તો આ પરિસ્થિતિમાં યોગ્ય પગલું કયું છે?

Ans
✗ 1. કામદારોને ગ્લોવ્ઝ (હાથના મોજાં) પૂરા પાડવા

✗ 2. અવગણના કરવી અને આગળ વધવું

✓ 3. રિપોર્ટ કરવો અને PPE ના ઉપયોગ વિશે શિક્ષિત કરવા

✗ 4. વેન્ટિલેશન બંધ કરવું

Question Type : **MCQ**
Question ID : **4410091277327**
Option 1 ID : **4410095041227**
Option 2 ID : **4410095041224**
Option 3 ID : **4410095041225**
Option 4 ID : **4410095041226**
Status : **Answered**
Chosen Option : **3**

WEBSANKUL

Downloaded from websankul.com

Q.189 રસી કોલ્ડ ચેઈન (Vaccine Cold Chain) ના સંદર્ભમાં સંક્ષિપ્ત નામ ILR નું પૂરું નામ શું થાય છે?

Ans
✗ 1. ઇન્ટરનલ લિક્વિડ રિઝર્વ (Internal Liquid Reserve)
✗ 2. ઇમિડિએટ લોડ રેફ્રિજરેટર (Immediate Load Refrigerator)
✓ 3. આઈસ-લાઈન્ડ રેફ્રિજરેટર (Ice-Lined Refrigerator)
✗ 4. ઇન્સ્યુલેટેડ લોજિસ્ટિક રૂમ (Insulated Logistic Room)

Question Type : **MCQ**
Question ID : **4410091345921**
Option 1 ID : **4410095316006**
Option 2 ID : **4410095316007**
Option 3 ID : **4410095316004**
Option 4 ID : **4410095316005**
Status : **Answered**
Chosen Option : **3**

Q.190 જો સાબુ અને પાણી ઉપલબ્ધ ન હોય, તો હાથ સાફ કરવા માટે નીચેનામાંથી કયો શ્રેષ્ઠ વૈકલ્પિક ઉપાય છે?

Ans
✗ 1. મંદ બ્લીચ દ્રાવણની અલ્પ માત્રા (થોડો જથ્થો)
✓ 2. ઓછામાં ઓછું 60% આલ્કોહોલ ધરાવતું વોટરલેસ (પાણી વિનાનું) હેન્ડ સેનિટાઈઝર
✗ 3. સૂકો કાગળનો ટુવાલ (પેપર ટોવેલ) અથવા ટીશ્યુ પેપર
✗ 4. માત્ર વહેતા (ચાલુ) પાણીની નીચે થોડીવાર માટે હાથને ધોવા

Question Type : **MCQ**
Question ID : **4410091361539**
Option 1 ID : **4410095378211**
Option 2 ID : **4410095378212**
Option 3 ID : **4410095378209**
Option 4 ID : **4410095378210**
Status : **Answered**
Chosen Option : **2**

Q.191 કઈ પુનઃપ્રાપ્તિ તકનીક (reclamation technique) પ્રદૂષકોને સાફ કરવા માટે વનસ્પતિનો ઉપયોગ કરે છે અને ભારે ધાતુઓને શોષી લેવા માટે અતિ-સંચયક વનસ્પતિઓ (હાયપરએક્યુમ્યુલેટર પ્લાન્ટ્સ)નો ઉપયોગ કરે છે, જેની બાદમાં લણણી કરીને સુરક્ષિત રીતે નિકાલ કરવામાં આવે છે?

Ans
✓ 1. ફાયટોએક્સ્ટ્રેક્શન (Phytoextraction)
✗ 2. સોઇલ વોશિંગ (Soil washing)
✗ 3. બાયોઓગ્મેન્ટેશન (Bioaugmentation)
✗ 4. ભસ્મીકરણ (Incineration)

Question Type : **MCQ**
Question ID : **4410091346638**
Option 1 ID : **4410095318864**
Option 2 ID : **4410095318862**
Option 3 ID : **4410095318863**
Option 4 ID : **4410095318861**
Status : **Answered**
Chosen Option : **1**

WEBSANKUL

Downloaded from websankul.com

Q.192 નેશનલ હેલ્થ મિશન હેઠળ ASHA (માન્યતાપ્રાપ્ત સામાજિક આરોગ્ય કાર્યકર) કાર્યકરો નીચેનામાંથી કયું મુખ્ય કાર્ય કરે છે?

Ans
✗ 1. તેઓ તમામ કેન્દ્રિય આરોગ્ય કાર્યક્રમોની માત્ર દેખરેખ રાખે છે અને સમુદાયના લોકોની સંભાળમાં સીધી રીતે સામેલ હોતાં નથી.

✗ 2. તેઓ ફક્ત વિશિષ્ટ સેવાઓ સાથે સંભાળના ઉપચારાત્મક પાસાઓ પર ધ્યાન કેન્દ્રિત કરે છે, સંભાળના નિવારક પાસાઓ પર નહીં.

✗ 3. તેઓ ગ્રામીણ વિસ્તારોમાં બધા માટે મફત ન હોય તેવી આરોગ્ય સેવાઓના ખાનગીકરણને પ્રોત્સાહન આપે છે અને તેમની જાહેરાત કરે છે.

✓ 4. તેઓ સમુદાયના તમામ લોકોની આવશ્યક આરોગ્ય સેવાઓમાં પહોંચ અને સમુદાયની ભાગીદારી સુનિશ્ચિત કરે છે.

Question Type : **MCQ**
Question ID : **4410091292159**
Option 1 ID : **4410095100727**
Option 2 ID : **4410095100724**
Option 3 ID : **4410095100725**
Option 4 ID : **4410095100726**
Status : **Answered**
Chosen Option : **4**

Q.193 કયા પ્રકારની પાઈપ પ્રણાલી (ગટર વ્યવસ્થા) નો ઉપયોગ એક જ પાઇપલાઇનમાં સીવેજ (મળમૂત્ર અને ઘરગથ્થું ગંદું પાણી) અને વરસાદી પાણી (સરફેસ રનઓફ) બંનેના વહન માટે થાય છે?

Ans
✗ 1. અલગ પ્રણાલી

✗ 2.
આંશિક રીતે અલગ પ્રણાલી

✗ 3. ન્યુમેટિક પ્રણાલી

✓ 4. સંયુક્ત પ્રણાલી

Question Type : **MCQ**
Question ID : **4410091364787**
Option 1 ID : **4410095390751**
Option 2 ID : **4410095390750**
Option 3 ID : **4410095390752**
Option 4 ID : **4410095390753**
Status : **Answered**
Chosen Option : **4**

WEBSANKUL

Downloaded from websankul.com

Q.194 કયા ચરબી-દ્રાવ્ય (fat-soluble) વિટામિનને સામાન્ય રીતે 'પ્રજનન ક્ષમતાના વિટામિન' (fertility vitamin) તરીકે ઓળખવામાં આવે છે?

Ans
✗ 1. વિટામિન A
✗ 2. વિટામિન D
✓ 3. વિટામિન E
✗ 4. વિટામિન K

Question Type : **MCQ**
Question ID : **4410091364653**
Option 1 ID : **4410095390221**
Option 2 ID : **4410095390218**
Option 3 ID : **4410095390219**
Option 4 ID : **4410095390220**
Status : **Answered**
Chosen Option : **3**

Q.195 NRHM નું પ્રાથમિક ધ્યાન (primary focus) શેના પર હોય છે?

Ans
✗ 1. વૃદ્ધ વસ્તી (Elderly population)
✗ 2. શહેરી વસ્તી
✗ 3. ખાનગી હોસ્પિટલો (Private hospitals)
✓ 4. ગ્રામીણ વસ્તી

Question Type : **MCQ**
Question ID : **4410091309158**
Option 1 ID : **4410095168268**
Option 2 ID : **4410095168266**
Option 3 ID : **4410095168269**
Option 4 ID : **4410095168267**
Status : **Answered**
Chosen Option : **4**

Q.196 વાતાવરણમાં મુક્ત થતાં પહેલાં ગરમ એક્ઝોસ્ટ વાયુઓને ઠંડા કરવા અને તેમાંથી રજકણ દ્રવ્યો (પાર્ટિક્યુલેટ મેટર) ને દૂર કરવા માટે કયો ઘટક જવાબદાર છે?

Ans
✗ 1. રીફ્રેક્ટરી લાઈનીંગ (Refractory lining)
✗ 2. રેમ ફીડર (Ram feeder)
✗ 3. એશ કન્વેયર સિસ્ટમ (Ash conveyor system)
✓ 4. વેટ સ્ક્રબર (Wet scrubber)

Question Type : **MCQ**
Question ID : **4410091346377**
Option 1 ID : **4410095317813**
Option 2 ID : **4410095317812**
Option 3 ID : **4410095317815**
Option 4 ID : **4410095317814**
Status : **Answered**
Chosen Option : **3**

WEBSANKUL
Downloaded from websankul.com

Q.197 માનક આરોગ્ય સંભાળ માર્ગદર્શિકા મુજબ, ચેપના સંક્રમણની સાંકળને તોડવા માટે સેનિટેશન (સફાઈ) કામદાર દ્વારા કરવામાં આવતી સૌથી અસરકારક દૈનિક પ્રથા કઈ ગણાય છે?

Ans
✗ 1. જાહેર રિસેપ્શન વિસ્તારના ફ્લોર કે ભોંયતળિયાંને માઇક્રોફાઇબર કાપડથી સાફ કરવા

✓ 2. દર્દીના સંપર્ક પહેલાં અને પછી હાથની સ્વચ્છતા જાળવવી

✗ 3. દાખલ કરાયેલા તમામ દર્દીઓને ભારે એન્ટિબાયોટિક્સ દવા આપવી

✗ 4. તમામ નિયમિત વહીવટી કાર્યો માટે જંતુરહિત (sterile) મોજા પહેરવા

Question Type : **MCQ**
Question ID : **4410092667584**
Option 1 ID : **44100910490510**
Option 2 ID : **44100910490508**
Option 3 ID : **44100910490507**
Option 4 ID : **44100910490509**
Status : **Answered**
Chosen Option : **2**

Q.198 નીચેનામાંથી કયું કોવિડ-19 (COVID-19) નું સામાન્ય લક્ષણ નથી?

Ans
✗ 1. શરીરનું તાપમાન સામાન્ય કરતાં વધવું (તાવ આવવો) અથવા ઠંડી લાગવી.

✗ 2. શ્વાસ ટૂંકો પડવો અથવા શ્વાસ લેવામાં તકલીફ થવી.

✓ 3. છાતીમાં સતત, તીવ્ર દુખાવો થવો અથવા અસ્થિર એન્જાઇના (unstable angina).

✗ 4. સ્વાદ અથવા સુગંધ પારખવાની શક્તિ ગુમાવવી (એનોસ્મિયા).

Question Type : **MCQ**
Question ID : **4410091361518**
Option 1 ID : **4410095378125**
Option 2 ID : **4410095378128**
Option 3 ID : **4410095378127**
Option 4 ID : **4410095378126**
Status : **Answered**
Chosen Option : **3**

WEBSANKUL

Downloaded from websankul.com

Q.199 ઇમર્જેન્સી સંસાધન વ્યવસ્થાપન (Emergency Resource Management)માં _____નો સમાવેશ થાય છે.

Ans
✗ 1. સંસાધનોના બગાડ

✓ 2.
સંસાધનોની કાર્યક્ષમ ફાળવણી અને ઉપયોગ

✗ 3.
વ્યક્તિગત સ્ટોકના સંગ્રહણ (Individual stockpiling)

✗ 4.
સંસાધનોની સંગ્રહખોરી (Hoarding)

Question Type : **MCQ**
Question ID : **441009773218**
Option 1 ID : **4410093046868**
Option 2 ID : **4410093046865**
Option 3 ID : **4410093046867**
Option 4 ID : **4410093046866**
Status : **Answered**
Chosen Option : **2**

Q.200 ગંદા પાણીનો સ્વચ્છ અને સુરક્ષિત નિકાલ (Hygienic sewage disposal) શું અટકાવે છે?

Ans
✓ 1. રોગનું સંક્રમણ

✗ 2. ઊર્જાનો બગાડ

✗ 3. અવાજ પ્રદૂષણ

✗ 4. જળ સંરક્ષણ

Question Type : **MCQ**
Question ID : **441009748533**
Option 1 ID : **4410092947908**
Option 2 ID : **4410092947910**
Option 3 ID : **4410092947911**
Option 4 ID : **4410092947909**
Status : **Answered**
Chosen Option : **1**

WEBSANKUL

Downloaded from websankul.com

Q.201 મિલેનિયમ ડેવલપમેન્ટ ગોલ્સ (Millennium Development Goals- MDGs) હેઠળ કેટલા ધ્યેયો (goals) નિર્ધારિત કરવામાં આવ્યા છે?

Ans
✗ 1. 9
✗ 2. 7
✓ 3. 8
✗ 4. 6

Question Type : **MCQ**
Question ID : **4410091288433**
Option 1 ID : **4410095085599**
Option 2 ID : **4410095085597**
Option 3 ID : **4410095085598**
Option 4 ID : **4410095085596**
Status : **Not Answered**
Chosen Option : **--**

Q.202 નવા આરોગ્ય કાર્યક્રમમાં સમુદાયની ભાગીદારી શરૂ કરવાનું પ્રથમ પગલું કયું છે?

Ans
✗ 1. આરોગ્ય સુવિધાઓનું નિર્માણ કરવું
✗ 2. હસ્તક્ષેપ/ઉપાયોનો તાત્કાલિક અમલ કરવો
✗ 3. વધુ આરોગ્યસંભાળ પ્રદાતાઓની ભરતી કરવી
✓ 4. સમુદાયની જરૂરિયાતોનું મૂલ્યાંકન કરવું

Question Type : **MCQ**
Question ID : **4410091277088**
Option 1 ID : **4410095040545**
Option 2 ID : **4410095040542**
Option 3 ID : **4410095040544**
Option 4 ID : **4410095040543**
Status : **Answered**
Chosen Option : **4**

Q.203 મૃતદેહોના યોગ્ય નિકાલનો મુખ્ય ઉદ્દેશ શું છે?

Ans
✗ 1. અંતિમ સંસ્કારની પદ્ધતિઓનો ખર્ચ ઘટાડવો
✗ 2. જમીનની જગ્યા બચાવવી
✗ 3. આસપાસના વાતાવરણના સૌંદર્યલક્ષી દેખાવને જાળવવો
✓ 4. ચેપને અટકાવવો

Question Type : **MCQ**
Question ID : **4410091237538**
Option 1 ID : **4410094883686**
Option 2 ID : **4410094883685**
Option 3 ID : **4410094883684**
Option 4 ID : **4410094883687**
Status : **Answered**
Chosen Option : **4**

WEBSANKUL

Downloaded from websankul.com

Q.204 બોરહોલ શૌચાલયો (Borehole latrines) વિશે નીચેનામાંથી કયું વિધાન સાચું છે?

Ans
✗ 1. તેમને ઢીલી રેતાળ જમીનમાં પણ કોઈ અસ્તર (lining)ની જરૂર હોતી નથી.

✓ 2. તેમને સૌપ્રથમ 1930ના દાયકામાં રોકફેલર ફાઉન્ડેશન દ્વારા કૃમિ (hookworm)ના નિયંત્રણ માટે શરૂ કરવામાં આવ્યા હતા.

✗ 3. તેમને પાવડા વડે 10-12 મીટર ઊંડો ખાડો ખોદીને બનાવવામાં આવે છે.

✗ 4. તેમની મોટી ક્ષમતાને કારણે જાહેર સુવિધાઓ તરીકે તેમની ભલામણ કરવામાં આવે છે.

Question Type : **MCQ**
Question ID : **4410092544545**
Option 1 ID : **4410092544544**
Option 2 ID : **4410092544543**
Option 3 ID : **4410092544542**
Option 4 ID : **4410092544542**
Status : **Answered**
Chosen Option : **2**

Q.205 પ્રદૂષણનું જોખમ ઘટાડવા માટે વ્યક્તિગત સુરક્ષા સાધનો (personal protective equipment) ઉતારવાનો ભલામણ કરેલ ક્રમ કયો છે?

Ans
✓ 1. ગ્લવ્સ → ગોગલ્સ → ગાઉન → માસ્ક

✗ 2. ગોગલ્સ → ગ્લવ્સ → માસ્ક → ગાઉન

✗ 3. માસ્ક → ગાઉન → ગ્લવ્સ → ગોગલ્સ

✗ 4. ગાઉન → ગ્લવ્સ → માસ્ક → ગોગલ્સ

Question Type : **MCQ**
Question ID : **4410091101419**
Option 1 ID : **4410094343034**
Option 2 ID : **4410094343036**
Option 3 ID : **4410094343037**
Option 4 ID : **4410094343035**
Status : **Answered**
Chosen Option : **1**

Q.206 સ્મશાન ભૂમિ / મસાણ (burning ground) ની પસંદગી માટેની સૌથી મહત્ત્વની આવશ્યકતા કઈ છે?

Ans
✗ 1. તે શાળાઓની નજીક હોવું જોઈએ

✓ 2. વસવાટથી દૂર ખુલ્લી જમીનની ઉપલબ્ધતા હોવી જોઈએ

✗ 3. તે રહેણાંક વિસ્તારોની નજીક હોવું જોઈએ

✗ 4. તે પીવાના પાણીના સ્રોતોની નજીક હોવું જોઈએ

Question Type : **MCQ**
Question ID : **4410091237552**
Option 1 ID : **4410094883743**
Option 2 ID : **4410094883741**
Option 3 ID : **4410094883740**
Option 4 ID : **4410094883742**
Status : **Answered**
Chosen Option : **2**

WEBSANKUL

Downloaded from websankul.com

Q.207 સૂક્ષ્મજીવનાશન (Sterilization)ના કયા તબક્કામાં આસપાસની હવાને ચેમ્બરમાંથી કાર્યક્ષમ રીતે દૂર કરવામાં આવે છે અને વરાળને સૂક્ષ્મજીવમુક્ત (Sterilized) કરવામાં આવતા ઉત્પાદનોમાં સંપૂર્ણપણે પ્રવેશ કરવાની મંજૂરી આપે છે?

Ans ✗ 1. ઝડપી એક્ઝોસ્ટ ગુરુત્વીય તબક્કો (Fast exhaust gravity phase)

✓ 2.
પૂર્વ-વેક્યુમનો તબક્કો (Pre-Vacuum phase)

✗ 3.
ધીમો એક્ઝોસ્ટ ગુરુત્વીય તબક્કો (Slow exhaust gravity phase)

✗ 4.
વેક્યુમ પછીનો તબક્કો (Post-Vacuum phase)

Question Type : **MCQ**
Question ID : **441009620272**
Option 1 ID : **4410092435216**
Option 2 ID : **4410092435218**
Option 3 ID : **4410092435217**
Option 4 ID : **4410092435219**
Status : **Not Answered**
Chosen Option : **--**

Q.208 નીચેનામાંથી કઈ સેવાનો 'મિનિમમ નિડ્સ પ્રોગ્રામ' (MNP) માં સમાવેશ થતો નથી?

Ans ✗ 1. પ્રાથમિક આરોગ્ય સંભાળ

✓ 2. પંચાયતી રાજ સંસ્થાઓ

✗ 3. રસીકરણ અને કુટુંબ કલ્યાણ

✗ 4. માતૃત્વ અને બાળ આરોગ્ય

Question Type : **MCQ**
Question ID : **4410091328304**
Option 1 ID : **4410095244748**
Option 2 ID : **4410095244751**
Option 3 ID : **4410095244750**
Option 4 ID : **4410095244749**
Status : **Answered**
Chosen Option : **2**

WEBSANKUL
Downloaded from websankul.com

WEBSANKUL®

Downloaded from websankul.com